PHIẾU HỌC TẬP

Bài 1: Điền số lượng ở hai hình và điền dấu so sánh >, <, = vào các ô trống ở giữa.

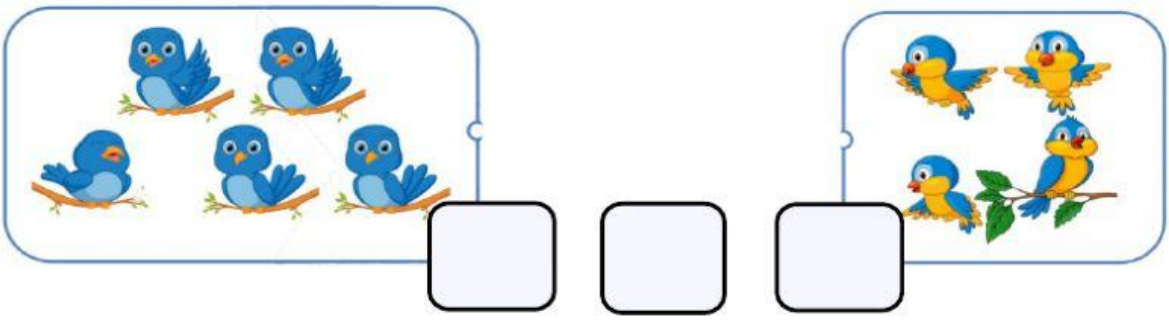



Bài 2: Đúng chọn Đ, sai chọn S:

a) Số liền trước của 41 là 42. ☐

Số liền sau của 41 là 42. ☐

b) Số liền trước của 59 là 58. ☐

Số liền trước của 59 là 60. ☐

Bài 3: Điền giờ thích hợp vào ô trống:

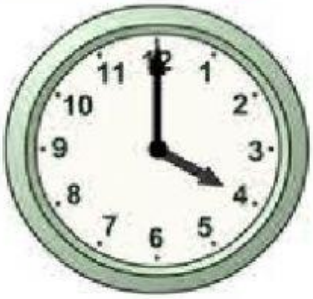

LIVEWORKSHEETS

Bài 4: Đếm hình và điền số hình vào ô trống:



Bài 5: Viết phép tính thích hợp vào ô trống bên dưới:

Có tất cả 18 con bướm, trong đó có 7 con bướm hồng. Hỏi có bao nhiêu con bướm vàng?



LIVEWORKSHEETS