கீழ்க்காணும் வடிவங்களின் பரப்பளவைக் கணக்கிடுக.
அவற்றை அளக்க 1cm x 1cm அளவு கொண்ட சதுரத்தைப் பயன்படுத்துக.

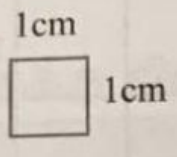

A)

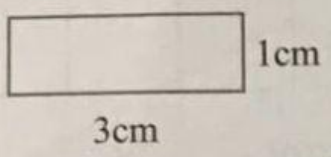

தேவைப்படும் சதுரங்கள்: .....

B)

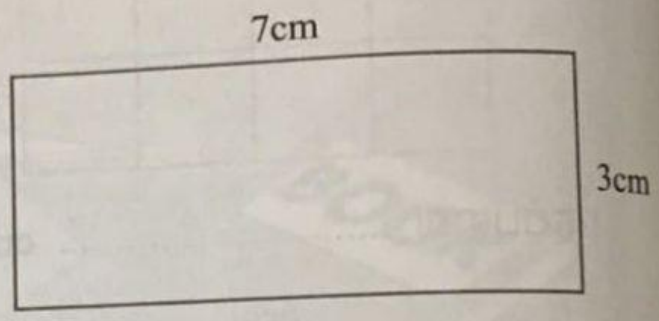

தேவைப்படும் சதுரங்கள்: .....

C)

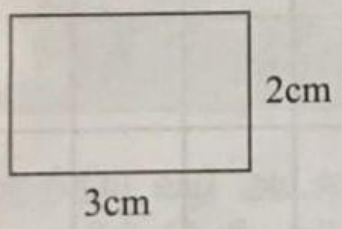

தேவைப்படும் சதுரங்கள்: .....

D)

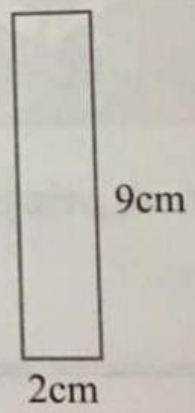

தேவைப்படும் சதுரங்கள்: .....

E)

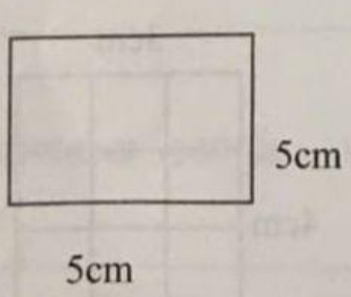

தேவைப்படும் சதுரங்கள்: .....

F)

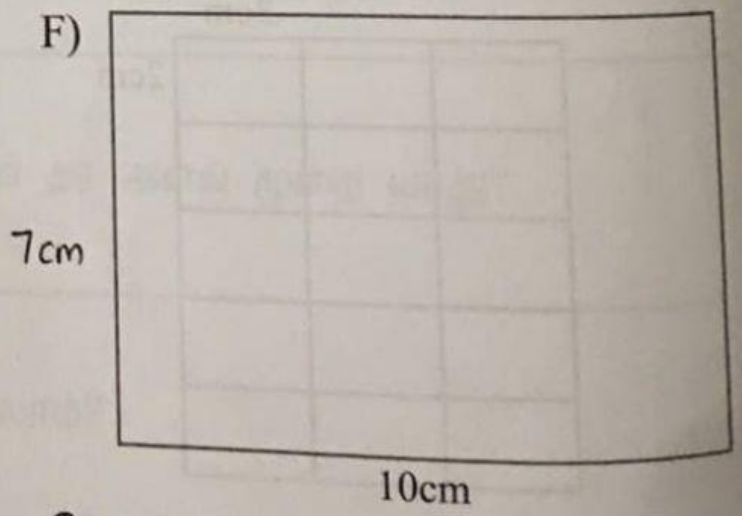

தேவைப்படும் சதுரங்கள்: .....

LIVEWORKSHEETS