TUGAS 2
KOORDINAT KARTESIUS

Neneng Kurniawati, S. Pd

Simak Video berikut ini !!!!

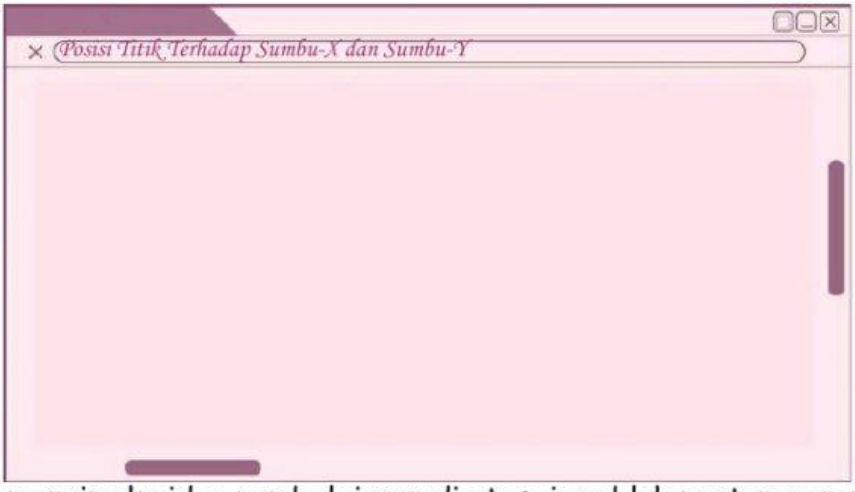

Setelah menyimak video pembelajaran di atas, jawablah pertanyaan-pertanyaan berikut !!!

1. Tentukan Koordinat titik-titik pada gambar berikut !

   Petunjuk : Drag & drop (klik/sentuh bilangan pada kotak, kemudian geser dan lepas pada gambar)

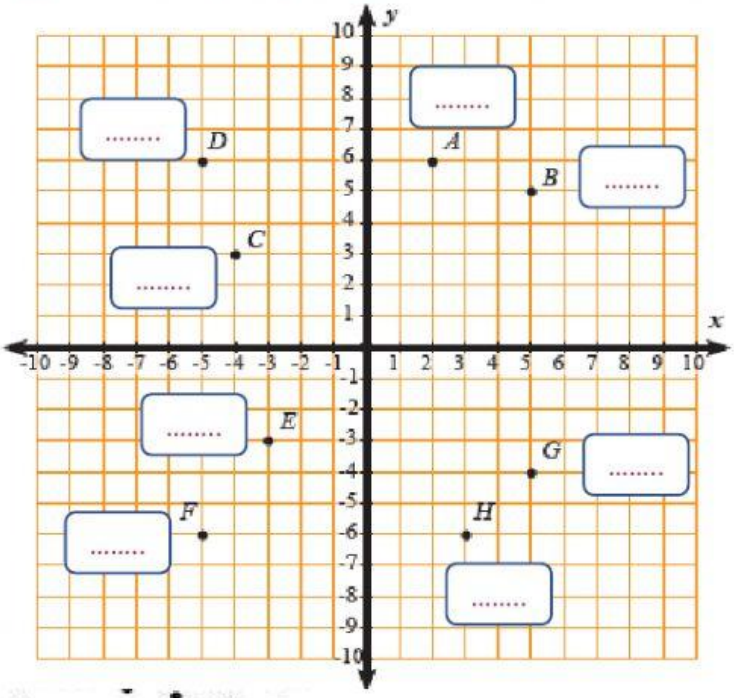

-3,-3	-4, 3
3, -4	5, -4
-5,-6	2, 6
3, -6	-5, 6
-6,-5	5, 5

rawpixel
LIVEWORKSHEETS

2. Sebutkan titik-titik yang mempunyai jarak yang sama dengan titik A terhadap sumbu-X !

Petunjuk : klik/sentuh pada kotak kecil, sampai muncul tanda checklist

	Titik B		Titik F
	Titik C		Titik G
	Titik D		Titik H
	Titik E		

3. Sebutkan titik-titik yang mempunyai jarak yang sama dengan titik B terhadap sumbu-Y !

Petunjuk : klik/sentuh pada kotak kecil, sampai muncul tanda checklist

	Titik A		Titik F
	Titik C		Titik G
	Titik D		Titik H
	Titik E		

4. Terletak pada kuadran berapa titik-titik berikut !

klik/sentuh tanda V, sampai muncul pilihan jawaban

Titik A		Titik E	
Titik B		Titik F	
Titik C		Titik G	
Titik D		Titik H	

rawpixel
LIVEWORKSHEETS

Simak Video berikut ini !!!!

5. Perhatikan Gambar berikut !!!!

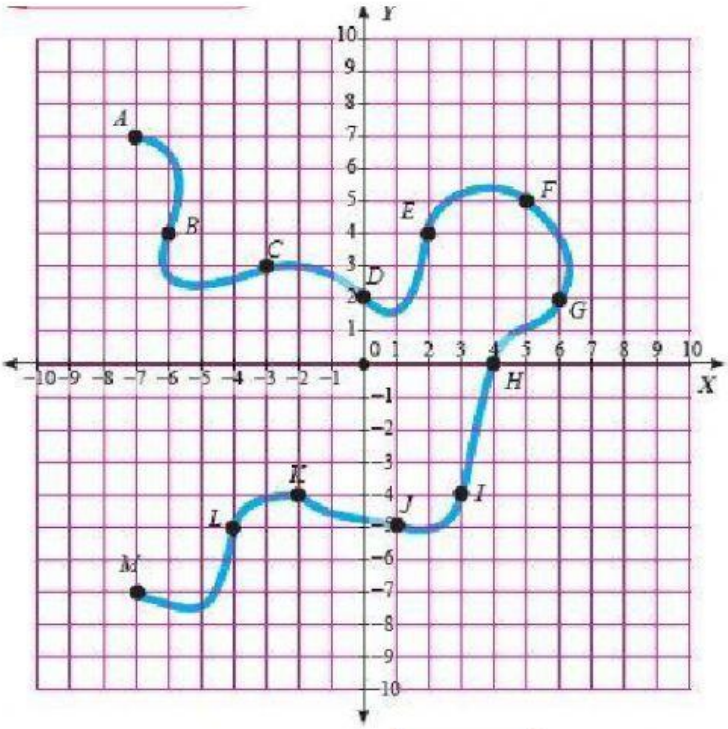

a. Koordinat titik A terhadap titik G

b. Koordinat titik B terhadap titik G

c. Koordinat titik C terhadap titik J

d. Koordinat titik D terhadap titik H

-12, 5 | -4, 8 | 4, 2 | -12, 2 | -4, 2 | -13, 5

rawpixel
LIVEWORKSHEETS