PREFEITURA MUNICIPAL DE BARRA MANSA
SECRETARIA MUNICIPAL DE EDUCAÇÃO
GERÊNCIA DE EDUCAÇÃO BÁSICA

UNIDADE ESCOLAR: _____

NOME:_____ DATA: _____

COMPONENTE CURRICULAR – MATEMÁTICA/GEOMETRIA – PROFESSOR: SEBÁ

ENSINO FUNDAMENTAL II - 7º/8º ANO - 2021 TURMA: 801

SEMANA 24 – 30 a 03 /09/21

Atividade Avaliativa de Geometria – 30 pontos

1- O valor do ângulo x na figura abaixo é:

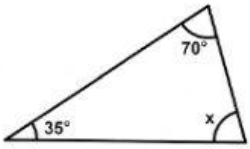

a) 75° b) 100° c) 23° d) 70°

2- O valor do ângulo externo abaixo é:

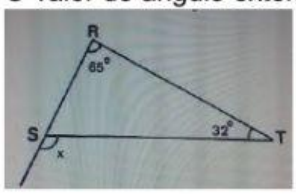

a) 180° b) 30° c) 97° d) 12°

3- O valor do ângulo α abaixo é:

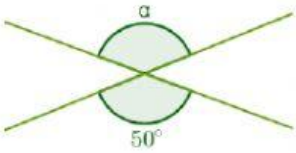

a) 130° b) 12° c) 360° d) 50°

4- Qual é o valor do ângulo x no triângulo abaixo?

a) 180° b) 30° c) 60° d) 100°

5- Qual é o valor do ângulo x abaixo?

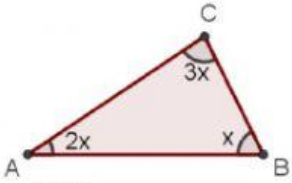

a) 10° b) 180° c) 60° d) 30°

LIVEWORKSHEETS