PREFEITURA MUNICIPAL DE BARRA MANSA
SECRETARIA MUNICIPAL DE EDUCAÇÃO
GERÊNCIA DE EDUCAÇÃO BÁSICA

UNIDADE ESCOLAR: _____

NOME:_____ DATA: _____

COMPONENTE CURRICULAR – MATEMÁTICA/GEOMETRIA – PROFESSOR: SEBÁ

ENSINO FUNDAMENTAL II - 6º ANO - 2021 TURMA: 602

SEMANA 24 – de 30 a 03 /08/21

Atividade Avaliativa de Geometria – 30 pontos

1- 1 km é igual a :

a) 1000 metros b) 100 metros c) 1 metro d) 10 metro

2- O perímetro da figura abaixo é:

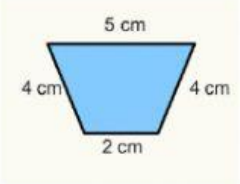

a) 15 cm b) 10 cm c) 12 cm d) 4 cm

3- O perímetro da figura baixo é:

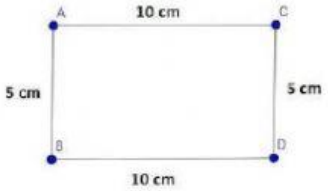

a) 30 cm b) 10 cm c) 23 cm d) 1 cm

4- Pedro anda 4 km para ir à escola. Quantos metros ele anda para ir e voltar da escola?

a) 8000 metros b) 3 metros c) 400 metros d) 600 metros

5- Qual é o perímetro do campo de futebol abaixo?

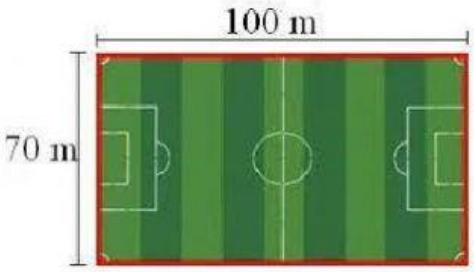

a) 340 metros b) 180 metros c) 150 metros d) 370 metros

LIVEWORKSHEETS