Самостоятелна дистанционна работа – Проценти

Име и фамилия.....клас.....

Задача 1. За всяко от изображенията в таблицата, запишете съответстващата обикновена дроб, десетична дроб и процент.

Model	Fraction	Decimal	Percent
			
			

Model	Fraction	Decimal	Percent
			
			

Задача 2. Пресметнете стойността на изразите:

А) 2% от 200= ☐

б) 15% от 120= ☐

Задача 3. За коя стойност на х е изпълнено?

А) 25% от х = 125

Х= ☐

б) х% от 25 = 2,5

х = ☐

Задача 4. Чифт обувки струват 45лв. Колко ще струват след 10% намаление?

Решение

LIVEWORKSHEETS

Задача5. Бизнесмен получил от банка кредит в размер на 25 000лв.

Колко пари ще върне на банката след 1 година, ако лихвеният процент е 8%?

Решение:

Задача 6. В едно училище от 300 ученика направили проучване за любимата им храна. 15% харесвали пица, 35% харесвали спагети, 5% харесвали хот дог. Останалите ученици харесвали посочили, че любимата им храна са бургерите.

Колко процента от учениците харесват бургери?

Решение:

LIVEWORKSHEETS