INSTITUSI LATIHAN KEMAHIRAN BELIA DAN SUKAN

LATIHAN ULANGKAJI
(REVISION ASSESSMENT)

KOD DAN NAMA SUBJEK / SUBJECT'S	UIT 2221 TEKNOLOGI MAKLUMAT				
TAHAP (LEVEL) / KOD KURSUS	2 / (SHR/ SPT/ SHF)		**SEMESTER**	2	
NO DAN TAJUK MODUL / *MODULE TITLE AND NO.*	M:01 PENGENALAN KEPADA PERKAKASAN KOMPUTER M:02 TROUBLESHOOTING KOMPUTER M:03 RANGKAIAN M:04 PENERBITAN MENGGUNAKAN MS PUBLISHER M:05 APLIKASI BLOG				
NO. DAN NAMA SUB MODUL / *SUB MODULE NO. AND NAME*	**01.01 SENIBINA KOMPUTER** **01.02 PERANTI INPUT** **01.03 PERANTI OUTPUT** **01.04 PERANTI STORAN** **01.05 PORT** **02.01 PAPAN UTAMA** **02.02 UNIT PEMPROSESAN PUSAT** **02.03 INGATAN** **02.04 KAD AUDIO** **02.05 KAD GRAFIK** **02.06 PENYELENGGARAAN KOMPUTER** **03.01 TAKRIFAN RANGKAIAN** **03.02 PENGELASAN RANGKAIAN** **03.03 SENIBINA RANGKAIAN** **03.04 TOPOLOGI RANGKAIAN** **03.05 PEMASANGAN RANGKAIAN** **03.06 KONFIGURASI RANGKAIAN** **03.07 PERKAKASAN RANGKAIAN** **03.08 TROUBLESHOOT RANGKAIAN** **04.01 PENGENALAN MS PUBLISHER** **04.02 '*WORKING WITH*' MS PUBLISHER** **04.03 PENERBITAN MS PUBLISER** **05.01 PENGENALAN BLOG** **05.02 MEMBINA BLOG** **05.03 'POSTING' BLOG**				
NAMA CALON/ *CANDIDATE'S NAME*					
NO. KAD PENGENALAN/ *NRIC NUMBER*					
***PENILAIAN KALI KE**	**1**	**2**	**3**	**MARKAH/** *SCORE*:	_____ %
TARIKH/ *DATE*			***KEPUTUSAN/** *RESULT*	**LULUS**	**GAGAL**

Bulatkan pada yang bertanda (*)

UIT 2221 ULANGKAJI

LIVEWORKSHEETS

Arahan kepada calon/ *Instruction to candidate*:

1. Tuliskan nama dan no kad pengenalan anda pada ruangan yang disediakan.
2. Calon tidak dibenarkan membuka kertas soalan sehingga dibenarkan.
3. Calon dikehendaki menjawab semua soalan **kecuali** dinyatakan sebaliknya.
4. Calon tidak dibenarkan merujuk kepada sebarang nota atau buku rujukan.
5. Jawab di atas kertas ini sahaja **kecuali** disediakan kertas jawapan yang lain.
6. Calon dikehendaki menjawab dan menghantar kertas penilaian ini di dalam tempoh masa yang dinyatakan.

Masa / *Time* : 45 MINIT

KERTAS PENILAIAN INI MENGANDUNGI 7 MUKASURAT BERCETAK

UIT 2221 ULANGKAJI

LIVEWORKSHEETS

1. Apakah singkatan bagi CPU?
   A. Central Processing Unit
   B. Central Projecting Units
   C. Control Projecting Units
   D. Control Processing Units

2. Manakah antara berikutmerupakan peranti input?
   A. Plotter
   B. Tetikus
   C. Monitor
   D. Pencetak

3. Apakah maksud singkatan untuk ALU dalam Unit Pemprosesan Pusat (CPU)?
   A. Arithmetic Logic Unit
   B. Alphabetic Logic Unit
   C. Alphabetic Linking Unit
   D. Arithmentic Linking Unit

4. Apakah jenis peranti untuk pencetak?
   A. Input
   B. Storan
   C. Output
   D. Komunikasi

5. Nyatakan contoh pencetak *impact*.
   I. Pencetak laser
   II. Pencetak garisan
   III. Pencetak titik-matriks
   IV. Pencetak label dan pos
   A. I dan II sahaja
   B. I dan IV sahaja
   C. II dan III sahaja
   D. II dan IV sahaja

6. Berikut adalah contoh-contoh bagi peranti storan **kecuali ...**
   A. pendrive
   B. pengimbas
   C. external hard disk
   D. digital versatile disc (DVD)

UIT 2221 ULANGKAJI

LIVEWORKSHEETS

7. Apakah unit asas storan dalam ingatan (*memory*)?
   A. Bit
   B. RAM
   C. Byte
   D. Kilobyte

Komponen yang melakukan tugas-tugas seperti pengiraan, perbandingan dan lain-lain tugas aritmetik

8. Apakah jenis komponen yang dimaksudkan dengan penyataan di atas?
   A. Unit proses
   B. Unit memori
   C. Unit kawalan
   D. Unit Logik Aritmetik

9. Apakah ukuran jumlah sistem masa sesaat unit pemprosesan pusat?
   A. RAM
   B. ROM
   C. CMOS
   D. Hertz

10. Berikut adalah merupakan memori tidak meruap yang boleh dipadam, ditulis semula dan bersifat kekal **kecuali...**
   A. ROM
   B. RAM
   C. CMOS
   D. Memory Flash

11. Apakah komponen-komponen yang kebiasaannya terdapat pada papan utama?
   I. Slot RAM
   II. Pencetak
   III. Kad audio
   IV. Bateri CMOS

   A. I, II dan IV sahaja
   B. I, II dan III sahaja
   C. I, III dan IV sahaja
   D. I, II, III dan IV

UIT 2221 ULANGKAJI

LIVEWORKSHEETS

12. Apakah kad yang berfungsi untuk memudahkan input dan output signal audio kepada dan daripada komputer dengan kawalan dari program komputer?
    A. Kad pc
    B. Kad input
    C. Kad audio
    D. Kad output

13. Apakah maksud singkatan bagi ROM?
    A. Read Only Memory
    B. Right Only Memory
    C. Read Other Memory
    D. Right Other Memory

14. Apakah tiga jenis asas RAM?
    I. RAM Media
    II. RAM Statik
    III. RAM Dinamik
    IV. RAM Magnetoresistive

    A. I, II dan III sahaja
    B. I, III dan IV sahaja
    C. II, III dan IV sahaja
    D. I, II, III dan IV

15. Apakah jenis senibina rangkaian yang membolehkan satu atau lebih komputer bertindak sebagai pelayan dan komputer lain pada rangkaian yang sama meminta perkhidmatan pada pelayan.
    A. Teragih
    B. Terpusat
    C. Peer to peer
    D. Client/server

16. Apakah takrifan yang tepat mengenai rangkaian?
    A. Komponen perkakasan yang menyalurkan maklumat kepada pengguna
    B. Peranti elektronik yang beroperasi di bawah kawalan arahan yang disimpan di dalam memori
    C. Perkakasan yang mengandungi komponen elektrik komputer yang digunakan untuk memproses data
    D. Koleksi beberapa komputer dan perkakasan yang dihubungkan bersama menggunakan peranti komunikasi dan media penghantaran

UIT2221 ULANGKAJI

LIVEWORKSHEETS

17. Nyatakan jenis rangkaian yang sesuai untuk **Rajah 1**?

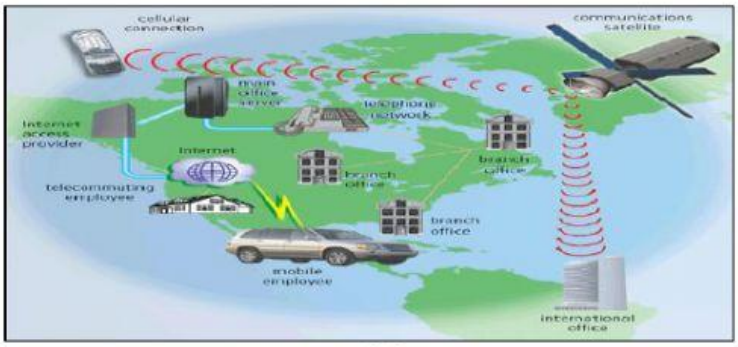

Rajah 1

A. Wide Area Network

B. Local Area Network

C. Central Area Network

D. Metropolitan Area Network

18. Apakah singkatan untuk *peer to peer*?

A. Fail

B. P2P

C. Nod

D. Client/server

19. Apakah jenis topologi rangkaian yang dipaparkan pada **Rajah 2**?

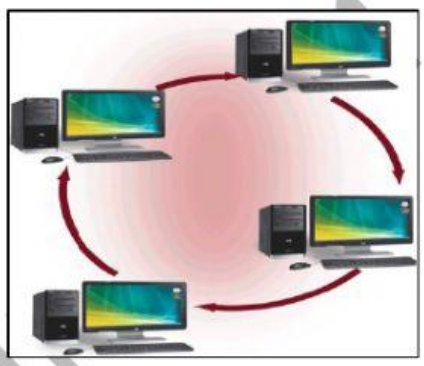

Rajah 2

A. Rangkaian bas

B. Rangkaian cincin

C. Rangkaian bintang

D. Rangkaian pelbagai

UNTUK ULANGKAJI

LIVEWORKSHEETS

20. Apakah jenis topologi rangkaian yang dipaparkan pada **Rajah 3**?

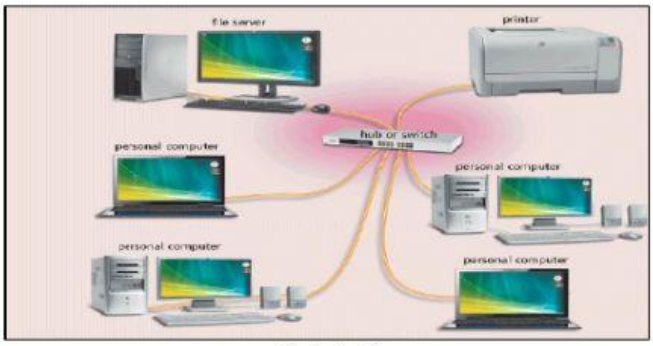

Rajah 3

A. Rangkaian bas

B. Rangkaian litar

C. Rangkaian cincin

D. Rangkaian bintang

UIT 2221 ULANGKAJI

LIVEWORKSHEETS