ชื่อ ..... ชั้น ม.1/..... เลขที่.....

ใบงานที่ 5 เรื่อง ภาพด้านหน้า ด้านข้างและด้านบนของรูปเรขาคณิตสามมิติ

1)

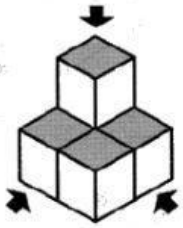

ภาพด้านบน



ภาพด้านหน้า



ภาพด้านบน

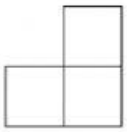

2)

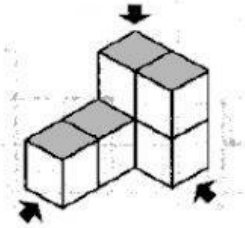

ภาพด้านบน

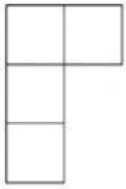

ภาพด้านหน้า



ภาพด้านข้าง

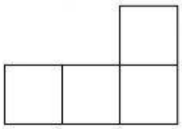

3)

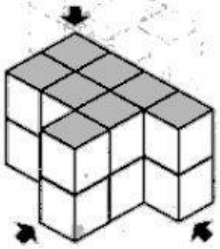

ภาพด้านบน

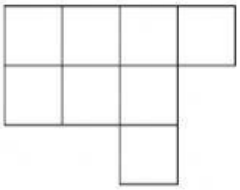

ภาพด้านหน้า



ภาพด้านบน

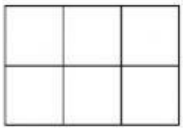

4)

ภาพด้านบน

3	2	
3	1	1

ภาพด้านหน้า

2		
2	1	
2	2	1

ภาพด้านข้าง

1	1
1	2
3	2

5)

ภาพด้านบน

2	2	1
1	1	

ภาพด้านหน้า

1	1	
2	2	1

ภาพด้านบน

	2
2	3

นำภาพที่ถูกต้องไปใส่ในช่องว่าง ข้อ 4 และ 5





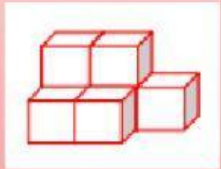



สายตาอย่างกับเหยี่ยว ไหนลองเฉลียวตามงานครูมิ้นท์หน่อย

LIVEWORKSHEETS

LIVEWORKSHEETS