Ulangan Matematika

Nama : _____

Tanggal : _____

Jawablah soal-soal di bawah ini dengan tepat dan teliti.

1. Aku terdiri dari 4 angka. Nilai ribuanku lebih banyak dari 5.000 dan lebih sedikit dari 7.000. Nilai ratusanku merupakan hasil penjumlahan dari 500 + 100. Nilai puluhan dan satuanku merupakan hasil pengurangan dari 17 – 7. Aku adalah lambang bilangan dari _____
2. Aku terdiri dari 4 angka. Nilai ribuanku lebih banyak dari 4.000 dan lebih sedikit dari 6.000. Nilai ratusanku merupakan hasil penjumlahan dari 400 + 100. Nilai puluhan dan satuanku merupakan hasil pengurangan dari 18 – 4. Aku adalah lambang bilangan dari _____
3. Aku terdiri dari 4 angka. Nilai ribuanku lebih banyak dari 3.000 dan lebih sedikit dari 5.000. Nilai ratusanku merupakan hasil penjumlahan dari 800 + 100. Nilai puluhan dan satuanku merupakan hasil pengurangan dari 16 – 3. Aku adalah lambang bilangan dari _____
4. Lambang bilangan dari bar model dibawah ini adalah _____

Ribuan	Ratusan	Puluhan	Satuan
			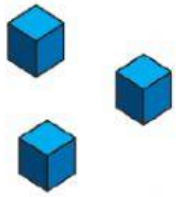

LIVEWORKSHEETS

5. Lambang bilangan dari bar model dibawah ini adalah _____

Ribuan	Ratusan	Puluhan	Satuan
			

6. 4.745 + 2.388 =

	ribuan	ratusan	puluhan	satuan
				+

7. 4.745 + 2.388 =

	ribuan	ratusan	puluhan	satuan
				+

8. Sebuah kapal selam telah menyelam sejauh 1.364 m di bawah permukaan laut. Setelah kapal selam itu menyelediki kedalaman itu, kapal selam itu kembali turun di kedalaman 2.462 m di bawah permukaan laut. Berapakah total kapal selam tersebut telah menyelam?
(Kerjakan soal diatas pada tabel dibawah ini)

LIVEWORKSHEETS

8.

ribuan	ratusan	puluhan	satuan	
				+

Jadi, _____

_____

_____

Tabel dibawah ini menunjukkan data masyarakat di Pulau Jawa yang sudah memiliki e-kartu vaksin tahap 1 dan tahap 2.

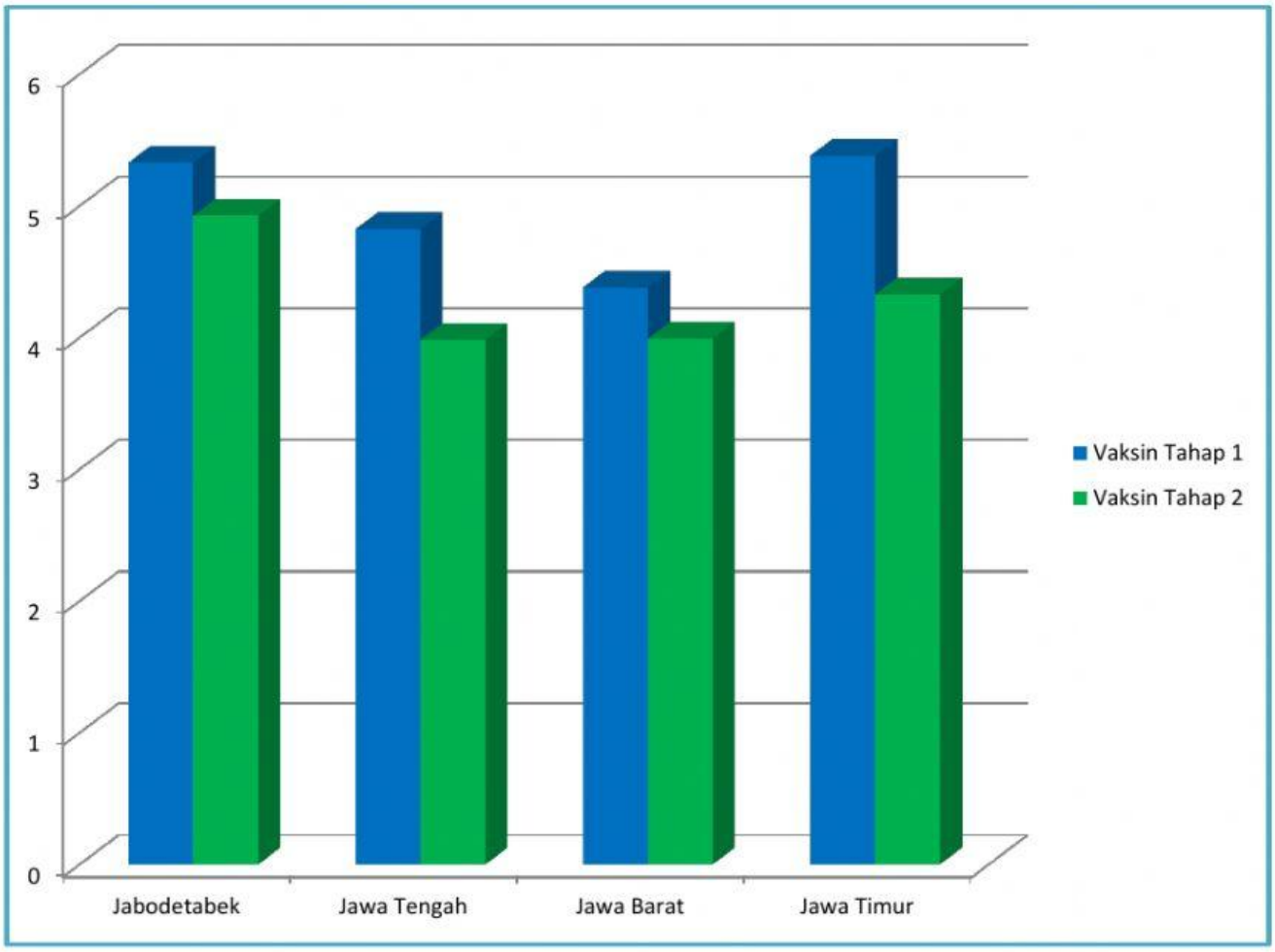

LIVEWORKSHEETS

9. Berapakah jumlah masyarakat yang sudah memiliki e-kartu vaksin tahap 1 dan tahap 2 di daerah Jabodetabek?

ribuan	ratusan	puluhan	satuan	
				+

Jadi, _____

_____

_____

10. Berapakah jumlah masyarakat yang sudah memiliki e-kartu vaksin tahap 1 dan tahap 2 di daerah Jawa Tengah?

ribuan	ratusan	puluhan	satuan	
				+

Jadi, _____

_____

_____

11. Berapakah jumlah masyarakat yang sudah memiliki e-kartu vaksin tahap 1 dan tahap 2 di daerah Jawa Barat?

ribuan	ratusan	puluhan	satuan	
				+

Jadi, _____

_____

_____

LIVEWORKSHEETS

12. Berpakah jumlah masyarakat yang sudah memiliki e-kartu vaksin tahap 1 dan tahap 2 di daerah Jawa Timur?

ribuan	ratusan	puluhan	satuan	
				+

Jadi, _____

_____

_____

13. Berpakah jumlah masyarakat yang sudah memiliki e-kartu vaksin tahap 1 dan tahap 2 di daerah Jawa Timur dan Jawa Tengah?

a. Vaksin Tahap 1

ribuan	ratusan	puluhan	satuan	
				+

Jadi, _____

_____

_____

b. Vaksin Tahap 2

ribuan	ratusan	puluhan	satuan	
				+

Jadi, _____

_____

_____

LIVEWORKSHEETS

14. Berpakah jumlah masyarakat yang sudah memiliki e-kartu vaksin tahap 1 dan tahap 2 di daerah Jawa Barat dan Jabodetabek?

a. Vaksin Tahap 1

ribuan	ratusan	puluhan	satuan	
				+

Jadi, _____

_____

_____

b. Vaksin Tahap 2

ribuan	ratusan	puluhan	satuan	
				+

Jadi, _____

_____

_____

15. Seekor Gurita raksasa berenang hingga kedalaman 1.879 m di bawah permukaan laut untuk mencari tempat bersembunyi. Kemudian dia berenang kembali sejauh 1.467 m di bawah permukaan laut dan berhenti. Berada dikedalaman berapakah gurita tersebut saat ini??

ribuan	ratusan	puluhan	satuan	
				+

Jadi, _____

_____

_____

LIVEWORKSHEETS