แบบทดสอบท้ายบทที่ 2 รายวิชาคณิตศาสตร์ ชั้นประถมศึกษาปีที่ 1

ชื่อ.....

คำชี้แจง: ให้เลือกข้อที่ถูกต้องที่สุด

1 รวมกับ

จากรูป เขียนเป็นประโยคสัญลักษณ์ได้อย่างไร

ก. 4 + 2 = ☐

ข. 5 + 2 = ☐

ค. 4 + 1 = ☐

2 3 + 2 = 5 ข้อใดต่อไปนี้ถูกต้อง

ก. 5 เป็นตัวตั้ง ข. 2 เป็นตัวบวก

ค. 3 เป็นผลบวก

3 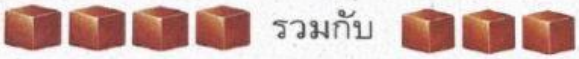 รวมกับ มีผลบวกเท่ากับข้อใด

ก. 5 ข. 6 ค. 7

4 ข้อใดต่อไปนี้ถูกต้อง

ก. 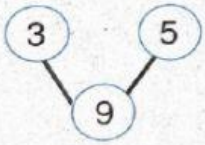

ข. 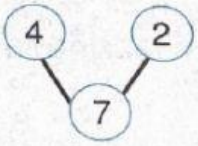

ค. 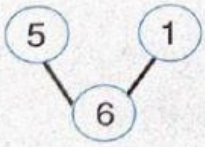

LIVEWORKSHEETS

5 ผลบวกของ 3 + 1 = ☐ ตรงกับข้อใด

ก. 4 ข. 5 ค. 6

6 ผลบวกของ 0 + 2 = ☐ ตรงกับข้อใด

ก. 1 ข. 2 ค. 3

7 6 + 3 และ 3 + 6 มีผลบวกเท่าใด เท่ากันหรือไม่

ก. 9 และ 8 ไม่เท่ากัน

ข. 8 เท่ากัน

ค. 9 เท่ากัน

8 มีส้มอยู่ 4 ผล มีเงาะมากกว่าส้ม 5 ผล มีเงาะกี่ผล จากโจทย์เขียนประโยคสัญลักษณ์ได้ดังข้อใด

ก. 4 + 5 = ☐

ข. 4 + 4 = ☐

ค. 4 + 3 = ☐

9 จากข้อ 8 คำตอบคือข้อใด

ก. 7 ผล ข. 8 ผล ค. 9 ผล

10 มีเสื้อ 2 ตัว ซื้อเพิ่มอีก 5 ตัว มีเสื้อทั้งหมดกี่ตัว

ก. 6 ตัว ข. 7 ตัว ค. 8 ตัว

LIVEWORKSHEETS