Tuas

1. Lengkapkan ruang kosong tentang model sistem tuas.

Kelas pertama	Kelas kedua	Kelas ketiga
	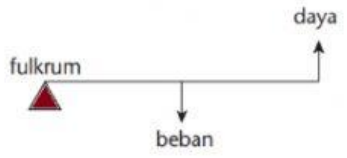	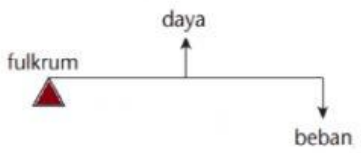
Fulkrum terletak di antara _____ dengan _____.	Beban terletak di antara _____ dengan _____.	Daya terletak di antara _____ dengan _____.
Tuas ialah sejenis mesin yang digunakan untuk _____ kerja.		

2. Kenal pasti kedudukan fulkrum (F), beban (B) dan daya (D) bagi alat yang diberi. Kemudian, nyatakan kelas tuas bagi setiap alat itu.

(a) Playar 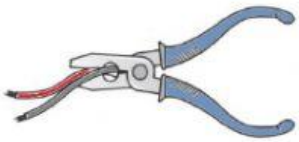 Kelas tuas: _____	(b) Penyepit ais Kelas tuas: _____	(c) Jongkang-jongket Kelas tuas : _____
(d) Pemotong kertas 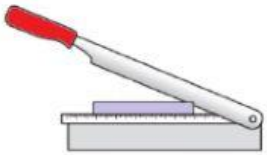 Kelas tuas: _____	(e) Tuil besi 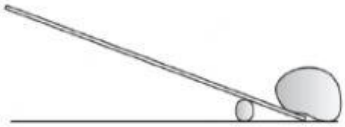 Kelas tuas: _____	(f) Kereta sorong Kelas tuas : _____

LIVEWORKSHEETS