E-LKS

Lembar Kerja Ulangan Santri Digital

SOCIAL SCIENCES VII

Kondisi Fisik Wilayah Indonesia

NAMA :

NO ABSEN :

KELAS :

SMPIT MUH AN NAJAH

LIVEWORKSHEETS

A. Analisis Peta Tektonik Indonesia

Indonesia berdasar Tektonik berada pada 3 lempeng dibawah ini :

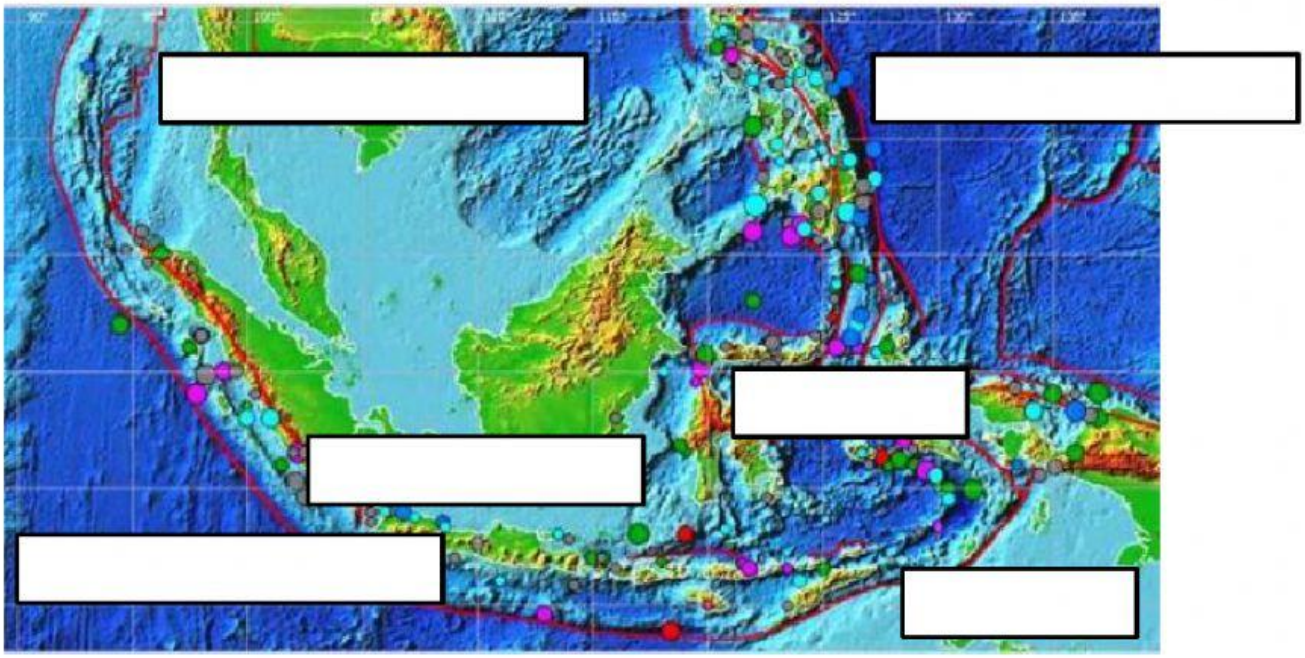

LEMPENG EURASIA	LEMPENG PASIFIK	LEMPENG INDO-AUSTRALIA
DANGKALAN SUNDA	DANGKALAN SAHUL	DANGKALAN PERALIHAN

LIVEWORKSHEETS

B. Analisis Peta Geografis dan Astronomis Indonesia
Berdasar letak geografis dan astronomis Indonesia

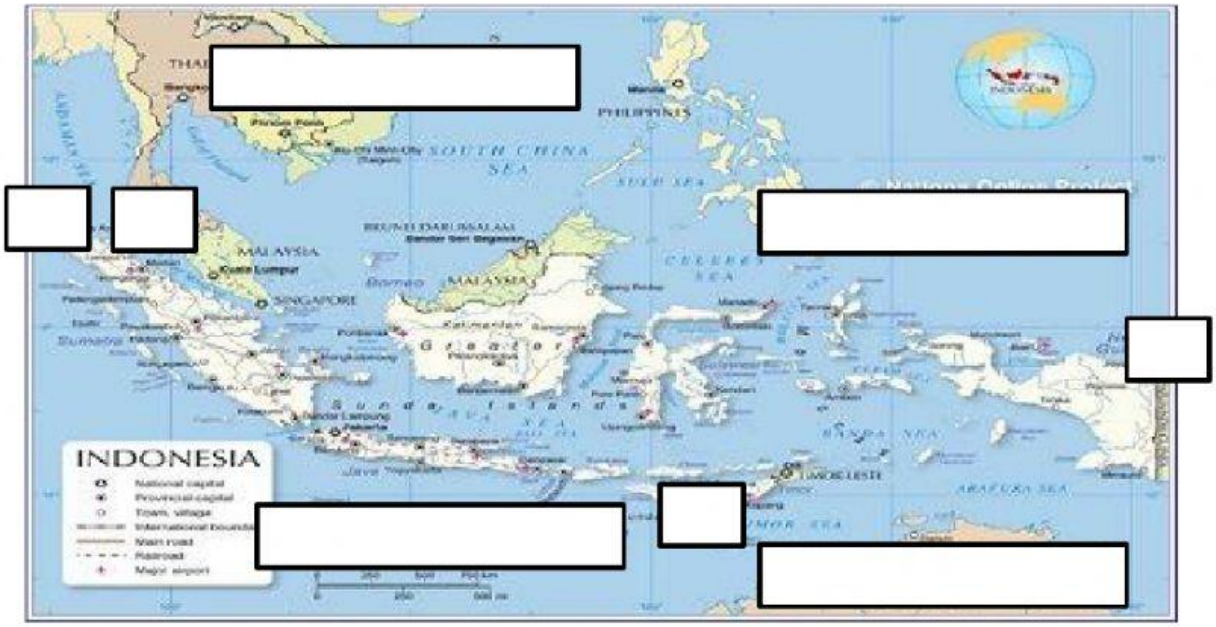

Benua Asia	Samudra Hindia	6 LU	11 LS
Benua Australia	Samudra Pasifik	94 BT	141 BT

LIVEWORKSHEETS

C. IKLIM

Jawablah dengan huruf Kapital!

A. IKLIM .....

B. IKLIM .....

C. IKLIM .....

D. IKLIM .....

Indonesia mengalami Iklim .....

Indonesia memiliki iklim karena wilayah lautt yang luas, sehingga banyak penguapan dan mengakibatkan hujan disebut sebagai iklim .....

LIVEWORKSHEETS

D. Jawablah Isian singkat dibawah ini
Masukan pilihan jawaban pada kolom keterangan

SOAL	KETERANGAN
1. Kondisi susunan bebatuan/lempeng bumi yang ada dipermukaan bumi yaitu	Papua dan Maluku Utara
2. **Lempeng Indo-Australia bertumbukan dengan Eurasia terdapat dibawah permukaan bumi pulau ...**	Dangkala
3. **Lempeng Pasifik bertumbukan dengan Eurasia terdapat dibawah permukaan bumi pulau ...**	Sahul
4. **Zona dasar laut terhitung dari garis surut terendah sampai kedalaman 100 – 200m**	Peralihan
5. **Dangkalan yang meliputi Indonesia bagian timur seperti papua dan sebagian Maluku adalah dangkalan ...**	Kondisi Astronomis
6. **Dangkalan yang meliputi Indonesia bagian barat seperti Sumatra, Jawa, dan Kalimantan adalah dangkalan ....**	Kondisi Geografis
7. **Dangkalan yang meliputi Sulawesi dan Nusa Tenggara diantara dangkalan Sunda dan Sahul yaitu dangakalan ...**	Iklim Tropis

LIVEWORKSHEETS

SOAL	KETERANGAN
8. **Letak yang didasarkan atas kondisi nyata di suatu wilayah adalah .....**	Sumatra, Jawa, dan Nusa Tenggara
9. **Letak yang didasarkan lintang dan bujur suatu wilayah adalah...**	Sunda
10. **Iklim yang terjadii di kawasan sekitar khatulistiwa dengan cuaca hangat sepanjang hari dan tidak ada musim dingin disebut iklim .....**	Kondisi Geologi

LIVEWORKSHEETS

E. Analisis Iklim Muson/Musim

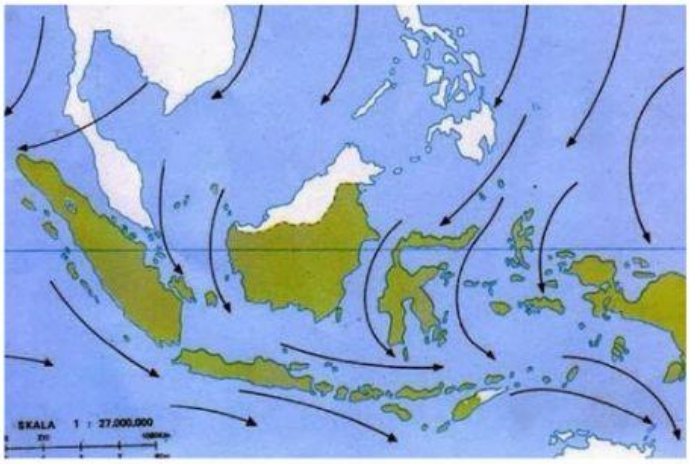

Iklim

.....

Posisi matahari berada di belahan bumi

Sebelah .....

Pergerakan angin dari benua .....

Ke benua .....

Sehingga terjadi musim

.....

Terjadi pada bulan

.....

Iklim

.....

Posisi matahari berada di belahan bumi

Sebelah .....

Pergerakan angin dari benua .....

Ke benua .....

Sehingga terjadi musim

.....

Terjadi pada bulan

.....

LIVEWORKSHEETS