Escola de Ensino fundamental José Helvercio
Professora: Jenila 8º ano C/B
Disciplina: Matemática Data: 17/08/2021
Aluno:_____

Atividades

1 - Observe a figura abaixo.

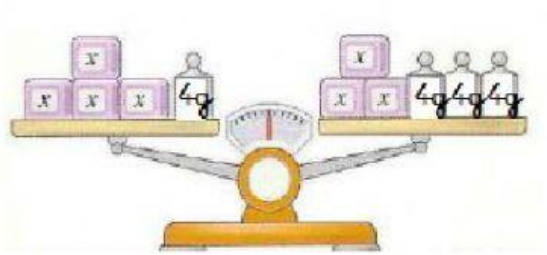

Considerando as balanças em equilíbrio, o valor de x é

A) 3 g. B) 8 g. C) 7 g. D) 10 g.

2- Veja a figura cinza desenhada na malha quadriculada. A medida da área de cada quadradinho da malha é igual $1\ cm^2$.



Qual é a medida da área dessa figura cinza?

A)$19cm^2$

B)$20cm^2$

C)$28cm^2$

D)$49cm^2$

3 – Observe a medida do campo de futebol.

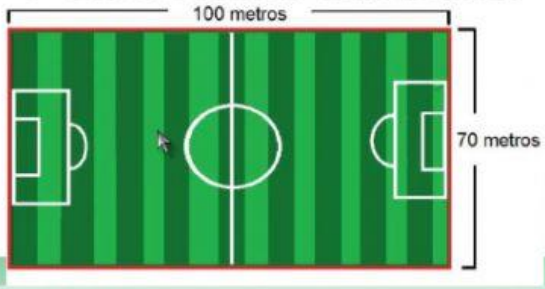

Imagine um jogador de futebol. Durante o seu treino ele dá duas voltas completas ao redor do campo. Quantos metros o jogador irá correr?

A)680 m B) 340 m C) 140 m D) 280 m

4-Considere a seguinte sequência de figuras formadas a partir de pontos.

. Quantos pontos deverá ter a próxima figura?

A) 13 B) 14 C) 15 D) 16

5-1. Observe o gráfico e responda a diferença entre o número de pessoas que visitaram o parque na segunda e sexta-feira.

A)A diferença é de 358 pessoas a mais na segunda-feira

B)A diferença é de 358 pessoas a mais na sexta-feira

C)A diferença é de 242 pessoas a mais na segunda-feira

D)A diferença é de 242 pessoas a mais na sexta-feira

SECRETARIA DE Educação Cultura e Desporto
ESTUDAR EM CASA
LIVEWORKSHEETS

LIVEWORKSHEETS