Задачи по математика

Първо помисли, после отговори!

1зад. Постави знаците > = < :

11 □ 13 15 □ 19

18 □ 18 16 □ 10 10 □ 17

LIVEWORKSHEETS

2зад. Постави в празното квадратче число, за което да е вярно:

13 < □ 18 < □ 10 < □

17 = □ 20 > □



15 > □ 18 > □

19 = □

LIVEWORKSHEETS

3 зад. Пресметни:

9 + 8 =

18 – 9 =

7 + 8 =



17 – 8 =

6 + 5 =

15 – 7 =

2 + 9 =

16 – 8 =

7 + 9 =

20 – 4 =

3 + 8 =

19 – 13 =

LIVEWORKSHEETS

4 зад.Напиши липсващите числа:

4+□=12

9+□=18

□= 8+5

3+□=12

14=7+□

□=15–9

LIVEWORKSHEETS

5 зад. Постави + или − така, че да е вярно!

6 ☐ 6=18 ☐ 6

9 ☐ 9>14 ☐ 3



15 ☐ 8>13 ☐ 8

14 ☐ 6<17 ☐ 7

LIVEWORKSHEETS

6 зад. Постави знаците > = < :

15–3 □ 2

11+7 □ 9

14+4 □ 6

14–4 □ 0

18–3 □ 6

15–4 □ 11

LIVEWORKSHEETS

7 зад. Запиши колко са съответните фигури:



LIVEWORKSHEETS

нарисува ,

а нарисува с

повече . Колко пеперуди е нарисувало момчето?

Решението на задачата е:

А) 9 + 8 = 17 (пеперуди)

Б) 9 – 8 = 1 (пеперуда)

LIVEWORKSHEETS