LEMBAR KERJA PESERTA DIDIK

TEMA 3 MAKANAN SEHAT

SUB TEMA 1 BAGAIMANA TUBUH MENGOLAH MAKANAN

NAMA :

KELAS :

UPTD SD NEGERI 01 TAEH BUKIK

KECAMATAN PAYAKUMBUH KAB. LIMA PULUH KOTA

LIVEWORKSHEETS

KEGIATAN 1

Lengkapilah kolam sistem pencernaan di bawah ini !

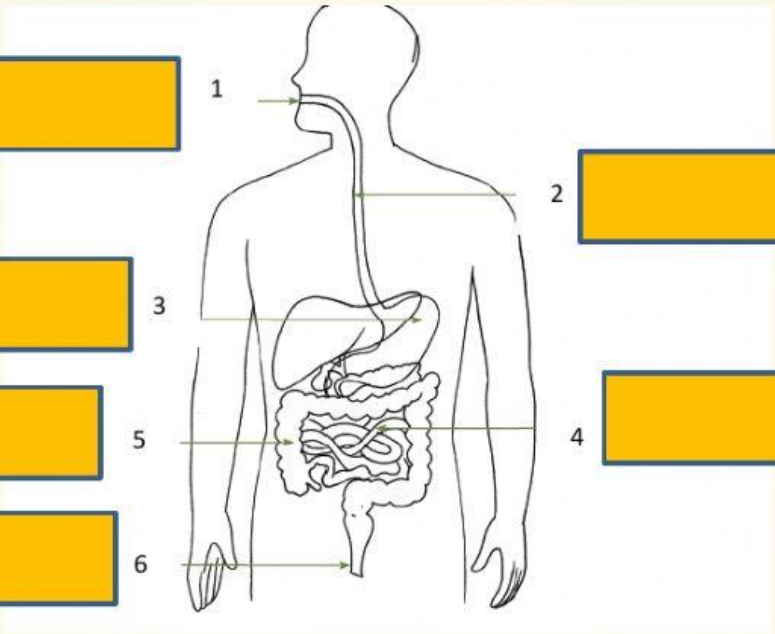

Usus kecil

kerongkongan

Usus besar

Lambung

Mulut

Anus

LIVEWORKSHEETS

KEGIATAN 2

Tulislah fungsi organ-organ pencernaan manusia di bawah ini!

Gambar 1

Fungsi :.....

.....

.....

Gambar 2

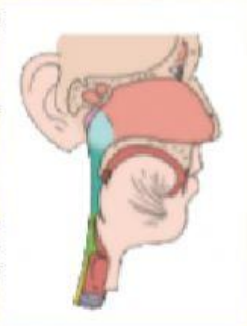

Fungsi :.....

.....

.....

LIVEWORKSHEETS

Gambar 3

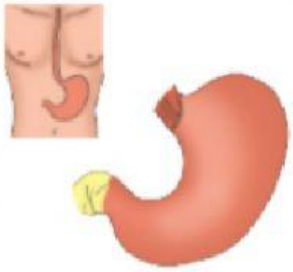

Fungsi :.....

.....

.....

Gambar 4

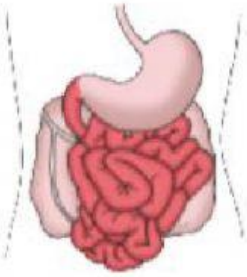

Fungsi :.....

.....

.....

Gambar 5

Fungsi :.....

.....

.....

LIVEWORKSHEETS

KEGIATAN 3

Buatlah diagram pencernaan manusia !

LIVEWORKSHEETS

KEGIATAN 4

Isilah kolam berikut berdasarkan iklan yang telah kamu amati !

Simpulkanlah isi dalam iklan tersebut berdasarkan :

1. Kata kunci
2. Gambar iklan
3. Target iklan (ditujukan untuk siapa)

Menurutku iklan tersebut di atas…….....

……

…….....

Menurutku iklan ini efektif/tidak efektif karena ……...

Untuk membuat iklan yang lebih baik aku akan ……..…….

……

…….....

Apakah fungsi iklan di atas…… ……...

……

LIVEWORKSHEETS