FEM SERVIR LA LÍNIA NUMÈRICA

1. Pinta de verd o de groc cada nombre, segons la franja on es troba.

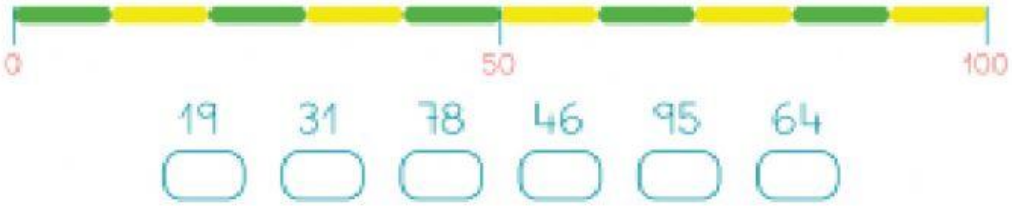

2. Escriu als cartells els nombres següents: 72, 55, 12, 38, 81 i 64.
Hi ha un nombre que no té cartell, quin és?

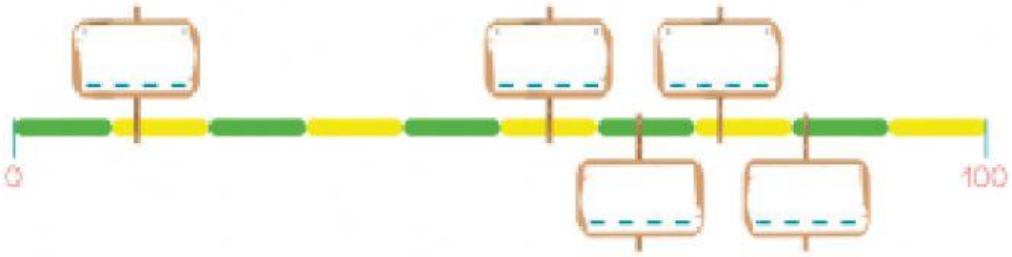

3. Escriu quins nombres poden anar dins els cartells.

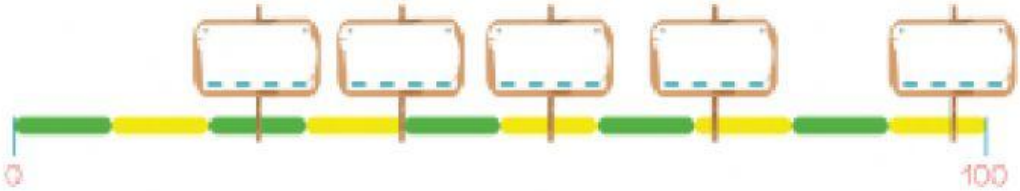

LIVEWORKSHEETS