8 物质

练习1 物质的形态

[课本: 页 160 – 170]

A 根据物质的形态，把下列物品分类。 SP8.1.1 SP8.1.2 TP1 TP3

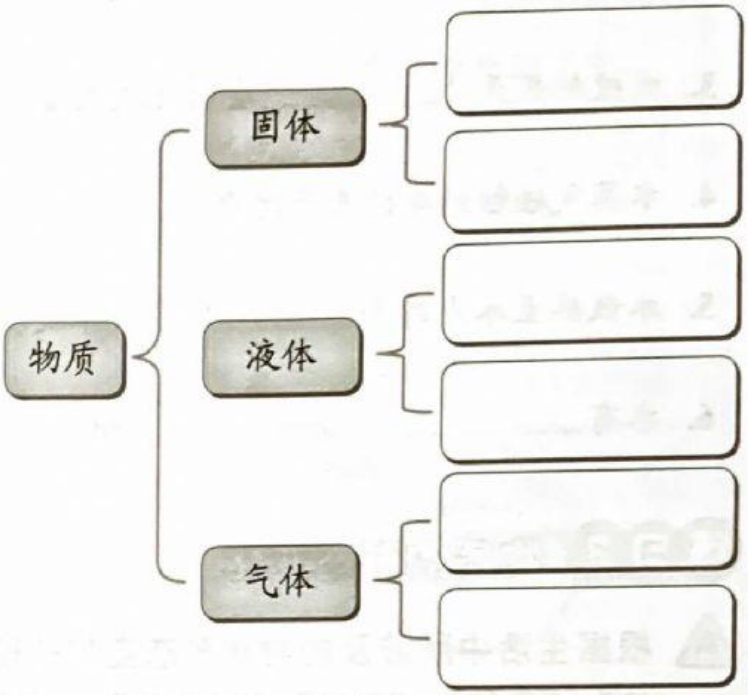

B 根据物质的粒子排列，写出物质的形态，然后把代表其性质的字母填写在空格里。 SP8.1.3 SP8.1.5 TP6

P 有质量	Q 有固定的形状	R 有固定的体积
S 没有固定的形状	T 没有固定的体积	U 占据空间

粒子排列			
(a) 物质形态			
(b) 物质性质			

LIVEWORKSHEETS