VAMOS RECORDAR

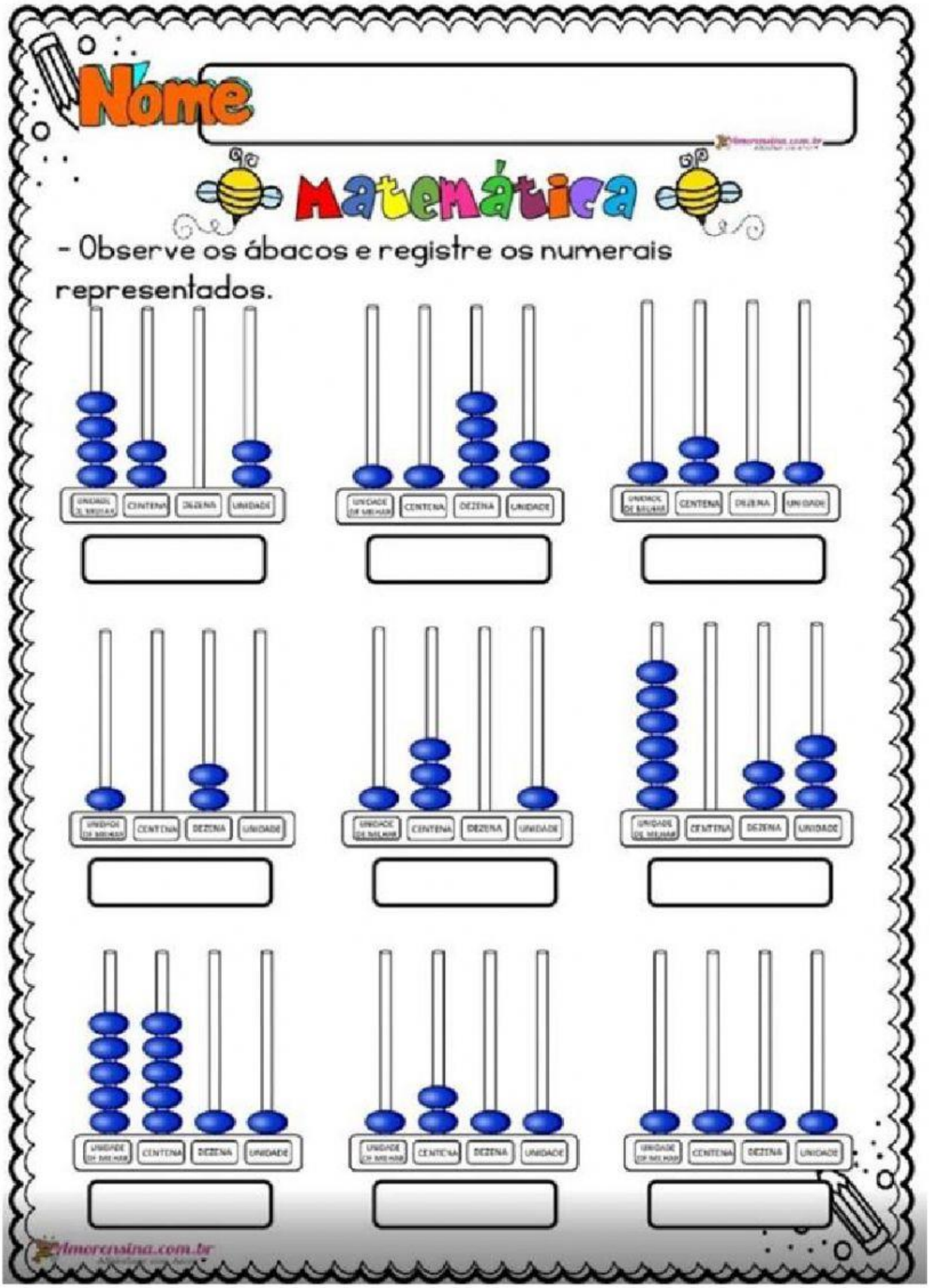

LIVEWORKSHEETS

Unidade de milhar

Decomponha os números em unidades, dezenas, centenas e unidades de milhar.

2 3 5 6

- ☐ unidades
- ☐ dezenas
- ☐ centenas
- ☐ unidades de milhar

5 6 2 3

- ☐ unidades
- ☐ dezenas
- ☐ centenas
- ☐ unidades de milhar

Represente, no quadro posicional, os números em destaque:

7 318			
U.M	C	D	U

5 426			
U.M	C	D	U

9 570			
U.M	C	D	U

Veja o número 9 456 e responda:

Quantas dezenas tem este número: _____

Que algarismo representa a centena: _____

Quantas unidades de milhar tem o número? _____

Que algarismo representa a unidade de milhar? _____

LIVEWORKSHEETS

1. Escreva os números representados nos ábacos abaixo:

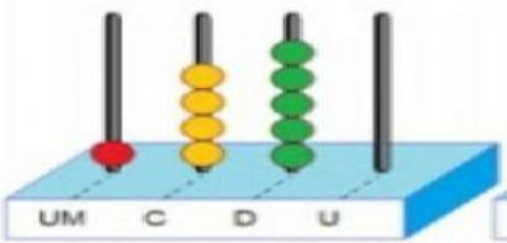

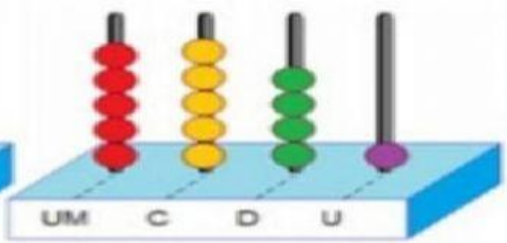

_____ _____

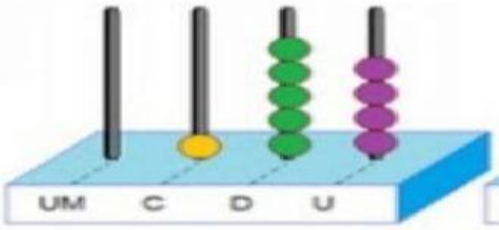

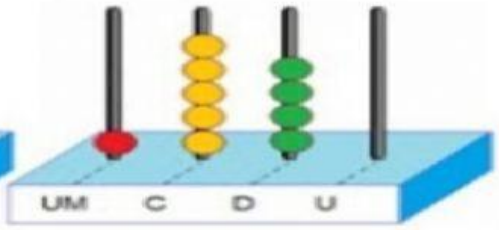

_____ _____

2. Escreva a decomposição de cada número de acordo com o modelo:

a) 15.256 = 10 000 + 5 000 + 200 + 50 + 6

b) 21.943 = _____

c) 3.984 = _____

d) 1.008 = _____

3. Considerando os algarismos apresentados a seguir, responda:

3 6 5

a) Qual o maior número que podemos formar com esses algarismos?

_____

b) Qual o menor?

_____

c) Considerando o maior número formado, qual é o valor posicional do algarismo que ocupa a casa das centenas?

_____

LIVEWORKSHEETS