PILARES CENTRAL DE ABASTO

DOCENTE: MENDEZ VALERDI TERESITA

Coloca el nombre que corresponde al esquema



litosfera | biosfera | hidrosfera | atmósfera

Tipos de agua que existen

A completa el siguiente texto

_____ es el conjunto _____ del globo terráqueo, se sitúa, entre la _____ comprende aguas de. _____

la hidrosfera contiene toda el agua del planeta, _____ agua salada (océanos, mares)

el otro _____ dulce(continentales) que los seres vivos ocupamos para subsistir, ríos, lagos, aguas subterráneas.

El _____ es el responsable de que este 3%, se regenere.

ciclo del agua | de partes liquidas | La atmosfera y la corteza terrestre | océanos, y continentes

97% representa | 3% es agua | hidrosfera terrestre

LIVEWORKSHEETS

PILARES EN LÍDER
CENTRAL DE ABASTO

DOCENTE: MENDEZ VALERDI TERESITA

Completa el siguiente esquema del ciclo del agua.

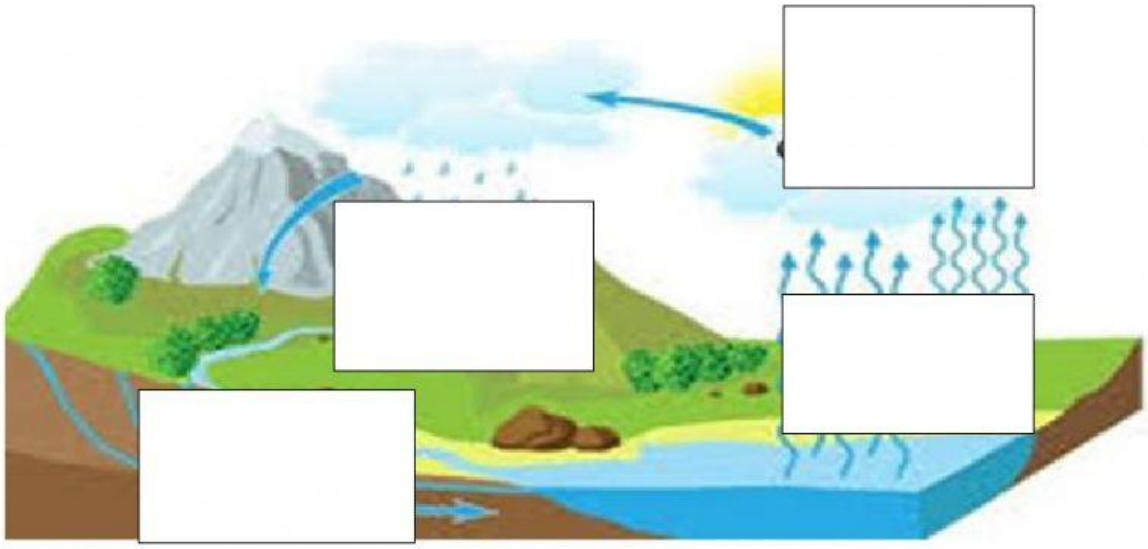

Evaporación: el ciclo del agua comienza mientras el sol calienta el agua y se evapora (Liquido a gas).

Condensación: las corrientes de aire ascendente elevan el vapor de agua y a más altura se condensa formando nubes (vapor a liquido)

Filtración: la mayor parte de esa lluvia, vuelve caer en los océanos y mares, y una parte entra en los continentes en forma de lluvia o nieve, los cuales llegan a los lagos y ríos o se filtran en la tierra.

Precipitación: las partículas en las nubes chocan formando partículas cada vez más grandes hasta que ya no pueden sostenerse en el aire y caen.

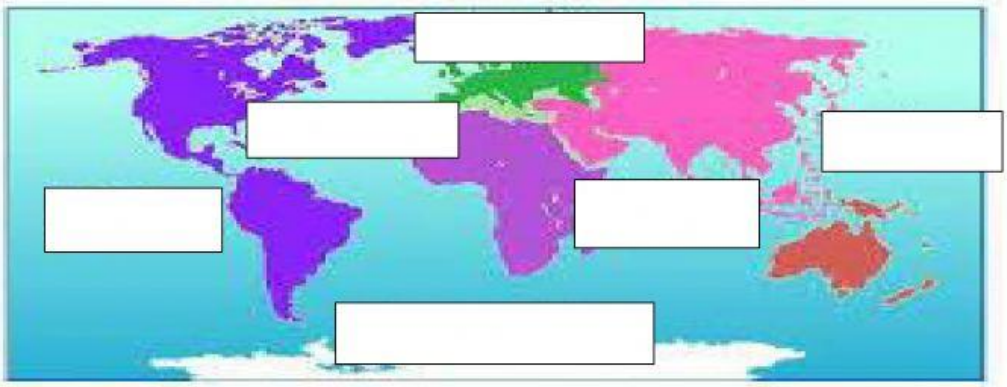

Océano ártico | Océano pacifico | Océano antártico | Océano atlántico

Océano pacifico | Océano indico

El océano más extenso y profundo es el _____

LIVEWORKSHEETS