ใบงานออนไลน์

เรื่อง การบวก ลบ คูณ หารระคน ของทศนิยม

ชื่อ .....ชั้นป.6/.....เลขที่.....

คำชี้แจง หาผลลัพธ์ของโจทย์ระคนต่อไปนี้ (ลากจำนวนมาเติมให้ในช่อง)
เงื่อนไข คือ ให้เริ่มทำตามลำดับทางคณิตศาสตร์ และเลือกจำนวนที่ซ้ำกัน จากซ้ายไปตัวที่ 1 ถัดไปเรื่อย ๆ

1) 2.082 + 3.4 × 7.06

			7	0	6
				3	4
		2	0	8	2

×

+

0	0	0	0	1	1	2	2
2	2	2	4	4	4	6	6
8	8	8					

LIVEWORKSHEETS

ใบงานออนไลน์

เรื่อง การบวก ลบ คูณ หารระคน ของทศนิยม

คำชี้แจง หาผลลัพธ์ของโจทย์ระคนต่อไปนี้ (ลากจำนวนมาเติมให้ในช่อง)
เงื่อนไข คือ ให้เริ่มทำตามลำดับทางคณิตศาสตร์ และเลือกจำนวนที่ซ้ำกัน จากซ้ายไปตัวที่ 1 ถัดไปเรื่อย ๆ

2) 12 ÷ 8 −0.753

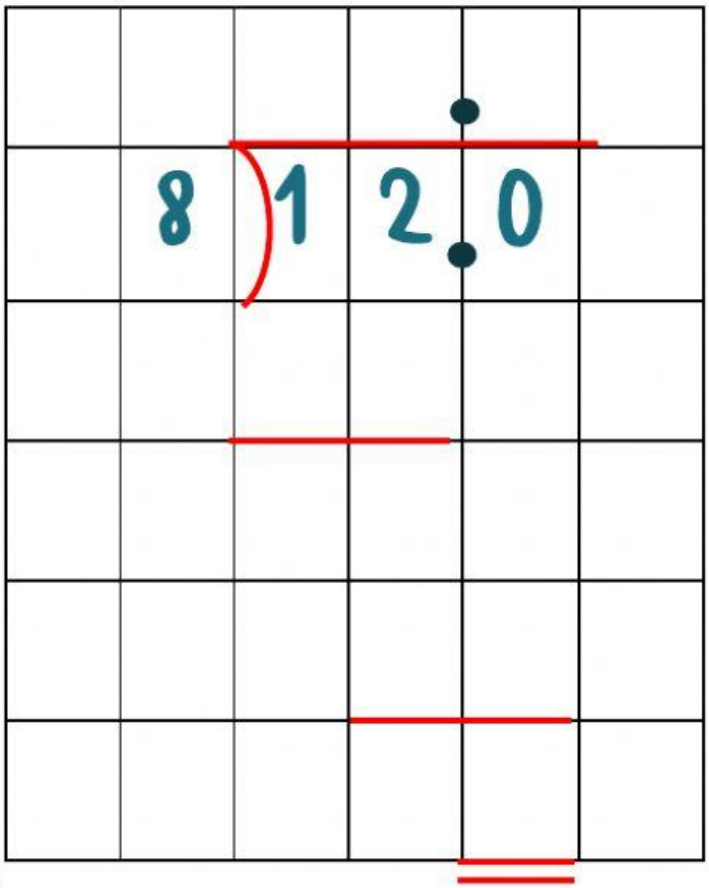

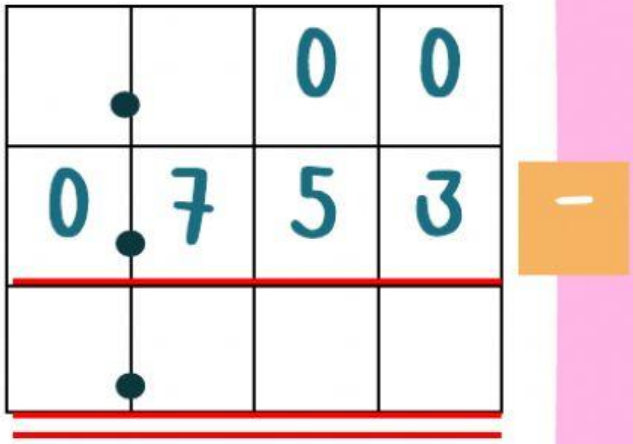

0 0 0 0 1 1 4

4 4 5 5 7 7 8

LIVEWORKSHEETS

ใบงานออนไลน์

เรื่อง การบวก ลบ คูณ หารระคน ของทศนิยม

คำชี้แจง หาผลลัพธ์ของโจทย์ระคนต่อไปนี้ (ลากจำนวนมาเติมให้ในช่อง)
เงื่อนไข คือ ให้เริ่มทำตามลำดับทางคณิตศาสตร์ และเลือกจำนวนที่ซ้ำกัน จากซ้ายไปตัวที่ 1 ถัดไปเรื่อย ๆ

3) $8 \times 1.9 \div 2$

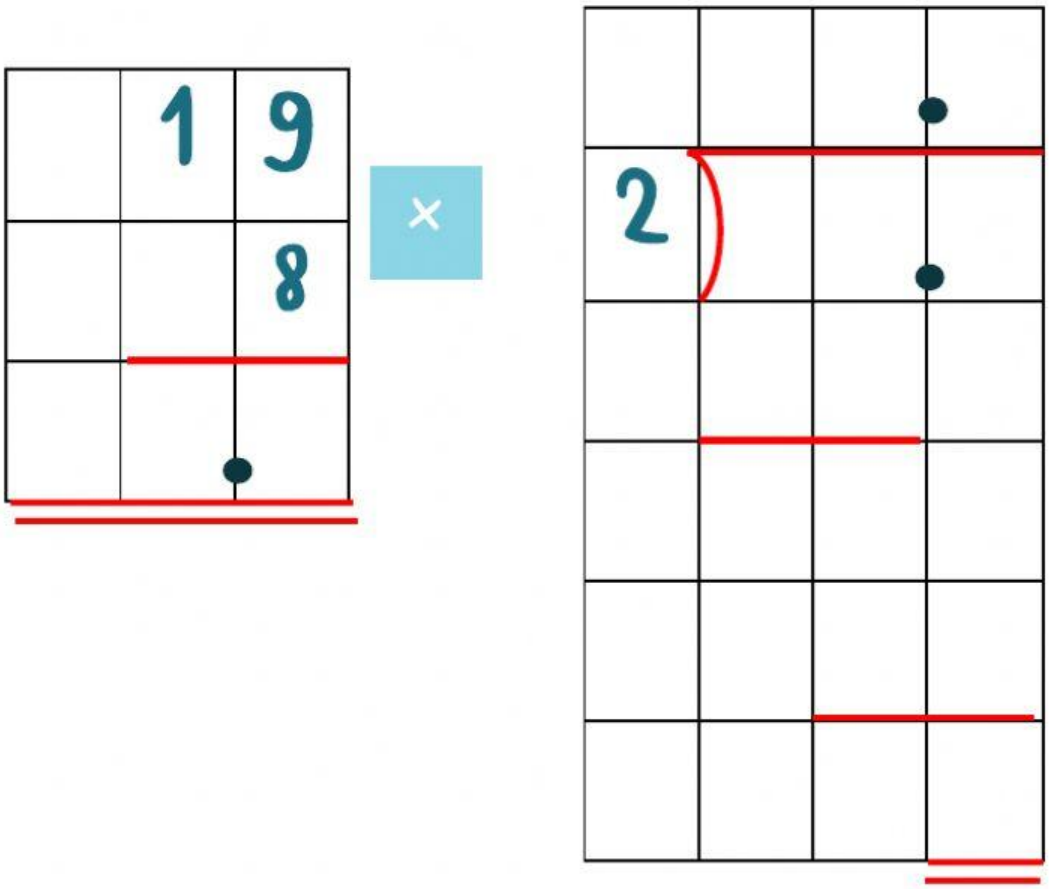

0 1 1 1 1 1 2 2

2 2 4 5 5 6 7

LIVEWORKSHEETS