单元九 水的循环（复习）

姓名：

A. 下图显示自然界中水的循环的过程，在空格中写出**正确的字母**。

*Gambar di bawah adalah tentang kitaran air, tulis **huruf yang betul** dalam ruang yang diberikan.*



1. 以下说明代表哪个水的循环过程？

(a) 水受热形成水蒸气。

(b) 当云变重时，便会落下形成雨。

(c) 小水滴聚在一起形成云。

(d) 雨水重新流入大海。

(e) 水蒸气受冷凝聚成小水滴。

2. 根据自然界中水的循环过程完成下图。

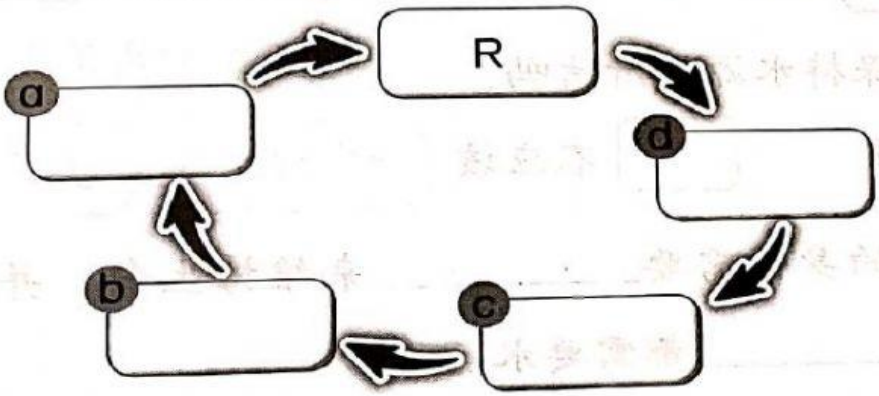

LIVEWORKSHEETS

B. 把正确的答案**拉入**有关的空格里。***Drag and drop*** *jawapan yang betul ke dalam ruangan yang disediakan.*



C. 水流受阻会带来什么影响？选择正确的答案。*Apakah kesan kitaran air disekat. Pilih jawapan yang betul.*

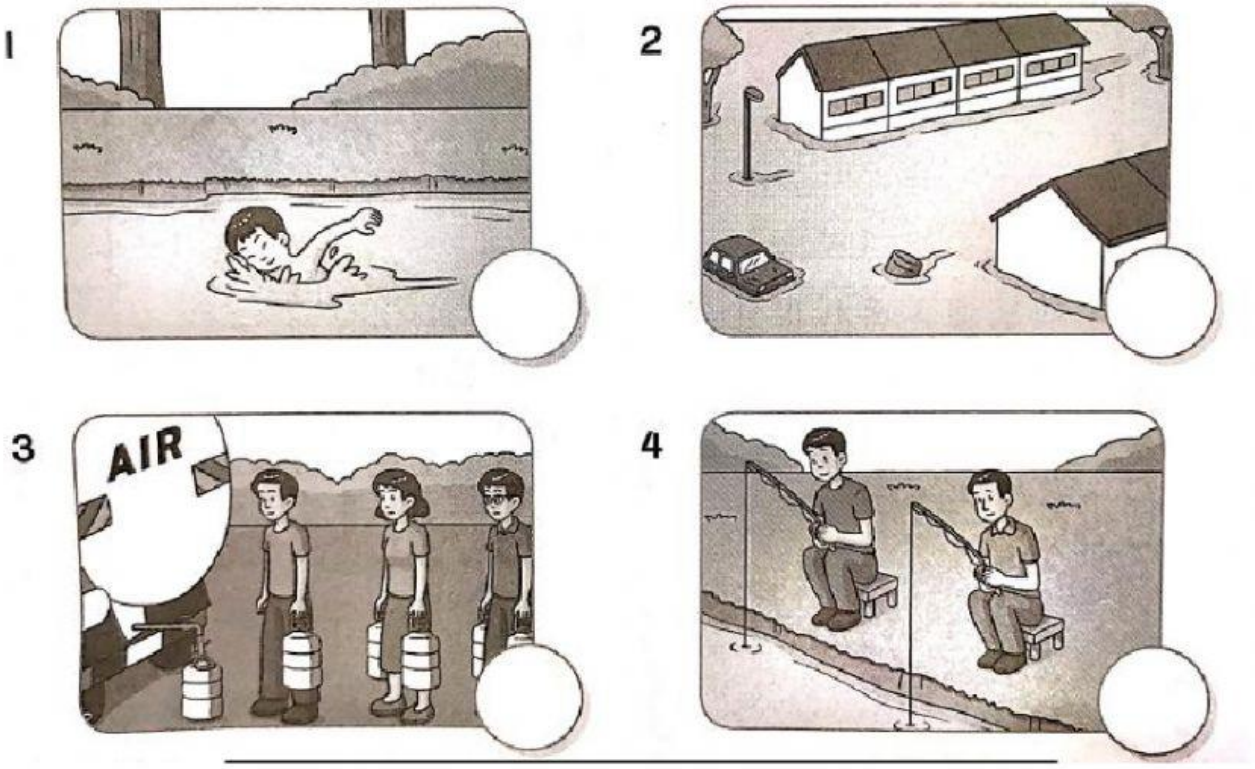

LIVEWORKSHEETS