小晶晶教育中心
2021 年上·半年评审

试卷一

[40 分]

圈出正确的答案。

1. 把 6 个万、3 个十和 7 个一写成整数。

A 63 700　　**B** 60 370
C 60 307　　**D** 60 037

2. 图 1 显示三张数目卡。

38 949	**34 899**	**9 984**

图 1

写出最大的数目的千位近似值。

A 10 000　　**B** 35 000
C 39 000　　**D** 99 000

3. 图 2 显示四张数目卡。

UPSR 2019

12 019	***X***	**9 358**	**42 932**

图 2

这四张卡的数目的和是 90 000。X 的值是多少？

A 25 619　　**B** 25 691
C 26 591　　**D** 26 951

4. 20 000 − 76 − 7 849 =

UPSR 2017

A 12 075　　**B** 12 077
C 12 085　　**D** 19 924

5. RM4 105 + 3 955 sen − RM187.78 =

UPSR 2018

A RM3 877.67　　**B** RM3 956.77
C RM4 144.55　　**D** RM4 332.33

6. 图 3 显示一条不完整的数轴。

CT



图 3

计算 $Y + 3\frac{1}{2}$ 的答案。

A $6\frac{7}{10}$　　**B** $6\frac{9}{10}$
C $7\frac{1}{5}$　　**D** $7\frac{1}{10}$

7. 哪项算式的商没有余数？

A 49 576 ÷ 54
B 34 398 ÷ 63
C 33 100 ÷ 38
D 22 501 ÷ 29

8. 图 4 显示一个数目。

49 293

图 4

计算该数目里两个同样的数字的数值的和，然后再减去 3 285。

A 12 375　　**B** 12 195
C 5 805　　**D** 5 625

9. 7 053 + q = 13 602

计算 q 的数值。

A 20 655　　**B** 10 655
C 6 559　　**D** 6 549

LIVEWORKSHEETS

10. 图 5 显示一张数目卡。

19 4_2

图 5

图 5 的数目的百位近似值是 19 400。该数目的横线上有可能是什么数字?

A 7　　**B** 6

C 5　　**D** 4

11. 下面显示三个人的对话。

KBAT

翔翔：“我的储蓄有 RM3 752。”

丽丽：“你的储蓄乘 3 后除以 2，就是我的储蓄的数额。”

美美：“哈哈，如果那金额再乘 5 后除以 8，就相等于我的储蓄的数额。”

储蓄最多的数额与储蓄最少的数额的差是多少?

A RM1 876.00

B RM2 110.50

C RM3 517.50

D RM24 388.00

12. P 的值和 Q 的值各是多少?

$$\begin{array}{r} 3\ \boxed{P}\ 6 \\ +\ 1\ 8\ \boxed{Q} \\ \hline 5\ 7\ 1 \\ \hline \end{array}$$

	P	Q
A	8	1
B	8	5
C	9	1
D	9	5

13. 图 6 显示一个圆圈图。

i-THINK

$1\,125 \times 15 = e$　　$675 \times 25 = f$

16 875

$482 \times 35 = g$　　$375 \times 45 = h$

图 6

哪项积数不等于 16 875?

A e　　**B** f

C g　　**D** h

14. $15 - 8\frac{2}{3} - 4\frac{1}{8} =$

A $2\frac{5}{24}$　　**B** $2\frac{11}{24}$

C $2\frac{13}{24}$　　**D** $3\frac{13}{24}$

15. 图 7 显示两个算式。

CT

7 777 × 9 = 69 993

777 × 9 = 6 993

图 7

观察图 7，写出 77 × 9 的积数。

A 69 993

B 6 993

C 6 933

D 693

16. 538.7 + 1 294 + 31.54 =

A 2 138.1

B 1 864.24

C 983.8

D 699.64

LIVEWORKSHEETS

17. 表 1 显示一家商店所给予的优惠。

购买的数额	回扣券
RM100 至 RM499.99	RM5
RM500 至 RM999.99	RM50
RM1 000 或以上	RM150

表 1

贝尔买了 RM1 634.45 的商品，贝尔可获得多少金额的回扣券？

A RM150　　**B** RM200

C RM205　　**D** RM210

18. 表 2 显示分数与百分比的互化。

KBAT

分数	百分比
$\frac{5}{8}$	65%
$\frac{3}{4}$	85%
$\frac{7}{10}$	70%
$\frac{2}{5}$	60%

表 2

表 2 的分数与百分比的互化只有一组是正确的。哪项说明里的数量所占的百分比与表 2 里正确的百分比相等？

A 在 20 个面包中，有 12 个坏了

B 在 100 分里，晓明考获 75 分

C 在 50 个山竹里，有 35 个卖出了

D 一段 96 行字的文章，删去了 48 行

19. 34 255 ÷ 34 =

A 17 余 17　　**B** 107 余 17

C 1 007　　**D** 1 007 余 17

20. 图 8 显示三种洗发剂的体积。

图 8

哪项关于洗发剂体积的说明是正确的？

A 洗发剂 Y 的体积是洗发剂 X 的 50%

B 洗发剂 X 的体积是洗发剂 Z 的 650%

C 洗发剂 X 的体积是洗发剂 Y 的 50%

D 洗发剂 Z 的体积是洗发剂 X 的 650%

21. 下面显示两个邻居在公园相遇时的谈话。

王伯伯和林叔叔的家里一共剩下多少公斤的榴梿？

A $3\frac{7}{8}$　　**B** $6\frac{2}{5}$

C $7\frac{1}{10}$　　**D** $10\frac{3}{10}$

LIVEWORKSHEETS

22. 一袋米的质量是 5.35 kg。民浩的质量是这袋米的质量的 17 倍。以 kg 为单位，计算民浩的质量。

A 270.95　　B 90.95

C 89.65　　D 42.80

23. 表 3 显示三个学生的身高。

学生	身高
培文	比李达矮 3.7 cm
李达	129.34 cm
贤哲	比培文矮 0.89 cm

表 3

贤哲的身高是多少 cm?

A 129.34　　B 128.97

C 128.08　　D 124.75

24. 图 9 显示文艺的储蓄。



图 9

计算文艺的储蓄乘以 48 的积数。

A RM22 716.00

B RM22 717.50

C RM22 718.40

D RM28 656.00

25. 表 4 显示两个学生的存款。

UPSR 2017 No. 34

金额	法米	凯迅
RM100	2 张	3 张
RM50	13 张	9 张
RM10	7 张	–
RM5	–	5 张
RM1	23 张	3 张

表 4

哪项显示两个学生的存款总额?

	法米	凯迅
A	RM943.00	RM778.00
B	RM943.00	RM758.00
C	RM785.00	RM943.00
D	RM758.00	RM943.00

26. 表 5 显示三个月内参观国家科学中心的人数。

UPSR 2018

月份	参观人数
9 月	11 月的 $\frac{1}{3}$ 倍
10 月	9 月的 2 倍
11 月	20 325 人

表 5

计算在 10 月份参观国家科学中心的人数。

A 6 775　　B 13 550

C 30 352　　D 40 650

27. 哪项不是付款工具?

A 支票

B 借书卡

C 预付卡

D 借记卡

LIVEWORKSHEETS

28. 四兄弟合资做生意共赚了 RM65 391。他们把赚到的钱平分成数份。大哥占 4 份，二哥和三哥各占 3 份，四弟占 1 份，剩下的 1 份分给母亲。计算每一份的金额。

A RM5 494.25

B RM5 484.25

C RM5 449.25

D RM5 448.25

29. 图 10 显示一张外国的纸币。

图 10

图 10 是哪个国家的纸币？

A 韩国

B 日本

C 台湾

D 中国

30. 下面是一个家具批发商，陈先生所说的话。

陈先生应该以多少钱出售这套办公桌椅？

A RM6 312

B RM6 302

C RM6 212

D RM5 312

31. 图 11 显示一个被分成 3 个相等部分的图形。图形的 $\frac{1}{3}$ 再被分成 2 个大小相同的小部分，并分别涂上红色和绿色。

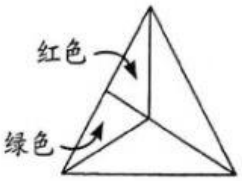

图 11

涂上红色的部分占图形的几分之几？

A $\frac{1}{4}$　　B $\frac{1}{5}$

C $\frac{1}{6}$　　D $\frac{1}{7}$

32. 董先生有一片榴梿园，他把榴梿园分成 19 个区域。每个区域每季的榴梿产量在 3 500 个至 4 500 个之间。这一片榴梿园每季的收成大约有多少个榴梿？

A 65 900　　B 79 845

C 85 507　　D 86 000

33. 图 12 显示两家饼店所做的月饼。

图 12

西门饼家把月饼批发到 114 个代理商家，每家 95 盒。东凤饼家则批发给 128 个代理商家，每家 98 盒。西门饼家和东凤饼家所批发的月饼相差多少盒？

A 23 920　　B 23 374

C 1 714　　D 221

LIVEWORKSHEETS

34. 教育署收到95包考卷，共有4750份考卷，每包的考卷数量是一样的。教育署接着将考卷分给市区的 17 所学校，共有 37 包的考卷。这些学校一共拿到多少份考卷？

A 2 700　　**B** 2 070

C 1 850　　**D** 850

35. 两个箱子里都装有同样数量的铁钉。箱子 F 装有18盒铁钉，每盒有250枚铁钉。箱子 G 则装有 12 盒铁钉。计算箱子 G 里每盒铁钉的数量。

A 7 500　　**B** 3 000

C 375　　**D** 166

36. UPSR 2018 爱芬一个星期内一共健走 92 260 步。爱芬每天健走的步数是相同的。计算爱芬在 4 天里健走的步数的总和。

A 13 180　　**B** 23 065

C 39 540　　**D** 52 720

37. UPSR 2018 表 6 显示县 Z 里学校的数量。

学校类别	学校数量（所）
国小	11
华小	7
淡小	2
中学	8

表 6

适逢马来西亚日，93 800 面的小国旗被平分给县 Z 里的每一所学校。计算小学获得的小国旗的总数。

A 67 000　　**B** 36 850

C 23 450　　**D** 6 700

38. UPSR 2017 图 13 显示冠辉所购买的两种物品及其单价。

图 13

冠辉购买 2 包相同的纸尿布和几套相同的纸巾。他用 2 张 RM100 的纸币付账，并收到 RM9.40 的余额。计算冠辉所购买的纸巾的数量。

A 6　　**B** 7

C 8　　**D** 9

39. UPSR 2016 表 7 显示四个少年在游戏中的分数。

少年	分数
余翔	34 821
民亮	比余翔少 201
郭铭	比皓升多
皓升	比余翔少 218

表 7

谁的分数最少？

A 余翔

B 民亮

C 郭铭

D 皓升

40. KBAT 一个比萨饼被切成同样的 10 块。晓文吃了 $\frac{1}{5}$ 个比萨饼，然后带 $\frac{1}{10}$ 个去学校。家里还剩下几块比萨饼？

A 3　　**B** 5

C 7　　**D** 9

LIVEWORKSHEETS