Escuela Los Rastrojos
Matemática: 3° Básico
Profesor: José Silva Pinto

Ficha de Matemática

Seleccione la alternativa correcta.

A partir de la siguiente línea de tiempo, responde las preguntas 1 y 2.

1 ¿Qué acontecimiento ocurre después de ser campeones en atletismo?

A Fundación del colegio.

B Comienzo del 2º ciclo.

C Celebración de los 20 años.

D Construcción del gimnasio.

2 ¿Cuántos años transcurrieron la fundación del colegio y la construcción del gimnasio?

A 7 años.

B 8 años.

C 9 años.

D 10 años.

3 ¿Qué hora marca el reloj?

A 02:45

B 03:45

C 03:30

D 03:15

4 ¿A qué fecha corresponde el segundo jueves del mes?

Abril						
L	M	M	J	V	S	D
					1	2
3	4	5	6	7	8	9
10	11	12	13	14	15	16
17	18	19	20	21	22	23
24	25	26	27	28	29	30

A 6 de abril.

B 13 de abril.

C 20 de abril.

D 27 de abril.

LIVEWORKSHEETS

5 Teresa jugó tenis durante 60 minutos. Si empezó a la 17:30 horas, ¿a qué hora terminó?

A 19:00 B 18:15 C 19:15 D 18:30

Observa el siguiente calendario y responde las preguntas 6, 7 y 8.

L	M	M	J	V	S	D
		1	2	3	4	5
6	7	8	9	10	11	12
13	14	15	16	17	18	19
20	21	22	23	24	25	26
27	28	29	30	31		

6 ¿Qué día de la semana es el día 17 del mes?

A Miércoles.

B Jueves.

C Viernes.

D Sábado.

7 ¿Qué día corresponde al segundo martes del mes?

A 7 B 8 C 14 D 15

8 Si Jaime está de cumpleaños el día 7 pero su fiesta la realizará el 18, ¿cuántos días de diferencia hay entre el día de su cumpleaños y el de la fiesta?

A 7 B 9 C 10 D 11

9 ¿Qué hora muestra el reloj?

A Las 4 y media.

B Las 5 y cuarto.

C Las 4 y cuarto.

D Un cuarto para las 5

10 Paulina entra a clases a las 8:00 y termina a las 14:00. ¿Cuánto tiempo está en la escuela?

A 6 horas

B 6 horas y 30 minutos

C 6 horas y 15 minutos

D 7 horas y 15 minutos

11 ¿Qué hora será en 15 minutos?

A Las 12 y media.

B Un cuarto para la 1.

C Las 12 y cuarto.

D La 1 y cuarto.

LIVEWORKSHEETS

Observa el calendario del mes de diciembre y contesta las preguntas 12, 13 y 14

12 El cumpleaños de María es el jueves 1 de diciembre. Ella se va de viaje, exactamente 2 semanas después. ¿En qué fecha iniciará el viaje?

A 16 de diciembre

B 21 de diciembre

C 22 de diciembre

D 30 de diciembre

Diciembre

L	Ma	Mi	J	V	S	D
			1	2	3	4
5	6	7	8	9	10	11
12	13	14	15	16	17	18
19	20	21	22	23	24	25
26	27	28	29	30	31	

13 El viaje de María dura 7 días, ¿cuándo está de regreso?

A 8 de diciembre

B 23 de diciembre

C 15 de diciembre

D 29 de diciembre

14 Si el primer viernes del mes de diciembre es 2, ¿qué fecha será el tercer viernes del mes de diciembre?

A 9 de diciembre

B 16 de diciembre

C 23 de diciembre

D 30 de diciembre

15 ¿Qué hora está representada en el siguiente reloj?

A 8 horas con 4 minutos.

B 8 horas con 20 minutos.

C 4 horas con 8 minutos.

D 4 horas con 40 minutos.

16 ¿Qué reloj representa las 14:30 horas?

A

B

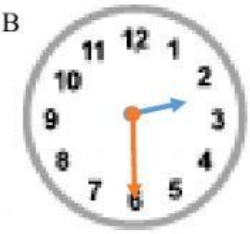

C

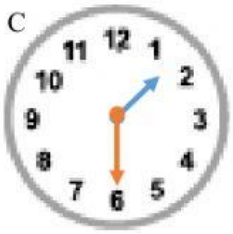

D

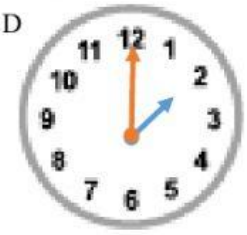

LIVEWORKSHEETS

LIVEWORKSHEETS