TẾ BÀO NHÂN THỰC

1/ CHÚ THÍCH CHO HÌNH ẢNH BÊN DƯỚI

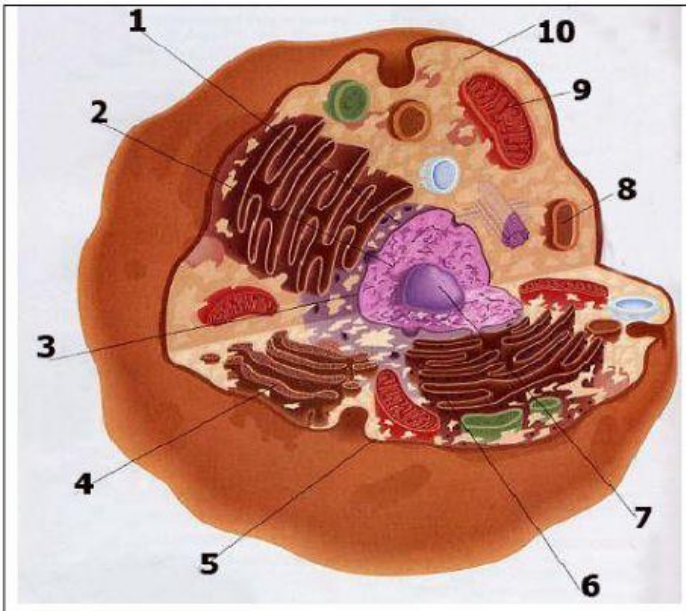

TẾ BÀO ĐỘNG VẬT

2:……

3:……..

4:……

5:……

6:……

7:……..

8:……

9:……

10:……..

Dùng các từ gợi ý sau: NHÂN CON, TY THỂ, KHÔNG BÀO, RIBOXOM, MÀNG NHÂN, NHIỄM SẮC THỂ, TẾ BÀO CHẤT, LƯỚI NỘI CHẤT TRƠN, LƯỚI NỘI CHẤT HẠT, BỘ MÁY GOLGI, MÀNG SINH CHẤT, BÀO TƯƠNG (CHẤT NGUYÊN SINH), LYZOXOME

LIVEWORKSHEETS

2/ Hoàn thành bảng thông tin dưới đây

HÌNH ẢNH	TÊN GỌI	CHỨC NĂNG
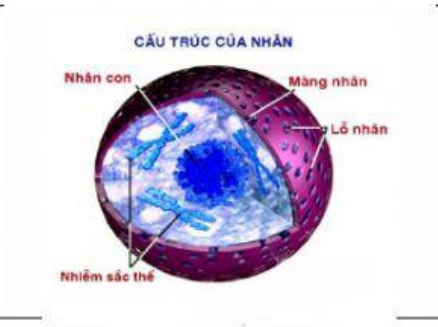		
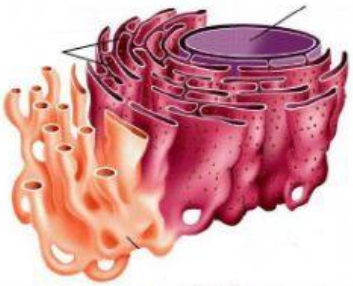		
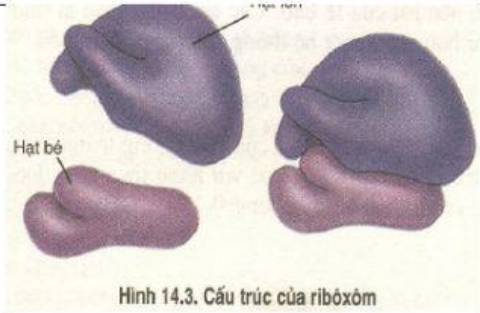 Hình 14.3. Cấu trúc của ribôxôm		
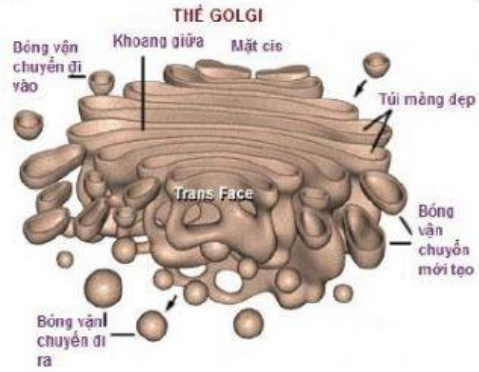		
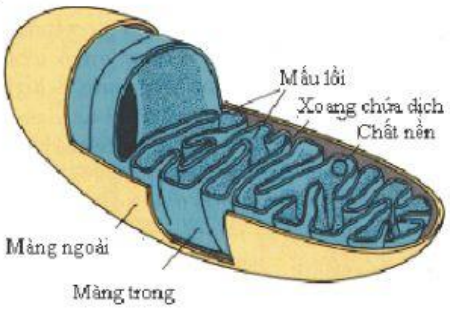 CẤU TRÚC TY THỂ		

LIVEWORKSHEETS

3/ CHỌN CÂU TRẢ LỜI ĐÚNG NHẤT

Câu 1: Trong cơ thể, tế bào nào sau đây có chứa nhiều ti thể nhất?

A. Tế bào hồng cầu

B. Tế bào xương

C. Tế bào cơ tim

D. Tế bào biểu bì

Câu 2: Trong cơ thể, tế bào nào sau đây có chứa nhiều lyzoxom thể nhất?

A. Tế bào bạch cầu

B. Tế bào xương

C. Tế bào cơ tim

D. Tế bào biểu bì

Câu 3: Trong cơ thể, tế bào nào có lưới nội chất trơn phát triển mạnh nhất?

A. Tế bào hồng cầu.

B. Tế bào thận

C. Tế bào gan

D. Tế bào cơ

Câu 4: Số lượng lớn các ribôxôm được tìm thấy ở tế bào chuyên hóa sản xuất chất hữu cơ nào?

A.Cacbohiđrat.

B. Lipit

C. Prôtêin

D.Axit Nucleic

4/ Tại sao lá cây có màu xanh? Màu xanh của lá cây có liên quan tới chức năng quang hợp hay không?

LIVEWORKSHEETS