TES TERTULIS TEMA 1 INDAHNYA KEBERAGAMAN SUBTEMA 1

KELAS IV TAHUN 2021-2022

NAMA : .....

Kerjakanlah soal-soal berikut!

PPKN KD 3.4

1. Contoh kegiatan Kerjasama di lingkungan adalah….
   a. Halal bihalal
   b. Makan bersama
   c. Kerja bakti
   d. Persatuan
2. Sebagai bangsa yang memiliki keragaman perlunya sikap untuk mempertahankan persatuan dan kesatuan. Berikut ini yang termasuk sikap menjaga persatuan dan kesatuan adalah…
   a. Membeda-bedakan teman yang berbeda suku budaya
   b. Menghormati keragaman budaya, suku bangsa dan agama
   c. Menentang pendapat teman saat berdiskusi
   d. Merayakan hari besar keagamaan lain

B.IND KD 3.1

3. Bacalah teks berikut untuk menjawab soal nomor 3 dan 4!

Tari Kuda Gepang

Tari Kuda Gepang adalah tari yang berasal dari Kalimantan Selatan. Tari ini bercerita tentang kegagahan pasukan berkuda yang dipimpin oleh seorang raja gagah berani. Tari Kuda Gepang ini ditarikan dengan penuh semangat. Dahulu, tari ini dibawakan untuk menyambut para raja. Sekarang, tari ini dibawakan untuk menyambut para tamu, undangan, pengantin, dan pejabat tinggi pemerintahan.

Berdasarkan teks gagasan pokok yang tepat adalah…
   a. Tari Kuda Gepang adalah tari yang berasal dari Kalimantan Selatan.
   b. Tari kKuda Gepang bercerita mengenai kegagahan kuda
   c. Tari Kuda Gepang ini ditarikan dengan penuh semangat.
   d. Tari Kuda Gepang dibawakan untuk menyambut para raja.
4. Berdasarkan teks Tari Kuda Gepang, yang termasuk gagasan pendukung adalah…
   a. Tari Kuda Gepang adalah tari daerah yang berasal dari Kalimantan Selatan.
   b. Tari Kuda gepang bercerita mengenai kegegahan kuda yang digunakan raja saat berperang.
   c. Tari Kuda Gepang bercerita tentang kegagahan pasukan berkuda yang dipimpin oleh seorang raja gagah berani.
   d. Tari Kuda Gepang saat ini tidak digunakan untuk menyambut para tamu, undangan, pengantin, dan pejabat tinggi pemerintahan.

LIVEWORKSHEETS

MTK KD3.8

5. Amatilah gambar berikut!

Berdasarkan gambar yang termasuk sisi banyak beraturan adalah bangun…

a. Persegi panjang dan belah ketupat
b. Segitiga dan jajar genjang
c. Persegi dan trapesium
d. Segitiga sama sisi dan persegi

6. Berikut ini yang termasuk segi banyak tidak beraturan adalah….

a.

b. 

c. 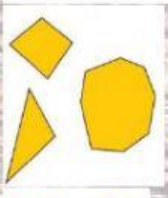

d. 

IPA KD 3.6

7. Bunyi dapat dihasilkan dari alat berikut dangan cara…

a. Menggesek tutsnya
b. Menggesek bagian senarnya
c. Memetik dan menggetarkan tutsnya
d. Meniup dan menekan tutsnya

8. Saat menyelam di kolam renang, kita dapat mendengar suara teman yang berada si atas kolam. Hal ini membuktikan bahwa gelombang bunyi dapat merambat melalui benda…

a. Kolam
b. padat
c. Cair
d. Di atas kolam

LIVEWORKSHEETS

IPS KD 3.2

9. Senjata tradisional berikut berasal dari….

   a. Aceh
   b. Papua
   c. Bali
   d. Jawa

10. Rumah gadang memiliki atap lengkung tajam seperti tanduk kerbau. Bentuk atap rumah yang melekung dan runcing keatas disebut….
   a. Tanduk kerbau
   b. gonjong
   c. genjong
   d. talempong

LIVEWORKSHEETS