LATIHAN ALAT UKUR

NAMA : .....
KELAS : .....

SOAL PILIHAN GANDA
Pilihlah salah satu jawaban yang anda anggap paling benar!

1. Benda di bawah diukur menggunakan penggaris, panjang benda adalah ... cm

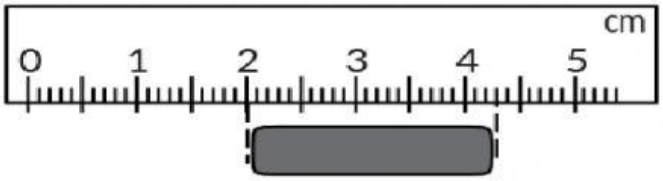

   a. 2,0 cm
   b. 2,1 cm
   c. 2,2 cm
   d. 2,3 cm
   e. 4,3 cm

2. Kertas biru di bawah diukur lebarnya dengan menggunakan penggaris, ukuraan lebar kertas adalah ..... cm

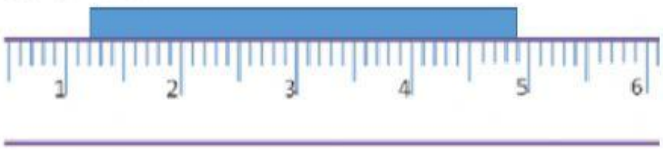

   a. 1,2 cm
   b. 2,3 cm
   c. 3,7 cm
   d. 4,2 cm
   e. 4,9 cm

3. Seorang siswa mengukur diameter sebuah pipa menggunakan jangka sorong seperti terlihat pada gambar berikut. Diameter pipa tersebut adalah .... cm.

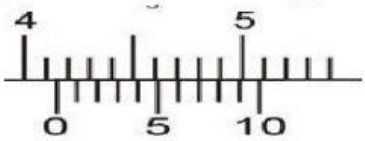

   a. 4, 07 cm
   b. 4, 17 cm
   c. 5, 07 cm
   d. 5, 10 cm
   e. 5, 17 cm

LIVEWORKSHEETS

4. Perhatikan gambar jangka sorong berikut.
   Ukuran benda yang diukur menggunakan jangka sorong berdasarkan gambar di atas adalah .....cm.

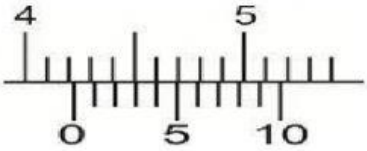

   a. 4, 10 cm
   b. 4, 14 cm
   c. 4, 24 cm
   d. 5, 10 cm
   e. 5, 14 cm

5. Seorang siswa mengukur diameter sebuah kelerang menggunakan jangka sorong seperti terlihat pada gambar berikut.

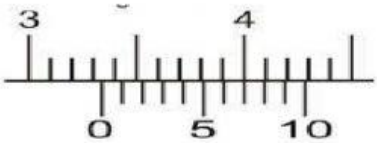

   Diameter kelerang tersebut adalah .....cm
   a. 3, 37 cm
   b. 3, 47 cm
   c. 4, 37 cm
   d. 4, 47 cm
   e. 5, 37 cm

6. Diameter kelereng diukur menunjukkan hasil pengukuran di bawah ini, ukuran diameter kelereng adalah.....cm

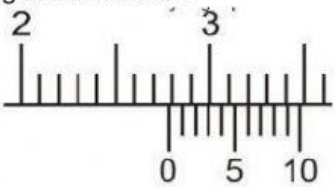

   a. 2, 36 cm
   b. 2, 46 cm
   c. 2, 56 cm
   d. 2, 66 cm
   e. 2, 76 cm

7. Jika pada suatu pengukuran didapatkan gambar skala utama ataupun skala nonius dibawah ini, Panjang dari benda yang akan diukur.....mm

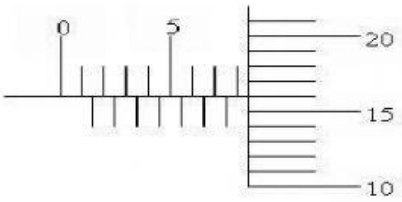

LIVEWORKSHEETS

a. 5, 16 mm
b. 5, 36 mm
c. 5, 46 mm
d. 8, 16 mm
e. 8, 66 mm

8. Ketebalan kawat tembaga yang diukur dengan mikrometer sekrup dibawah ini adalah.....mm

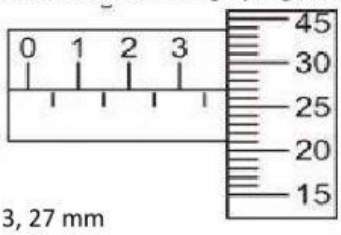

a. 3, 27 mm
b. 3, 57 mm
c. 3, 67 mm
d. 3, 77 mm
e. 3, 97 mm

9. Perhatikan gambar mikrometer sekrup dibawah ini. Besar pengukurannya adalah .....mm

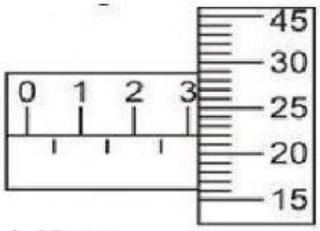

a. 3, 22 mm
b. 3, 25 mm
c. 3, 72 mm
d. 3, 82 mm
e. 3,92 mm

10. Di bawah ini hasil pengukuran panjang dengan menggunakan mikrometer sekrup. Hasil pengukurannya adalah.....mm.

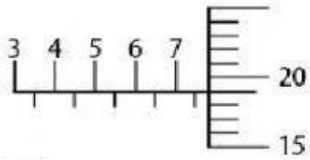

a. 7, 19 mm
b. 7, 21 mm
c. 7, 59 mm
d. 7, 69 mm
e. 7, 71 mm

LIVEWORKSHEETS