NAMA :

KELAS :

NO.ABSEN :

LEMBAR KERJA PESERTA DIDIK

PENGUKURAN PANJANG, MASSA, WAKTU

Setelah membaca materi pada modul hal.6-13 Kerjakan soal berikut

1. Perhatikan gambar berikut

Perhatikan gambar berikut.



Selisih pensil terpanjang dengan terpendek adalah ... meter.

A. 0,066
B. 0,18
C. 1,8
D. 6,6

2. Ani mengukur diameter sebuah pipa menggunakan jangka sorong dengan hasil pengukuran sebagai berikut.

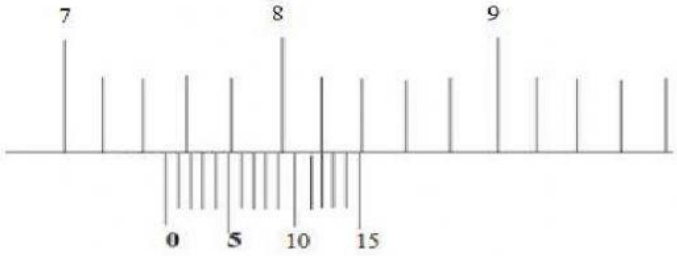

Berapakah panjang diameter pipa tersebut?

A. 4,13 cm
B. 4,31 cm
C. 7, 13 cm
D. 7, 32 cm

3. Perhatikan gambar mikrometer sekrup berikut ini.

Besar pengukurannya adalah ....

A. 3,22 mm
B. 3,53 mm
C. 3,86 mm
D. 4,17 mm
E. 4,26 mm

4. Perhatikan gambar berikut! Dina menimbang sebuah batu dengan alat seperti pada gambar. Massa batu adalah...

LIVEWORKSHEETS

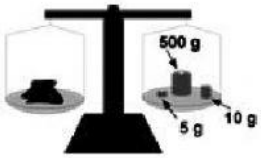

a. 51,5 kg c. 0,515 kg
b. 5,15 kg d. 0,0515 kg

5. Perhatikan Gambar berikut, waktu yang ditunjukkan pada stopwatch adalah …

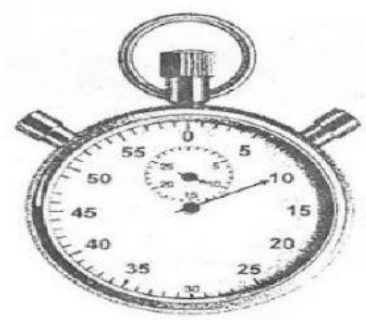

A. 290 detik
B. 310 detik
C. 490 detik
D. 610 detik

LIVEWORKSHEETS