HEBATNYA MAGNET

Nama : _____

Kelaskan objek di bawah kepada kumpulan objek yang boleh ditarik oleh magnet dan objek yang tidak boleh ditarik oleh magnet.

Paku

Butang

Jarum

Pensel

Dadu

Kunci

Klip kertas

Kapur

Objek yang boleh ditarik oleh magnet	Objek yang tidak boleh ditarik oleh magnet

LIVEWORKSHEETS

Pilih (/) bagi objek yang dapat ditarik oleh magnet dan (X) bagi objek yang tidak dapat ditarik oleh magnet.

1

2



3

4

5

6

7



8

9

10



11



12

LIVEWORKSHEETS