แบบทดสอบ

คำชี้แจง ให้นักเรียนเลือกคำตอบที่ถูกต้องที่สุดเพียงข้อเดียว

1. จากกราฟที่กำหนดให้ ข้อใดต่อไปนี้ไม่ถูกต้อง

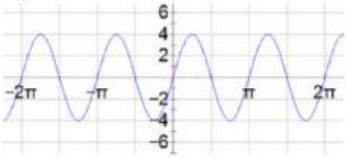

1. สมการของกราฟ คือ $f(x) = 4\sin 2x$
2. คาบของฟังก์ชัน คือ 2π
3. แอมพลิจูดของฟังก์ชัน คือ 4
4. เรจน์ของฟังก์ชัน คือ $[-4,\ 4]$

2. ข้อใดต่อไปนี้เป็นกราฟของฟังก์ชัน

$f(x) = 2 - \cos(4x)$

1.

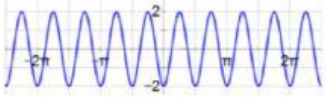

2.

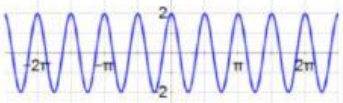

3.

4.

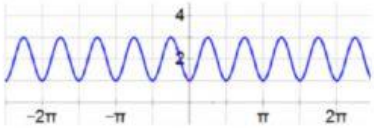

ชื่อ.....ชั้น.....เลขที่.....

LIVEWORKSHEETS