LATIHAN MATEMATIKA

SEMESTER 1 TAHUN AJARAN 2021-2022

Hari/Tanggal : Selasa, 27 Juli 2021 Nama : . . . .

Materi : **KD 3.1 Sifat-sifat Bangun Datar** Kelas : D 6AB

Nilai	TTD Guru	TTD Orang Tua	Keterangan

Kerjakan latihan berikut dengan teliti!

1. Bangun datar yang memiliki simetri lipat tak terhingga adalah ... .

2. Tiga (3) bangun datar yang memiliki 1 simetri lipat yaitu . . . .

3. Salah satu sifat bangun datar berikut adalah . . . .

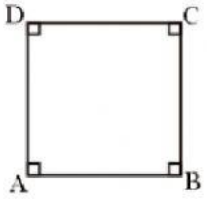

4. Persegi panjang mempunyai ... simentri lipat.
5. Berikut merupakan segitiga sama kaki ABC. Sisi AC sama dengan sisi ... .

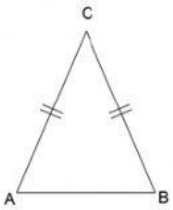

i. c

6. Perhatikan gambar berikut!



Nama bangun datar tersebut adalah ... .

7. 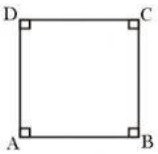

Besar sudut pada bangun datar tersebut adalah ... °

LIVEWORKSHEETS

8. Sifat dari bangun datar berikut adalah . . . .

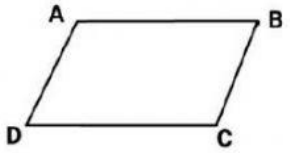

9. Perhatikan gambar bangun datar berikut!

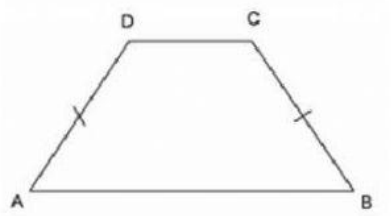

Sisi AB sejajar dengana sisi ... .

10. Perhatikan belah ketupat ABCD.

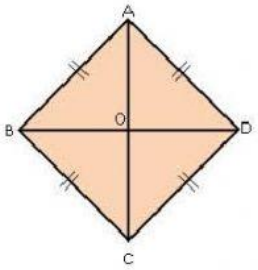

a. Empat (4)sisi sama panjang pada belah ketupat ABCD,yaitu:
   Sisi CD = DA = AB = ...
b. Empat (4) titik sudut yang sama besar pada belah ketupat ABCD,yaitu:
   Sudut A,, ... , C, D
c. Dua (2)diagonal pada belah ketupat ABCD,yaitu:. . . .

11. Perhatikan gambar berikut!

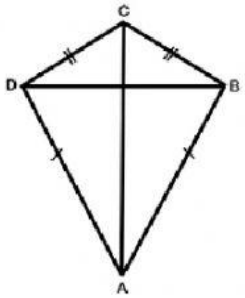

a. Empat (4) sisi pada bangun datar tersebut,yaitu:
   Sisi AB, BC, ..., ...
b. Dua (2) diagonal pada bangun tersebut,yaitu . . .
c. Sebutkan 4 titik sudut pada bangun tersebut!
   Sudut A,, B, C,. . . .

LIVEWORKSHEETS