LEMBAR KERJA PESERTA DIDIK

Sekolah Dasar Islam
De Green camp
"The Islamic Natural School"

Kelas IV

Tema : Animal and Plant

Nama : _ _ _ _ _ _ _ _ _ _ _

Kelas : _ _ _ _ _ _ _ _ _ _ _



Tanggal Pemberian Penugasan : 27 Juli 2021

Batas Pengumpulan Penugasan : 3 Agustus 2021

Materi Pokok :
Mengelompokkan Data

LIVEWORKSHEETS

Sebelum teman-teman sholih dan sholihah mengerjakan tantangan, silakan menonton video penjelasan materi pembelajaran hari ini!



LIVEWORKSHEETS

A. Lengkapi kalimat berikut dengan menuliskan jawaban yang tepat!

Äsiknya Belajar Mengelompokkan Data

Teman-teman kelas 4 sedang belajar Matematika bersama Bu Fitri. Materi yang sedang dipelajari adalah _____. Sebelum itu, teman-teman harus mengetahui pengertian dari data. Data adalah _____. Untuk memperoleh data dapat dilakukan dengan tiga cara yaitu _____, _____, _____. Data yang diperoleh, selanjutnya diubah ke dalam bentuk tabel.

B. Yuk teman-teman selesaikan tantangan berikut dengan cara mengelompokkan data serta disajikan dalam bentuk tabel data.

1. Ibu guru meminta siswa kelas 4 untuk menyebutkan masing-masing 1 buah kesukaan siswa seperti pada data berikut ini!



LIVEWORKSHEETS

Yuk teman-teman ubah data-data tersebut ke dalam bentuk tabel di bawah ini!

Data Buah Kesukaan Siswa Kelas 4
SD Islam De Green Camp

NO	Variasi Buah	Jumlah
1.	Apel	
2.	Jeruk	
3.	Mangga	
4.	Pisang	
5.	Jambu	

Selanjutnya berilah tanda centang pada pernyataan di bawah ini jika sesuai dengan tabel data di atas!

- Buah yang menjadi favorit siswa kelas 4 adalah buah Jeruk. ☐
- Jumlah seluruh siswa kelas 4 yang menyukai buah sebanyak 45 orang. ☐
- Siswa yang menyukai buah Jambu sebanyak 5 orang. ☐
- Siswa yang tidak menyukai buah Apel sebanyak 5 orang. ☐
- Siswa yang menyukai buah Mangga dan buah Jeruk sebanyak 22 orang. ☐

LIVEWORKSHEETS

2. Perhatikan informasi jumlah siswa di SD Islam De Green Camp berikut ini!

Diketahui jumlah seluruh siswa yang bersekolah di SD Islam De Green Camp adalah 364 siswa yang terdiri dari kelas 1 hingga kelas 6.

- **Siswa kelas 1 dan kelas 5 berjumlah sama yaitu 55 siswa**
- **Siswa kelas 2 berjumlah 57 siswa**
- **Siswa kelas 4 berjumlah 88 siswa**
- **Siswa kelas 6 berjumlah 53 siswa**

Berdasarkan informasi di atas, berapa jumlah siswa dari kelas 3 ?

Ubahlah informasi tersebut ke dalam bentuk tabel dengan cara memindahkan jawaban pada kotak yang tersedia!

Kelas	Jumlah Siswa

SATU | 58 SISWA | 88 SISWA | LIMA

55 SISWA | EMPAT | 55 SISWA | 53 SISWA

TIGA | ENAM | 57 SISWA | DUA | 56 SISWA

LIVEWORKSHEETS

3. Berdasarkan data tabel yang telah teman-teman isi di halaman sebelumnya, jawablah pertanyaan berikut dengan tepat!

   a. Kelas berapa yang mempunyai jumlah siswa yang sama ? _____

   b. Berapa jumlah seluruh siswa yang bersekolah di SD Islam De Green Camp ? _____

   c. Kelas berapakah yang mempunyai jumlah siswa paling sedikit ? _____

   d. Berapa jumlah siswa kelas 5 dan 6 jika digabungkan ? _____

   e. Kelas berapakah yang mempunyai jumlah siswa terbanyak ? _____

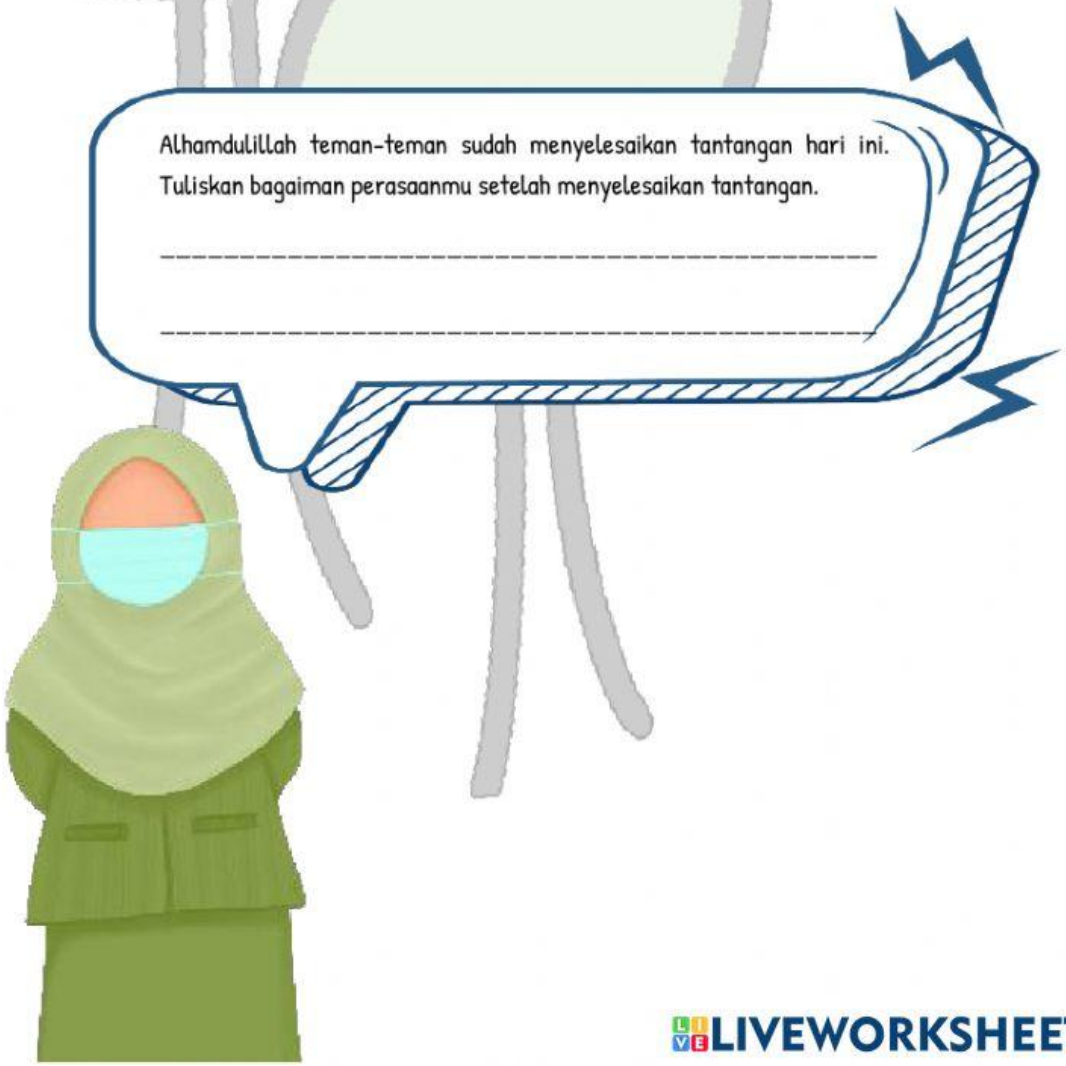

LIVEWORKSHEETS