LKPD Tematik Tema 1

Mengenal Bilangan Sampai 10 Ribuan

SD Darul Hikam
Berakhlak Berprestasi

Selasa, 27 Juli 2021

Nama :

بِسْمِ ٱللَّهِ ٱلرَّحْمَٰنِ ٱلرَّحِيمِ

Pilihlah jawaban yang paling benar!

1. Perhatikan gambar balok hitung berikut ini! Nilai balok pada gambar adalah . . . .

a. 2.350
b. 2.450
c. 2.740
d. 2.470

LIVEWORKSHEETS

2. BIlangan yang sesuai dengan kumpulan balok bilangan adalah . . . .



a. 2.324
b. 2.224
c. 2.342
d. 2.423

3. Nama bilangan yang sesuai dengan gambar adalah . . . .



a. Empat ribu tujuh ratus sembilan
b. Empat ribu sembilan puluh sembilan
c. Empat ribu tujuh puluh sembilan
d. Empat ribu sembilan puluh tujuh

LIVEWORKSHEETS

4. Bilangan yang sesuai dengan gambar balok hitung adalah . . . .



a. 1.000
b. 10.000
c. 11.000
d. 100

5. Tulisan nama bilangan yang benar dari bilangan 6.257 adalah . . .
(Contoh : 2.475 = Dua ribu empat ratus tujuh puluh lima)
a. Enam ribu dua ratus tujuh
b. Enam ribu dua ratus lima tujuh
c. Enam ribu dua ratus lima puluh tujuh
d. Enam ribu dua ratus tujuh puluh

6. Tulisan nama bilangan yang benar dari bilangan 3.095 adalah . . . .
a. Tiga ribu Sembilan ratus lima
b. Tiga ribu Sembilan puluh lima
c. Tiga ribu Sembilan puluh
d. Tiga ribu sembilan ratus Sembilan lima

LIVEWORKSHEETS

7. Tulisan nama bilangan yang benar dari bilangan 7.601adalah . . . .
   a. Tujuh enam ratus Satu
   b. Tujuh ratus enam Satu
   c. Tujuh ribu enam Satu
   d. Tujuh ribu enam ratus Satu

8. Tulisan lambang bilangan yang benar dari Dua ribu delapan ratus tiga puluh lima adalah . . . .
   a. 283
   b. 2835
   c. 2.358
   d. 2.835

9. Tulisan lambang bilangan yang benar dari Delapan ribu tujuh puluh Sembilan adalah . . . .
   a. 879
   b. 8079
   c. 8.079
   d. 8.790

10. Tulisan lambang bilangan yang benar dari Lima ribu sembilan ratus dua adalah . . . .
   a. 5.902
   b. 5.092
   c. 5.920
   d. 5.922

ٱلْحَمْدُ لِلَّهِ رَبِّ ٱلْعَٰلَمِينَ

LIVEWORKSHEETS