SK SRI LAKSAMANA, 78300 MASJID TANAH, MELAKA
MBB0044
Email : mbb0044@1bestarinet.yes.my
Tel : 06-3841366 Faks : 06-3844009

NAMA		TAHUN	

Pentaksiran Pendidikan Muzik Tahun 6

Jawab semua soalan.
Pilih jawapan yang betul bagi soalan berikut (40 Markah)

Rujuk Rajah 1 bagi soalan 1 hingga 4.



Rajah 1

1. Berapakah bar yang ada pada rajah 1?

A 1 **C 3**
B 2 **D 4**

2. Maksud meter 2 - 4 di atas menunjukkan bahawa

A lagu ini hanya selama 2 minit
B lagu ini hanya mempunyai 2 saat setiap baluk
C lagu ini hanya mempunyai 2 detik setiap bar
D lagu ini mesti dihentikan pada bar yang kedua

3. Garis bar ialah

A ruang di antara 2 garis bar
B Garis tegak yang dilukis merentangi baluk berdasarkan tanda masa dalam penulisan muzik
C 5 garis selari dan 4 ruang kosong
D dua garis tegak di penghujung sesuatu irama atau lagu

LIVEWORKSHEETS

4. Garis bar (penamat) ialah

A ruang di antara 2 garis bar
B Garis tegak yang dilukis merentangi baluk berdasarkan tanda masa dalam penulisan muzik
C 5 garis selari dan 4 ruang kosong
D dua garis tegak di penghujung sesuatu irama atau lagu

5. Apakah tujuan sesebuah pergerakan dibuat sewaktu apa-apa persembahan muzik dilakukan?

A Untuk menggambarkan perasaan lagu
B Untuk menggambarkan rupa lagu
C Untuk menggambarkan sifat komposer lagu
D Untuk menggambarkan dinamik dan tempo lagu

6. Antara berikut, yang manakah bukan bentuk pergerakan dalam muzik?

A Berjalan
B 'Twist'
C Seret
D Berbasikal

7. Pilih arah pergerakan yang betul dalam persembahan muzik.

A Ke hadapan
B Ke atas
C Ke bawah
D Ke Tenggara

8. Lagu-lagu berikut sesuai untuk melakukan pergerakan yang rancak, kecuali:

A Nasyid
B Rock
C Jazz
D pop

9.

Lambang ini dikenali sebagai _____ .

A Tie
B Slur
C Fermata
D Common Time

LIVEWORKSHEETS

Soalan 10 adalah berdasarkan rajah 2 di bawah.



Rajah 2

10. Apakah maksud tie bagi not di atas?

A Bunyi dimainkan secara berbeza not.
B Bunyi dimainkan dengan putus-putus.
C Bunyi dipanjangkan mengikut keinginan pemuzik.
D Bunyi dimainkan secara sama not dan dicampur jumlah masa.

Nyatakan nilai bagi gabungan not berikut

11.

A 5 **C 3 1/2**
B 6 **D 4 1/2**

12. Antara alatan muzik tradisional berikut, yang manakah menjadi alat muzik utama bagi muzik irama Dondang Sayang?

A Biola **C Gendang ibu**
B Gambus **D Gendang Anak**

13. Apakah tujuan muzik dimainkan pada zaman dahulu?

A Sebagai penyampai berita **C Sebagai amalan harian**
B Sebagai bentuk hiburan **D Mengiringi kematian orang Islam**

14. Rodat dan Ulik Mayang ialah muzik tradisional bagi penduduk Terengganu. Apakah muzik tradisional bagi penduduk Johor?

A Boria **C Ghazal**
B Dikir Barat **D Tarian Ngajat**

LIVEWORKSHEETS

Soalan 15 - 18 adalah berdasarkan rajah di bawah.

Rajah 3: Sejenis Irama Tradisional Dari Melaka

15. Apakah nama irama lagu yang ditunjukkan di atas?

A Caklempong **C Dondang Sayang**
B Wayang Kulit **D Tarian Sumazau**

16. Apakah nama alat yang dapat anda lihat di atas?

A Gong **C Kongga**
B Serunai **D Darbuka**

17. Antara alatan yang dinyatakan di bawah, yang manakah bukan terdiri dari kumpulan yang sama dengan alat muzik pada Rajah 3?

A Gambus **C Gendang Ibu**
B Trompet **D Gendang Anak**

18. Muzik ini biasanya dimainkan sewaktu majlis-majlis _____ kaum Melayu.

A kematian **C graduasi**
B perkahwinan **D pindah rumah**

19. Antara berikut, yang manakah bukan dari kategori alat muzik moden?

A Gitar **C Kibod**
B Piano **D Nafiri**

LIVEWORKSHEETS



Rajah 4

20. Alat muzik pada rajah 4 di atas dimainkan dengan menggunakan _____ tangan.

A	**sebelah**	**C**	**kedua-dua belah**
B	**sebelah atau kedua-dua belah**	**D**	**gesekan jari dan kedua-dua belah**

Soalan Tamat, Semoga Beroleh Kejayaan.

By:NKMN21

LIVEWORKSHEETS