**MODUL 7 : PEMASANGAN PAPAR TANDA**
**LATIHAN UNIT 7.1 PROSEDUR PEMASANGAN PAPAR TANDA.**

1. Papar tanda berperanan untuk menyampaikan _____ tentang _____dan perniagaan.
2. Sesuatu papar tanda perlu mempunyai _____ dari segi rekaan dan lokasi pemasangannya.
3. Papar tanda terbahagi kepada _____ kategori iaitu_____ dan _____ .
4. Papar tanda yang mempunyai permukaan rata dan sisi sama ada lurus atau melengkung disebut juga sebagai_____
5. Papar tanda jenis ini mempunyai betuk timbul dan dapat dilihat di ruang _____
6. Papar tanda _____ memastikan pengguna jalan raya bertindak mengikut arahan dan _____bagi sesuatu keadaan.

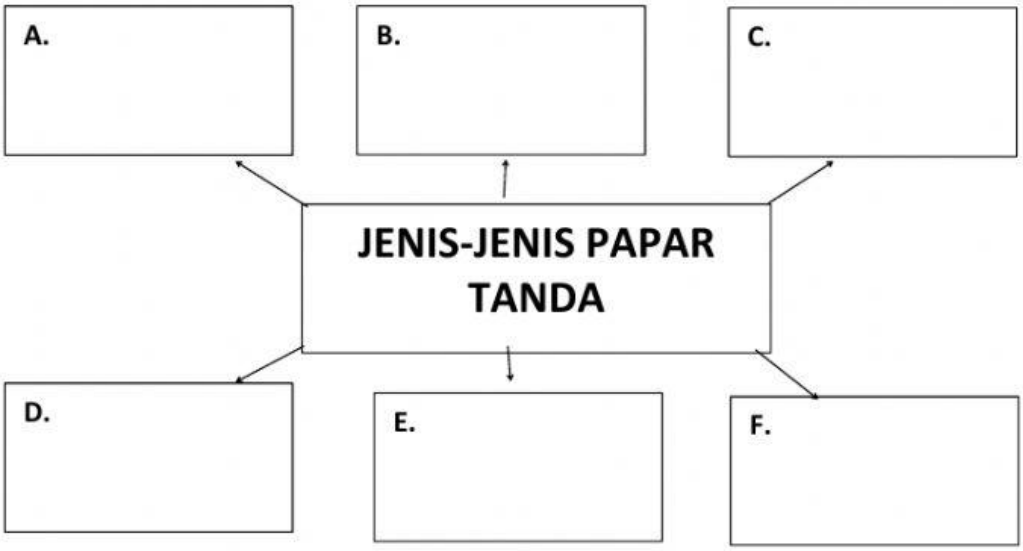


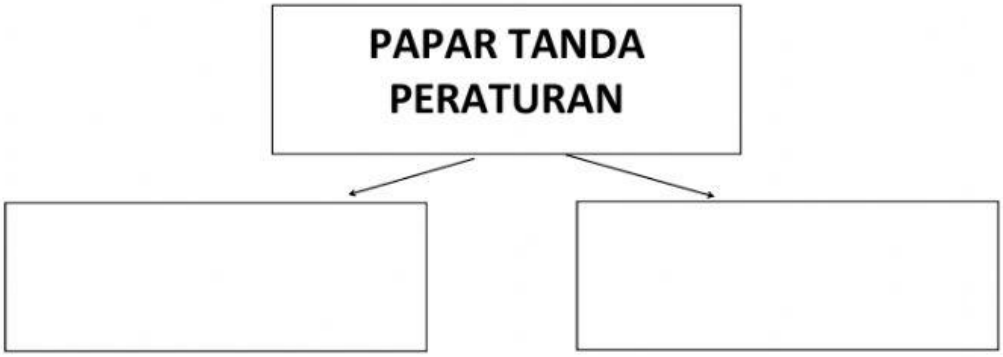


LIVEWORKSHEETS

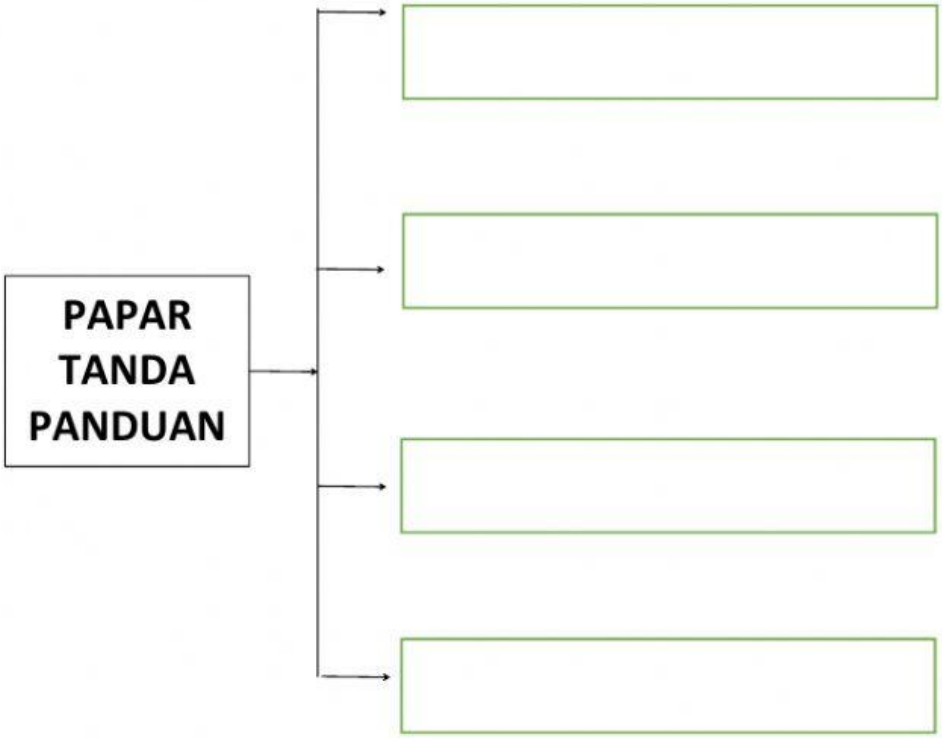


LIVEWORKSHEETS