LATIHAN SOAL PERTEMUAN KE-1

NAMA : .....

KELAS : .....

PILIHAN GANDA

1. Di bawah ini yang merupakan bilangan bulat adalah ...
   a. {2, 3, 5, 7, ... }
   b. {... , -2, -1, 0, 1, 2, ... }
   c. {1, 3, 5, 7, ... }
   d. {0, 1, 2, 3, ... }
2. Hasil dari $-15 + (-12 : 3)$ adalah ...
   a. -19
   b. -11
   c. -9
   d. 9
3. Lambang * berarti "kalikan bilangan pertama dengan 6, kemudian hasilnya dibagikan dengan bilangan kedua". Nilai dari 4 * 3 adalah ...
   a. 11
   b. 5
   c. 8
   d. 3
4. Urutkan bilangan-bilangan berikut: $-121, 25, -13, -49, 10, 36$ lalu pilihlah jawaban yang sesuai dengan letakkan di garis bilangan ...

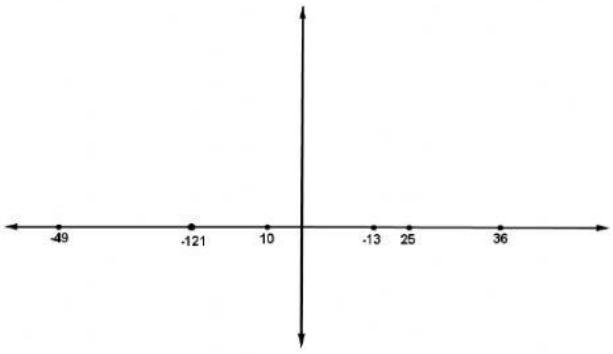

a.

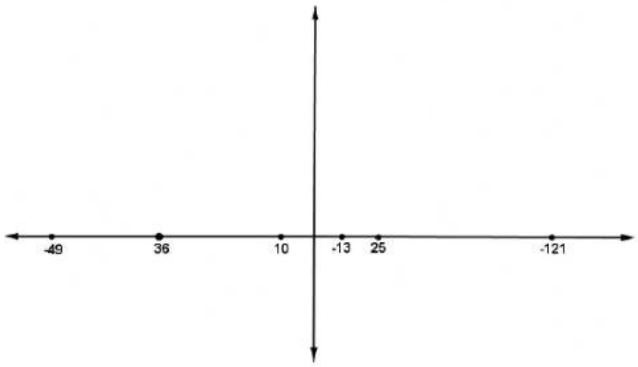

b.

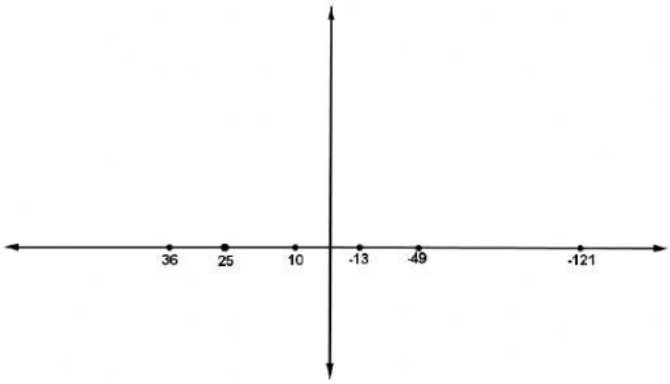

c.

LIVEWORKSHEETS

d. 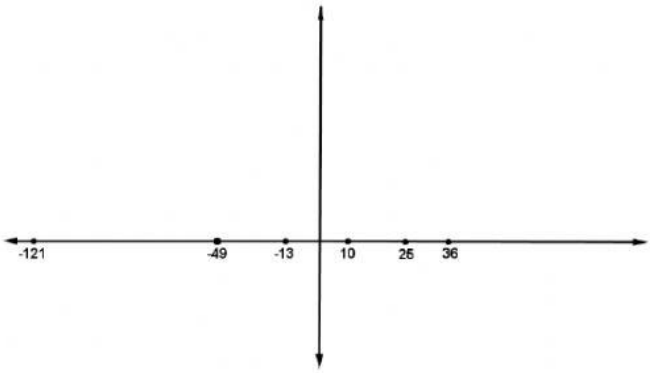

MENJODOHKAN

1. Untuk menjahit satu karung beras diperlukan benang sepanjang 5 m, maka untuk menjahit 120 karung diperlukan benang sepanjang ... m.	a. 31
2. Jika $p = -3, q = -7,$ dan $r = 5,$ maka nilai dari $(3p - r) : q$ adalah ...	b. 600
3. Suhu di suatu ruangan pendingin adalah -7^0C. Suhu di dalam ruangan 24^0C. Selisih suhu ruangan pendingin dengan suhu ruangan adalah ... ^{0}C.	c. 22
4. Hasil dari 8 – 21 : (−3) x 2 adalah ...	d. 2

URAIAN

1. Dalam suatu perlombaan, pedoman penskoran yang ditetapkan juri adalah jawaban yang benar diberi nilai 4, jawaban yang salah diberi nilai -2, dan soal yang tidak dijawab diberi nilai 0. Jumlah soal yang diujikan ada 10 soal, tentukan skor dari Ani, Adit dan Dwi, jika :
   a. Dwi menjawab 8 soal benar dan tidak menjawab 2 soal. Berapakah skor Dwi?
   b. Ani menjawab 5 soal benar dan 1 soal salah. Berapakah skor Ani?
   c. Adit menjawab 4 soal benar dan 3 soal salah. Berapakah skor Adit?
   d. Batas skor minimum peserta untuk bisa masuk babak selanjutnya sama dengan 25, siapakah yang bisa masuk ke babak selanjutnya?

☺ SELAMAT MENGERJAKAN DAN TETAP JAGA KESEHATAN KALIAN ☺

NOTE :

SETELAH KALIAN KLIK "FINISH" SELANJUTNYA KLIK "EMAIL MY ANSWERS TO MY TEACHER", DAN DIBAGIAN "ENTER YOUR TEACHER'S EMAIL OR KEY CODE" DAPAT KALIAN ISI DENGAN "rahmidarma17@guru.smp.belajar.id"

LIVEWORKSHEETS