UTILIZA MONEDAS DE 1, 5, 10, 25

1. CLASIFICA LAS MONEDAS SEGÚN SU VALOR

1 centavo	5 centavos	10 centavos	25 centavos

2. ¿Cuente y escriba el número de monedas que tiene cada grupo?

a)

LIVEWORKSHEETS

b)

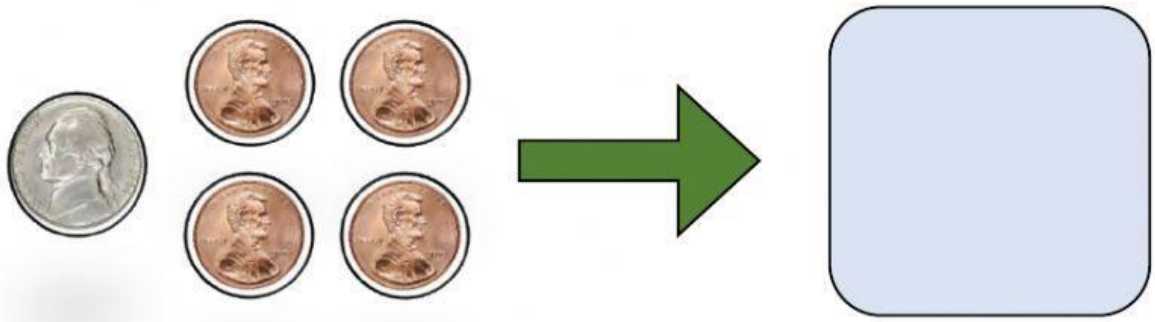

c)



d)



3. Seleccione el conjunto correcto de monedas para cancelar las siguientes compras.

LIVEWORKSHEETS

a) El chupete cuesta 12 centavos

b) La soda cuentas 26 centavos

LIVEWORKSHEETS