A 把光源画（✓） *SP6.1.1 TP 1*

1
书包

2 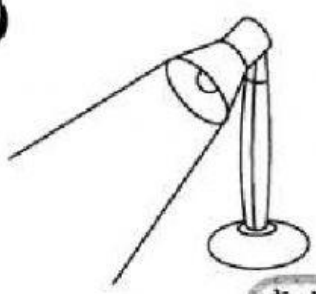
桌灯

3 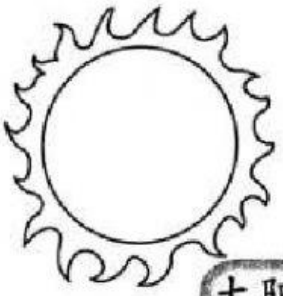
太阳

4 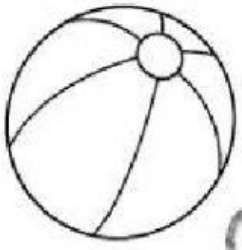
球

5

闹钟

6
蜡烛

7 光使我们 _____ 周围的景物。

8 会发光的物体被称为 _____。

9 上图中的 _____、_____ 和 _____ 是光源。

LIVEWORKSHEETS

Ⓑ 根据以下两个情况，圈出正确的答案。 *SP6.1.2 , SP6.1.6 TP 3*

① 我们在怎样的环境里会看不清楚周围的物体？

黑暗	明亮

② 根据上图的两种情况，哪个不属于光源？

手电筒	月亮

③ 根据上图的两种情况，哪个是光源？

月亮	手电筒

④ 光对人类很重要。有光，人类能够 _____ 周围的物体。

听见	看见

LIVEWORKSHEETS

根据以下的情况，在正确的答案下画线。 *SP6.1.2 TP 5*



❖ 隧道里的光线能让驾驶者

（安全驾驶，困难驾驶）。

❖ 使用桌灯让我们能在晚间

（阅读，睡觉）。



❖ 灯塔的光线是水手们的

（航海导航，交通导航）。



❖ 太阳的光线能帮助我们在白天

（进行活动，休息）。

LIVEWORKSHEETS