IE 2032 MANUEL SCORZA TORRES

DOCENTE: MIS ROSITA

PRÁCTICA DE MATEMATICA

LEE CADA SITUACION PROBLEMÁTICA Y RESUELVE

1. Danielle tiene S/29 y quiere comprar la siguiente Lliclla.

¿Cuánto dinero le falta a Danielle para comprar la Lliclla?

a 29

b 25

c 24

2.- Valentina guarda 85 galletas en un frasco. 39 de estas galletas tienen forman de corazón y las demás galletas tienen forma de estrellas

¿Cuántas galletas de estrellas son?

a 46 galletas

b 42 galletas

c 64 galletas

LIVEWORKSHEETS

3.- Santiago tiene 76 manzanas. ¿Cuántas bandejas con 10 manzanas como la siguiente puede armar Santiago con las 76 manzanas?

a 6 bandejas

b 7 bandejas

c 9 bandejas

4.- En el aula de tercero "A", hay 23 niños y 11 niñas. ¿Cuántos niños más que niñas hay en Esta aula?

a 11 niños

b 15 niños

c 12 niños

5.- En un juego, se usan claves para escribir los números. Observa.

¿Qué número se debe escribir en el recuadro para completar la lista?



= 25

= 15

6.- Adrián tiene esta cantidad de dinero.

Adrián compra una pelota de S/22. Al pagar, él dice que recibirá S/3 de vuelto.
Si no hubo descuento en el precio ni error en el vuelto, ¿es posible esto? SI, NO
Explica tu respuesta

LIVEWORKSHEETS

7.- Rachel colecciona estampitas para su álbum. Ella las cuenta siguiendo una secuencia. Observa.

37, 40, 43, 46, 49, …

¿Qué debes hacer para encontrar el número que sigue?

a Sumar 2 al 49.

b Sumar 5 al 49

c Sumar 3 al 49

8.-Un juego tiene varias fichas de tres tamaños diferentes. Observa.

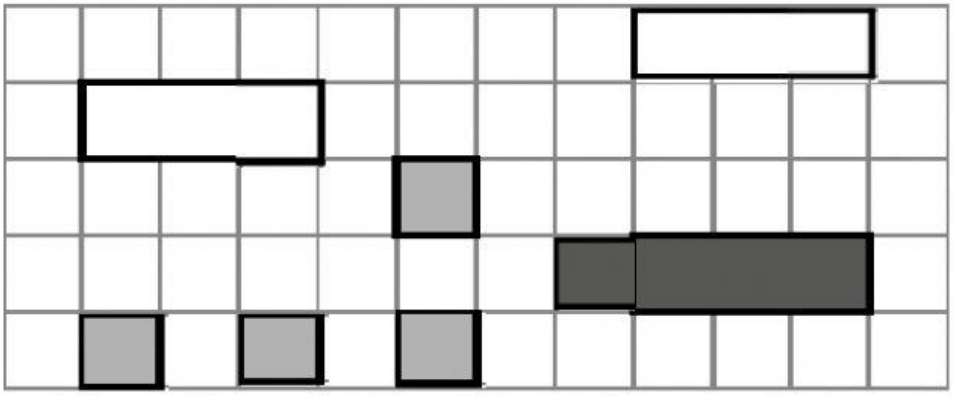

Ahora, combina de formas diferentes las fichas del juego y forma otras dos figuras en los espacios delineados.

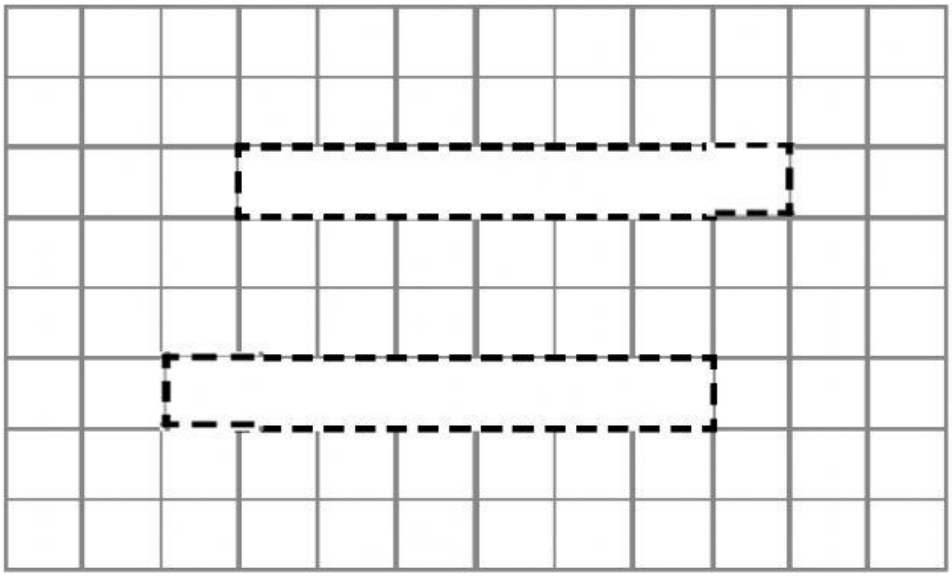

LIVEWORKSHEETS

9.-En el kiosco, se realiza el siguiente canje:

canjea

4 tapitas

por

1 camión de juguete

Jhossymar quiere canjear 5 camiones, ¿cuántas tapitas necesitará?

a 15 tapitas

b 20 tapitas

c 18 tapitas

10. María encuestó a sus compañeros respecto a sus lugares preferidos para pasear. Con los datos, construyó el siguiente pictograma
. Según el gráfico, ¿cuántos estudiantes prefieren ir al circo?

a 12 estudiantes

b 18 estudiantes

c 16 estudiantes



LIVEWORKSHEETS