**A. MATERI (VIDEO)**

**Pelajari Materi Segiempat dari link Youtube berikut**

**Syntac: Salin link youtube**

**B. OPEN ENDED (MP3)**

**Pelajari kasus dari MP3 berikut**

**Syntac: playmp3: (pilih file MP3 dan upload)**

LIVEWORKSHEETS

**C. DROPDOWN**

**Segiempat yang keempat sudutnya siku-siku, dengan panjang sisi-sisi yang berhadapan sama besar dan sejajar merupakan pengertian dari ?**



**Syntac: choose:opsi1/opsi2/*opsi3/dst (jawaban benar diberi tanda * di depan pilihan)**

**D. PILIHAN GANDA**

**Permukaan jam dinding berbentuk persegi dengan panjang sisi 25 cm, keliling permukaan jam dinding tersebut adalah....**

A. 100 cm

B. 225 cm

C. 375 cm

D. 625 cm

**Syntac: select:yes (untuk jawaban benar) dan select:no (untuk jawaban salah)**

**E. CHECK LIST**

**Berikut ini yang merupakan sifat-sifat dari jajar genjang adalah...**
**(checklist jawaban yang benar)**

- Mempunyai 4 titik sudut
- Mempunyai 2 pasang sisi yang sama panjang dan sejajar
- Sudut yang berhadapan mempunyai besar sudut yang
- Mempunyai 2 diagonal yang sama panjang
- Tidak mempunyai simetri putar dan simetri

**Syntac: tick:yes (untuk pilihan benar) dan tick:no (untuk pilihan salah)**

LIVEWORKSHEETS

**F. MENJODOHKAN**

**Jodohkan bangun-bangun segiempat berikut dengan rumus luas yang tepat!**

$L = \frac{1}{2} \times JSS \times t$

$L = s \times s$

$L = a \times t$

$L = p \times l$

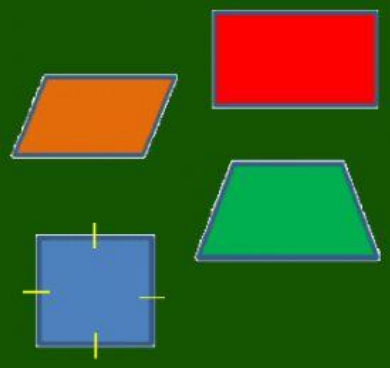

**Syntac: join:1 dipasangkan dengan join:1 pada jawaban yang tepat**

**G. DRAG AND DROP**

**Urutkan bangun-bangun segiempat berikut yang memiliki luas dari yang terbesar ke terkecil**

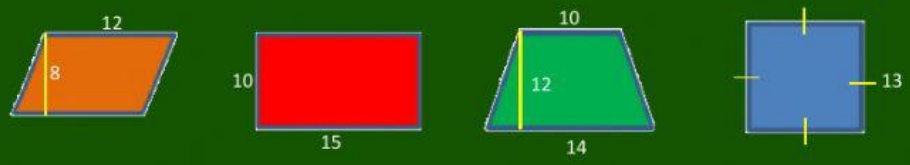


**Syntac: drag:1 (objek yang akan digeser) dicopy dan diganti dengan drop:1 (untuk menempatkan dengan jawaban yang tepat)**

LIVEWORKSHEETS