INSTITUSI LATIHAN KEMAHIRAN BELIA DAN SUKAN

LATIHAN ULANGKAJI
(REVISION ASSESSMENT)

KOD DAN NAMA SUBJEK / SUBJECT'S	UIT 2221 TEKNOLOGI MAKLUMAT				
TAHAP (LEVEL) / KOD KURSUS	2 /		**SEMESTER**	2	
NO DAN TAJUK MODUL / *MODULE TITLE AND NO.*	M:01 PENGENALAN KEPADA PERKAKASAN KOMPUTER M:02 TROUBLESHOOTING KOMPUTER M:03 RANGKAIAN M:04 PENERBITAN MENGGUNAKAN MS PUBLISHER M:05 APLIKASI BLOG				
NO. DAN NAMA SUB MODUL / *SUB MODULE NO. AND NAME*	**01.01 SENIBINA KOMPUTER** **01.02 PERANTI INPUT** **01.03 PERANTI OUTPUT** **01.04 PERANTI STORAN** **01.05 PORT** **02.01 PAPAN UTAMA** **02.02 UNIT PEMPROSESAN PUSAT** **02.03 INGATAN** **02.04 KAD AUDIO** **02.05 KAD GRAFIK** **02.06 PENYELENGGARAAN KOMPUTER** **03.01 TAKRIFAN RANGKAIAN** **03.02 PENGELASAN RANGKAIAN** **03.03 SENIBINA RANGKAIAN** **03.04 TOPOLOGI RANGKAIAN** **03.05 PEMASANGAN RANGKAIAN** **03.06 KONFIGURASI RANGKAIAN** **03.07 PERKAKASAN RANGKAIAN** **03.08 TROUBLESHOOT RANGKAIAN** **04.01 PENGENALAN MS PUBLISHER** **04.02 '*WORKING WITH*' MS PUBLISHER** **04.03 PENERBITAN MS PUBLISER** **05.01 PENGENALAN BLOG** **05.02 MEMBINA BLOG** **05.03 'POSTING' BLOG**				
NAMA CALON/ *CANDIDATE'S NAME*					
NO. KAD PENGENALAN/ *NRIC NUMBER*					
***PENILAIAN KALI KE**	**1**	**2**	**3**	**MARKAH/** *SCORE*:	_____ %
TARIKH/ *DATE*			***KEPUTUSAN/** *RESULT*	**LULUS**	**GAGAL**

Bulatkan pada yang bertanda (*)

UIT 2221 ULANGKAJI

LIVEWORKSHEETS

Arahan kepada calon/ *Instruction to candidate*:

1. Tuliskan nama dan no kad pengenalan anda pada ruangan yang disediakan.
2. Calon tidak dibenarkan membuka kertas soalan sehingga dibenarkan.
3. Calon dikehendaki menjawab semua soalan **kecuali** dinyatakan sebaliknya.
4. Calon tidak dibenarkan merujuk kepada sebarang nota atau buku rujukan.
5. Jawab di atas kertas ini sahaja **kecuali** disediakan kertas jawapan yang lain.
6. Calon dikehendaki menjawab dan menghantar kertas penilaian ini di dalam tempoh masa yang dinyatakan.

Masa / *Time* : 45 MINIT

KERTAS PENILAIAN INI MENGANDUNGI 7 MUKASURAT BERCETAK

UIT 2221 ULANGKAJI

LIVEWORKSHEETS

41. Berdasarkan **Rajah 4**, namakan komponen ini.



Rajah 4

A. RAM
B. ROM
C. PROM
D. EEPROM

42. Tentukan komponen yang diperbuat daripada campuran logam dan plastik untuk melindungi komponen elektronik dalaman komputer daripada mengalami kerosakan.

A. Chief
B. Chase
C. Chassis
D. Chipping

43. Nyatakan komponen yang berfungsi untuk mentafsirkan dan mengeluarkan arahan asas dalam mengawal kebanyakan operasi di dalam komputer.

A. RAM
B. CPU
C. DVD
D. ROM

44. Berikut merupakan contoh-contoh peranti storan**kecuali**...

A. Liang *USB*
B. Cakera Blu-Ray
C. Pemacu Thumbdrive
D. Pemacu Keras Dalaman

UIT 2221 ULANGKAJI

LIVEWORKSHEETS

45. Manakah langkah-langkah yang tepat mengenai penjagaan sesebuah komputer?

I. Membuangfail atau program yang tidak digunakan

II. Memastikan komputer dilengkapi dengan sistem penyejukan

III. Memasang perisian keselamatan komputer seperti periasian antivirus

IV. Sentiasa memastikan perisian aplikasi dan sistem komputer sentiasa dikemaskini

A. I dan II sahaja

B. I dan III sahaja

C. II, III dan IV sahaja

D. I, II, III dan IV

46. Pilih pernyataan yang **tidak benar** mengenai kegagalan komputer disebabkan masalah bekalan kuasa?

A. Kerosakan pada butang suis

B. Kegagalan alat bekalan kuasa ke papan utama

C. Pemasangan peralatan-peralatan komputer yang betul

D. Tiada sambungan antara komputer dengan bekalan kuasa

47. Nyatakan singkatan bagi *CRT*?

A. Catode Ray Tube

B. Cathode Ray Tube

C. Chatode Raiy Tube

D. Catahode Rai Tube

48. Nyatakan punca yang menyebabkan capaian komunikasi rangkaian menjadi semakin perlahan.

A. Kabel terlalu pendek

B. Isyarat wifi yang kuat

C. Sambungan kabel yang longgar

D. Tiada sekatan dalam rangkaian seperti firewall dan proxy

UIT 2221 ULANGKAJI

LIVEWORKSHEETS

49. Apakah liputan kawasan seperti yang dipaparkan pada **Rajah 5**?

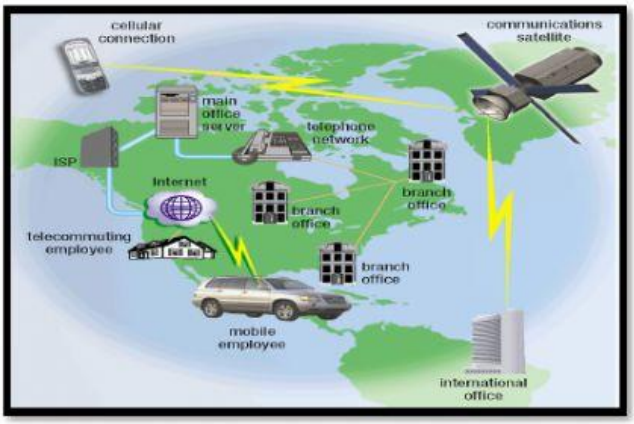

Rajah 5

A. Local Area Network

B. Wide Area Network

C. Personal Area Network

D. Metropolitan Area Network

50. Berikan talian yang menjadi hubungan sementara kepada pengguna yang ingin menggunakan satu atau lebih talian telefon analog untuk berkomunikasi.

A. T1

B. TM

C. DSL

D. Dial-up

51. Tentukan rangkaian yang melibatkan satu atau lebih komputer untuk bertindak sebagai pelayan dan komputer lain akan meminta perkhidmatan pada pelayan.

A. Terpusat

B. Setempat

C. Peer-to-peer

D. Client/ server

52. Apakah yang ditakrifkan dengan koleksi beberapa komputer dan perkakasan yang dihubungkan bersama menggunakan peranti komunikasi dan media penghantaran?

A. Saluran

B. Medium

C. Komputer

D. Rangkaian

UIT 2221 ULANGKAJI

LIVEWORKSHEETS

53. Pernyataan yang manakah **tidak benar** mengenai kebaikan menggunakan rangkaian?

A. Perkongsian e-mail

B. Perkongsian perisian

C. Perkongsian perkakasan

D. Perkongsian data dan maklumat

54. Dalam proses penyelenggaraan rangkaian, anda diminta untuk mengenal pasti perkakasan yang menyediakan titik hubungan terpusat untuk kabel dalam rangkaian yang lebih besar. Apakah perkakasan tersebut?

A. Hub

B. Router

C. Server

D. Gateway

55. Tentukan takrifan yang sesuai untuk **X**.

A. Senibina rangkaian

B. Topologi rangkaian

C. Pengelasan rangkaian

D. Pemasangan rangkaian

56. Anda telah diberi tugasan untuk membuat penyelenggaraan berkaitan rangkaian di dalam sebuah syarikat. Siapakah yang sesuai untuk dirujuk bagi menyelesaikan tugasan tersebut?

I. Jurutera

II. Juruteknik

III. Pengarah Syarikat

IV. Pegawai Teknologi Maklumat

A. I dan II sahaja

B. I dan III sahaja

C. I, II dan IV sahaja

D. I, II, III dan IV

UIT 2221 ULANGKAJI

LIVEWORKSHEETS

57. Nyatakan nama rangkaian seperti yang digambarkan pada **Rajah 6**.

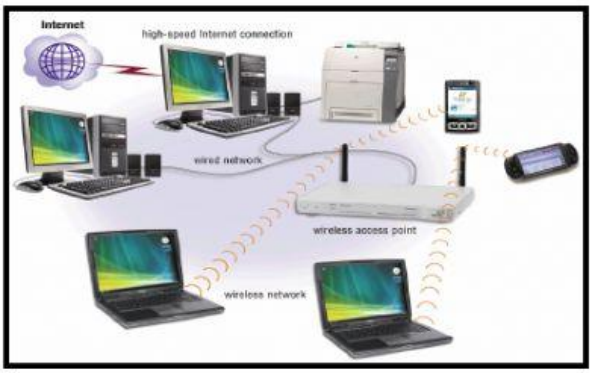

Rajah 6

A. Local Area Network

B. Wides Area Network

C. Personal Area Network

D. Metropolitan Area Network

58. Apakah yang dimaksudkan dengan blog?

A. Laman sosial yang dikendalikan oleh Facebook

B. Sebuah program yang digunakan sebagai tempat untuk melayari internet

C. Aplikasi web yang menyerupai tulisan-tulisan yang dipanggil sebagai posting

D. Surat secara elektronik yang digunakan secara formal atau pun tidak formal

59. Tentukan ciri-ciri yang perlu dititikberatkan untuk menghasilkan blog yang menarik.

I. Mempunyai ruangan carian

II. Menggunakan pilihan warna yang banyak

III. Paparan dan susunan antaramuka blog yang teratur

IV. Menggunakan elemen seperti gambar, animasi dan video

A. I, dan II sahaja

B. I, II dan III sahaja

C. I, III dan IV sahaja

D. I, II, III dan IV

60. Apakah fungsi Blog Perniagaan?

A. Membahaskan tentang sesuatu dan fokus pada perbahasan

B. Mempromosi produk dan perkhidmatan serta menyediakan pengiklanan

C. Memfokuskan tentang kontroversi atau media massa yang tidak konsisten

D. Menceritakan tentang aktiviti harian atau hobi serta memberikan pendapat

UIT 2221 UJIANGKAJI

LIVEWORKSHEETS