LEMBAR KERJA PESERTA DIDIK

(LKPD) DIGITAL

BANGUN DATAR

Nama Peserta Didik :

Kelas :

No.absen :

A. Perhatikan video di bawah ini

B. Kerjakan soal di bawah ini

1. Apakah nama bangun datar di bawah ini?

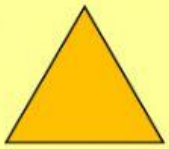

A. Persegi C. Segitiga

B. Persegi Panjang D. Lingkaran

2. Bangun datar dua dimensi yang dibentuk oleh empat buah segitiga siku – siku masing – masing sama besar dengan sudut dihadapanya adalah ….

   a. Jajar genjang b. Persegi c. belah ketupat d. lingkaran

3. Pilihlah nama yang sesuai dengan bangun di bawah ini

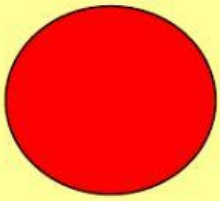





LIVEWORKSHEETS

4. Buatlah garis ke jawaban yang benar



Trapesium

Persegi Panjang

Belah Ketupat

5. Tariklah rumus yang sesuai dengan gambar

Bangun datar	Rumus
	
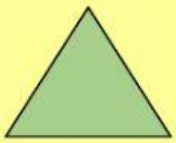	

$L = \frac{1}{2} \times a \times t$

$L = \pi \times r^2$

$L = p \times l$

$L = p \times l \times t$

LIVEWORKSHEETS