LKPD LURING

TEMA 1 SELAMATKAN MAKHLUK HIDUP DI SEKITAR KITA

SUB TEMA 3 PELESTARIAN HEWAN DAN TUMBUHAN

Pembelajaran 3

KELOMPOK : .....

KELAS : .....

ANGGOTA :.....

.....

Petunjuk Umum:

1. Berdoalah sebelum mengerjakan!
2. Bacalah langkah-langkah kegiatan dengan teliti!
3. Jika mengalami kesulitan, bertanyalah kepada guru!

LIVEWORKSHEETS

LKPD I

MENGIDENTIFIKASI PERSAMAAN DAN PERBEDAAN PERKEMBANGBIAKAN TUMBUHAN

Perhatikan tabel Perkembang Biakan Tumbuhan Berikut!

No	Jenis Perkembangbiakan	Contoh
	Perkembangbiakan Generatif	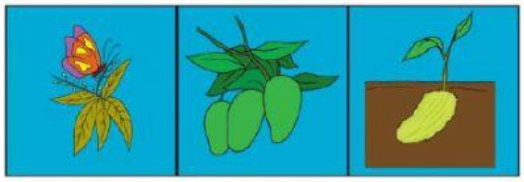
	Perkembangbiakan vegetatif Alami	
	Perkembangbiakan Vegettaif Buatan	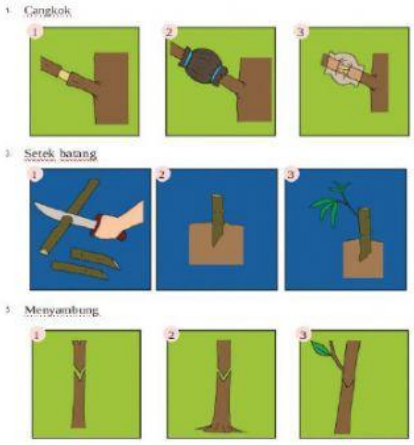 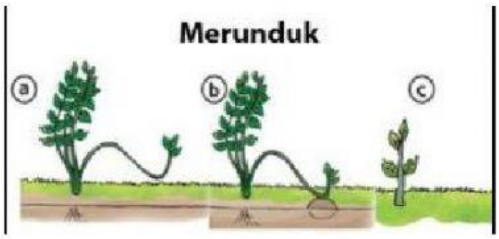

LIVEWORKSHEETS

Setelah menyaksikan video dan mengamati tabel, isilah diagram berikut dengan pernyataan yang sesuai!

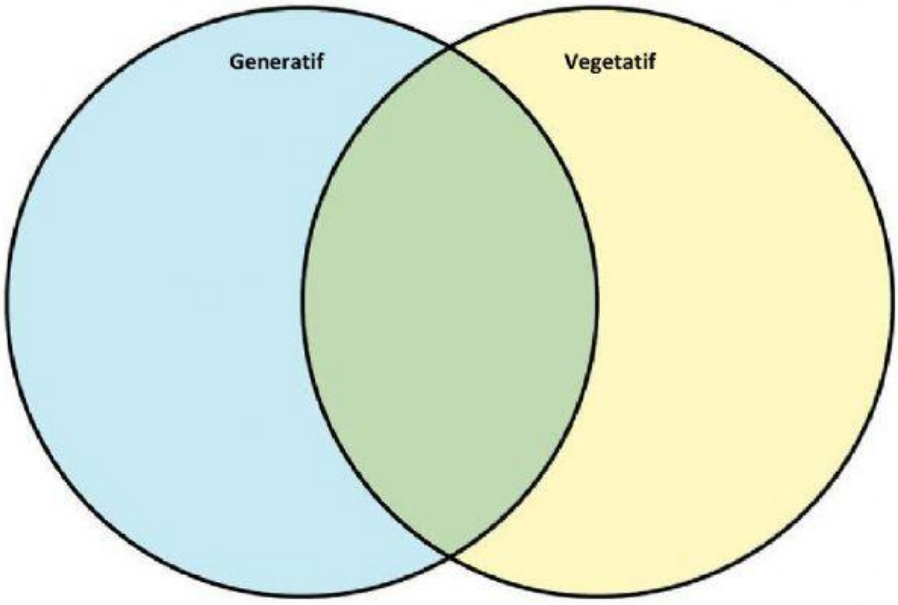

Alat perkembangbiakan berupa bunga

Alami dan bantuan manusia

Melaui proses penyerbukan

Calon individu berupa biji

Tanpa proses penyerbukan

Tumbuhan berbiji

Tumbuhan berbiji dan tidak berbiji

Individu baru berasal dari bagian tubuh induknya

Alat perkembangbiakan dari bagian tumbuhan induk

Alami dan buatan

LIVEWORKSHEETS

LIVEWORKSHEETS