15 Observa la pulsera de semillas que está elaborando Silvia.

Para seguir la secuencia de la pulsera, ¿qué grupo ordenado de semillas debe poner Silvia?

a

b

c

d

LIVEWORKSHEETS

16 En el kiosco, se realiza el siguiente canje:

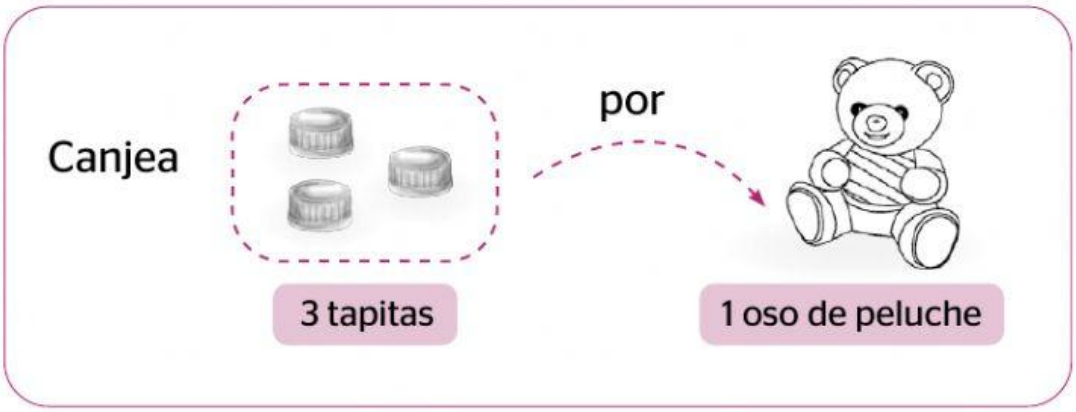

Jaime quiere canjear 4 osos de peluche, ¿cuántas tapitas necesitará?

a 3 tapitas.

b 4 tapitas.

c 7 tapitas.

d 12 tapitas.

LIVEWORKSHEETS

17 Esta figura se ha formado con siete fichas de madera.

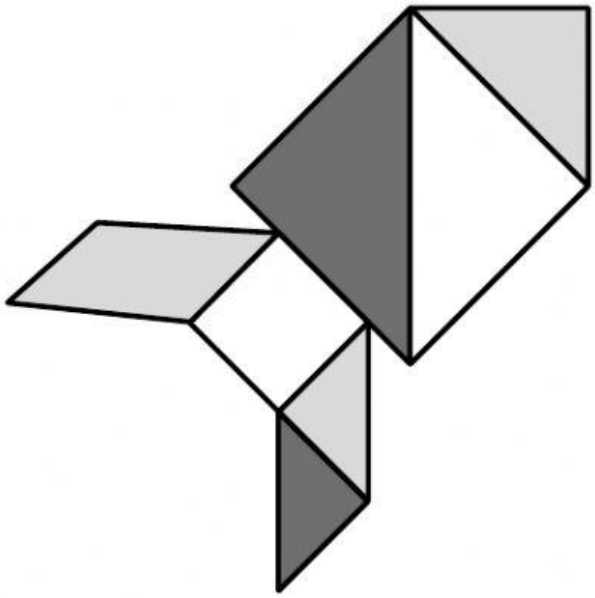

En la figura, marca una X en cada una de las fichas con **forma de triángulo**.

LIVEWORKSHEETS

18 Observa esta caja.

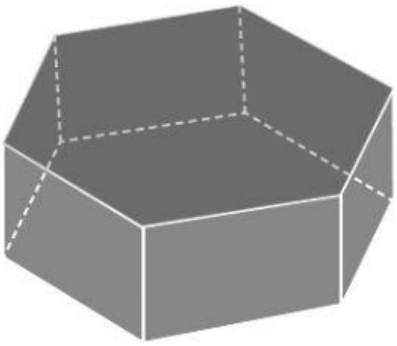

¿Cuál de estas figuras **NO** corresponde a la forma de las caras de la caja?

a

b

c 

LIVEWORKSHEETS

19 Observa la figura que se ha dibujado en la cuadrícula.

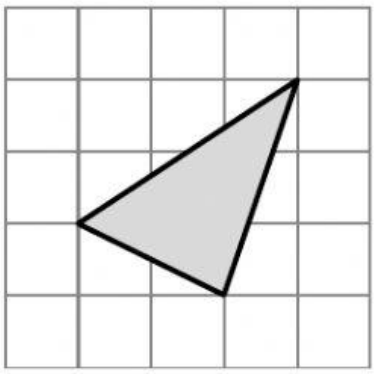

Melisa dice: **"Esa figura NO es un triángulo porque está volteada"**.

¿Es correcto lo que dice Melisa?

Sí ☐ No ☐

Explica aquí tu respuesta.

LIVEWORKSHEETS

20 Esta es la casa de Bimbo. Tiene una entrada y una ventana.

Desde la posición en la que se encuentra Bimbo en la imagen, ¿qué parte de la casa se observa?

a

b

c

LIVEWORKSHEETS

21 Observa esta lámina rectangular. En todo su contorno, se están colocando palitos de madera del mismo tamaño.

¿Cuántos palitos de madera se usarán en total?

a 7 palitos.

b 11 palitos.

c 14 palitos.

d 16 palitos.

LIVEWORKSHEETS

22 Este es el plano de una habitación. La superficie del piso se cubrirá con losetas de forma cuadrada del tamaño que se muestra.

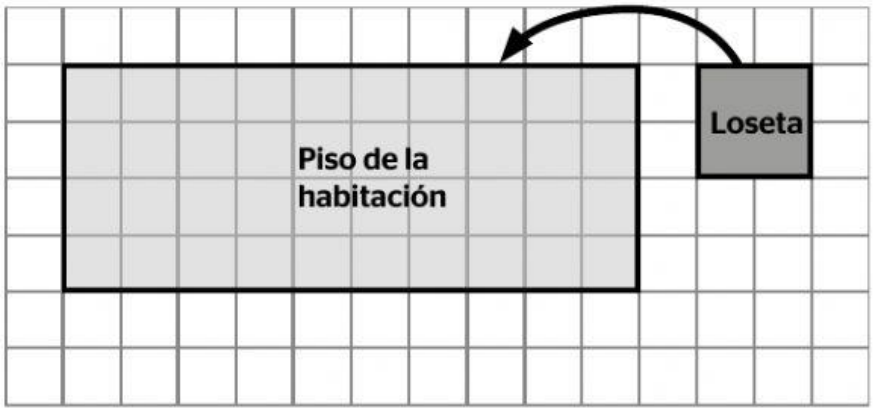

¿Cuántas losetas se necesitarán para cubrir todo el piso de la habitación?

a 10 losetas.

b 5 losetas.

c 4 losetas.

d 40 losetas.

LIVEWORKSHEETS

23 Un equipo de básquet anota canastas de 1, 2 o 3 puntos según el tipo de lanzamiento. El entrenador registró estos puntos en la pizarra. Observa.



Ahora, organiza esta información en la siguiente tabla:

Tipo de lanzamiento	**Cantidad**
1 punto	
2 puntos	
3 puntos	
TOTAL	

LIVEWORKSHEETS