Distribuição

1 Fábio pediu ajuda a Bruno para distribuir sua coleção de brinquedos antigos entre seus sobrinhos.

- Quantos brinquedos antigos sobrarão se cada sobrinho receber 2 brinquedos?

- Quantos brinquedos Fábio poderá distribuir para cada sobrinho de modo que não sobre nenhum?

2 Camila entregou 4 pacotes de figurinhas para cada uma de suas 6 amigas. Quantos pacotes de figurinhas ela tinha para distribuir entre suas amigas?

LIVEWORKSHEETS

3 De que modo você distribuiria 18 balas para 4 pessoas?

- Se cada pessoa precisasse receber a mesma quantidade de balas, como você faria a distribuição?

4 **Roberto distribuiu igualmente 6 canetas entre seus 3 netos. Com quantas canetas cada neto ficou?**

A distribuição das canetas foi realizada em 2 etapas, conforme mostrado a seguir.

1ª etapa

Roberto distribuiu uma caneta para cada um de seus netos.

Roberto tinha 6 canetas.

Ele **distribuiu** 3 canetas.

Restaram ____ canetas.

2ª etapa

Novamente, Roberto distribuiu uma caneta para cada um de seus netos.

Roberto ainda tinha 3 canetas.

Ele **distribuiu** as 3 canetas.

Restou ____ caneta.

Cada neto ficou com ____ canetas.

LIVEWORKSHEETS

Metade

1 Sobre a mesa havia 10 iogurtes. Os filhos de Cícera tomaram metade dessa quantidade.

- Quantos iogurtes eles tomaram?

Havia 10 iogurtes sobre a mesa.

Eles tomaram ____ iogurtes.

10 é o **dobro** de ____.

5 é a **metade** de ____

2 **Dirceu foi à feira e comprou 12 maçãs. Metade das maçãs era verde, e a outra metade, vermelha. Use a letra X para marcar as maçãs verdes e a letra V para marcar as maçãs vermelhas.**

a) Quantas maçãs vermelhas Dirceu comprou? ____

b) Quantas maçãs verdes Dirceu comprou? ____

3 Marque com um **X** a resposta correta.

- Em qual das figuras abaixo a quantidade de quadrinhos pintados não corresponde exatamente à metade da quantidade total de quadrinhos?



☐ ☐ ☐ ☐

LIVEWORKSHEETS

Terça parte

1 Há muitas crianças na fila querendo brincar no gira-gira do parque.
Um terço delas poderá entrar na próxima vez.

- Quantas crianças brincarão na próxima vez?

Há _____ crianças na fila.

Na próxima vez, brincarão ___4___ crianças.

___12___ é o **triplo** de _____

___4___ é um **terço** de _____

2 **Observe as imagens e responda.**

a)

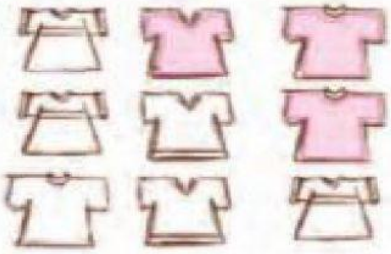

_____ é um terço de ___9___.

Um terço de 9 camisetas são _____ camisetas.

b)



___10___ é um terço de _____

Um terço de 30 bolinhas são _____ bolinhas.

3 Aline comprou 24 peras na feira e quando chegou em casa usou a terça parte dessas peras para fazer um doce. Quantas peras Aline usou?

LIVEWORKSHEETS

4 Observe a ilustração e complete.

Há ____ pulseiras para repartir igualmente entre as ____ meninas.

____ é um terço de 15.

Um terço de 15 pulseiras são ____ pulseiras.

Cada menina ficará com ____ pulseiras.

5 Calcule e, depois, encontre cada resultado no quadro de letras ao lado.

a) Um terço de seis. ____

b) Um terço de dezoito. ____

c) Um terço de vinte e um. ____ ____

d) Um terço de três. ____

6 Os jabutis Mole, Lento e Vagaroso estavam dando voltas na praça.

a) De acordo com as dicas ao lado, quantos metros andou o jabuti Lento?

Dicas

- Mole percorreu 6 metros.
- Vagaroso andou 3 metros a mais que Mole.
- Lento andou um terço da distância percorrida por Vagaroso.



Lento andou ____ metros.

b) No dia seguinte, Mole percorreu 12 metros e Vagaroso um terço da distância percorrida por Mole. Quantos metros Vagaroso percorreu?

LIVEWORKSHEETS