Họ tên:_____ Ngày: 13/07

Ôn tập phép cộng, trừ phạm vi 1,000

1. *Tính.*



$142 + 75 =$



$404 + 398 =$



$537 - 21 =$



$826 - 155 =$

2. *Điền Đ với phép tính đúng, S với phép tính sai.*

$341 + 267 = 508$ → ☐

$184 + 38 = 222$ → ☐

$716 - 51 = 206$ → ☐

$951 - 706 = 145$ → ☐

3. *Để tìm kết quả của phép tính:* $623 - 231$, *hai bạn đã làm như sau:*

Hỏi bạn nào tính đúng?

A. Mai

B. Hùng

$623 - 231 = 392$

Hùng

$623 - 231 = 492$

Mai

LIVEWORKSHEETS

Bảng dưới đây cho biết lượng calo của các món ăn.

Món ăn	**Lượng calo**
Pizza	155
Mỳ Ý	196
Khoai tây lắc	182
Xúc xích	227
Salad	45

Sử dụng bảng trên để trả lời các câu hỏi từ 4 đến 7.

4. *Tổng lượng calo của pizza và khoai tây lắc là bao nhiêu?*

_____ ◯ _____ = _____

Tổng lượng calo của pizza và khoai tây lắc là _____ *calo.*

5. *Mỳ Ý nhiều hơn salad bao nhiêu calo?*

_____ ◯ _____ = _____

Mỳ Ý nhiều hơn salad _____ *calo.*

6. *Tổng lượng calo của khoai tây lắc, xúc xích và salad là bao nhiêu?*

A. 445 *calo* B. 454 *calo* C. 354 *calo* D. 444 *calo*

7. *Tổng lượng calo của hai món là* 227. *Tìm tên hai món ăn.*

A. *Xúc xích*

B. *Mỳ Ý và khoai tây lắc*

C. *Mỳ Ý và salad*

D. *Khoai tây lắc và salad*

8. *Điền số vào ô trống.*

$$278 \xrightarrow{+\,472} \square \xrightarrow{-\,\square} 710$$

LIVEWORKSHEETS