NAMA MURID : _____

JAWAB SEMUA SOALAN

1) Rajah dibawah menunjukkan gabungan sebuah segiempat tepat dan sebuah segitiga.

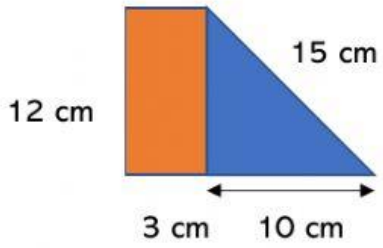

Berapakah perimeter, dalam cm, seluruh rajah itu?

40 cm	42 cm	43 cm

2) Rajah dibawah menunjukkan gabungan bentuk dua buah segi tiga yang sama dan sebuah segi empat tepat.

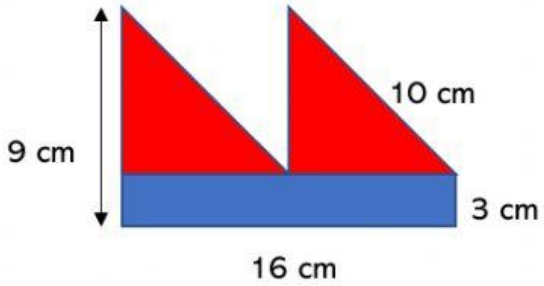

Berapakah perimeter, dalam cm, seluruh rajah itu?

58 cm	54 cm	50 cm

3) Rajah dibawah menunjukkan sebuah segiempat tepat.

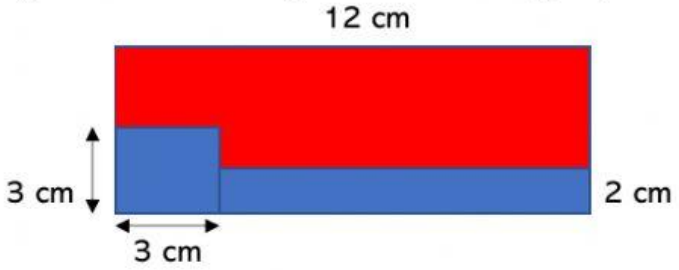

Hitung perimeter, dalam cm, bagi kawasan yang berwarna biru.

30 cm	36 cm	40 cm

LIVEWORKSHEETS