Escola Municipal Herádio Fonseca Barroso

Data: __/__/__ Turma: 2ºano

Professora: Cineide

Estudante: _____

MATEMÁTICA

Matemática e Meio Ambiente limpo

As crianças da sala da professora Isabel, combinaram de formar grupos para juntar todo o lixo da escola. Hoje é a vez do "grupo 1", que é formado por Renata, Renan, Rafael, Elizabete e Aisha.

Observe que cada criança ficou responsável por um tipo de lixo. Conte e registre a quantidade que cada um juntou.

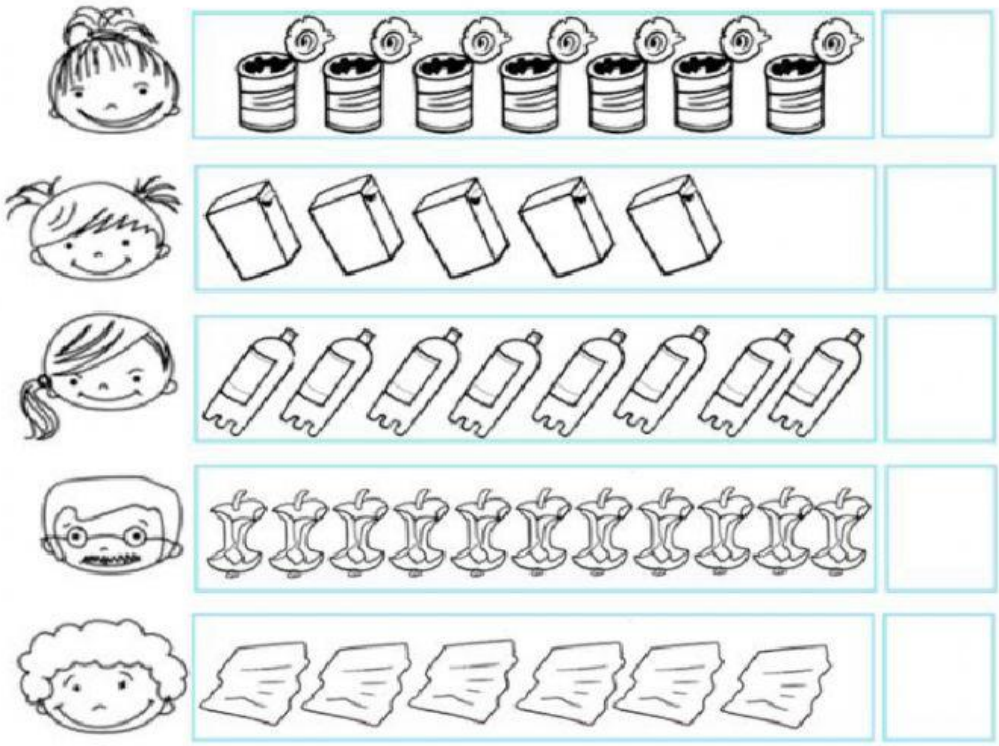

LIVEWORKSHEETS

1- Vamos descobrir qual o tipo de lixo cada criança ficou responsável!

Vamos rimar para encontrar?

a) Renan escolheu a

b) Renata escolheu a

c) Rafael escolheu o

d) Elizabete escolheu o

e) E Aisha escolheu a

caixa – pet – maçã – lata – papel

2 - Agora escreva o nome de cada criança.



3 - Responda de acordo com a tabela de lixo recolhido pelas crianças.

a) De todas as crianças, quem recolheu mais lixo?

b) Quem recolheu menos lixo?

c) Qual a quantidade de lixo, recolheram as três meninas juntas?

d) Qual a quantidade de lixo, recolheram os dois meninos juntos?

d) Quem recolheu mais lixo, foram:

( ) as meninas ( ) os meninos

LIVEWORKSHEETS

4– Somando os recicláveis!

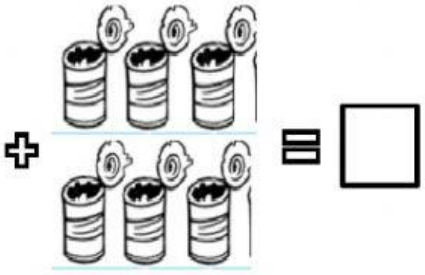

OU 3 + 3= _____



OU 5 + 5 = _____

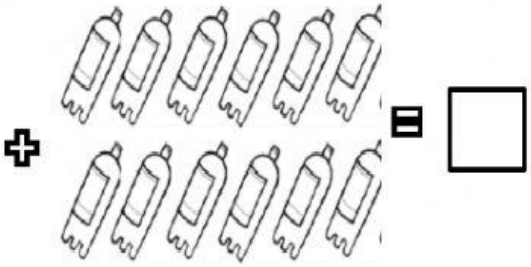

6 + 6 = _____

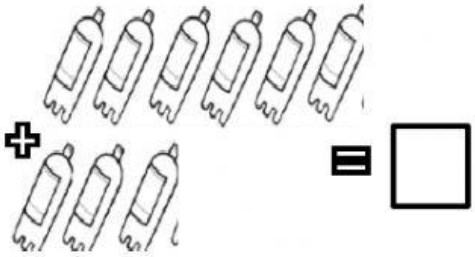

6 + 3 = _____

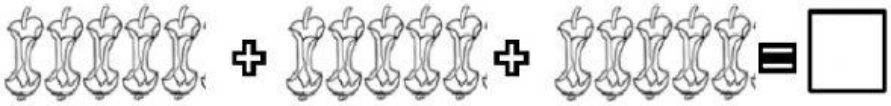

5 + 5 + 5 = _____

5 – Os numerais abaixo são os resultados das somas dos recicláveis. Escreva como se lê

15

9

10

6

12

LIVEWORKSHEETS