Tandakan (✓) jawapan yang betul.

Rujukan Buku Teks
Unit 6; m.s. 114 – 115

1. Mengapakah Aisyah dapat mendengar bunyi radio?



Bunyi bergerak ke semua arah	◯
Bunyi boleh dipantulkan	◯

2. Mengapakah gema terhasil apabila Haikal menjerit di dalam bilik itu?

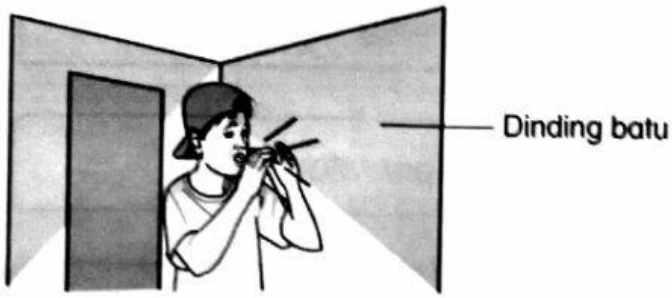

Bunyi dibiaskan	◯
Bunyi boleh dipantulkan	◯

Skor /2

LIVEWORKSHEETS

Rajah di bawah menunjukkan satu fenomena pantulan bunyi.

Rujukan Buku Teks
Unit 6; m.s. 116 – 117



(a) Apakah alat yang digunakan dalam rajah di atas? Bulatkan jawapan yang betul.

Ultrasonik	Sonar	Gema

(b) Bagaimanakah alat yang dinyatakan di (a) berfungsi? Tandakan (✓) jawapan yang betul.

Mengeluarkan bunyi bising	◯
Menggunakan prinsip pantulan bunyi	◯
Mengesan bunyi daripada sekumpulan ikan	◯

(c) Perkataan di bawah merupakan contoh fenomena pantulan bunyi yang lain. Lengkapkan.

G		M	

Skor /3

LIVEWORKSHEETS