Elaboração: Nathália Paternostro

Escola: _____

Aluno (a): _____

Turma: _____

EXERCÍCIOS COM MAPAS

1- Observe o mapa dos continentes e em seguida arraste o nome de cada um deles ao local correspondente:

MAPA MUNDI - CONTINENTES

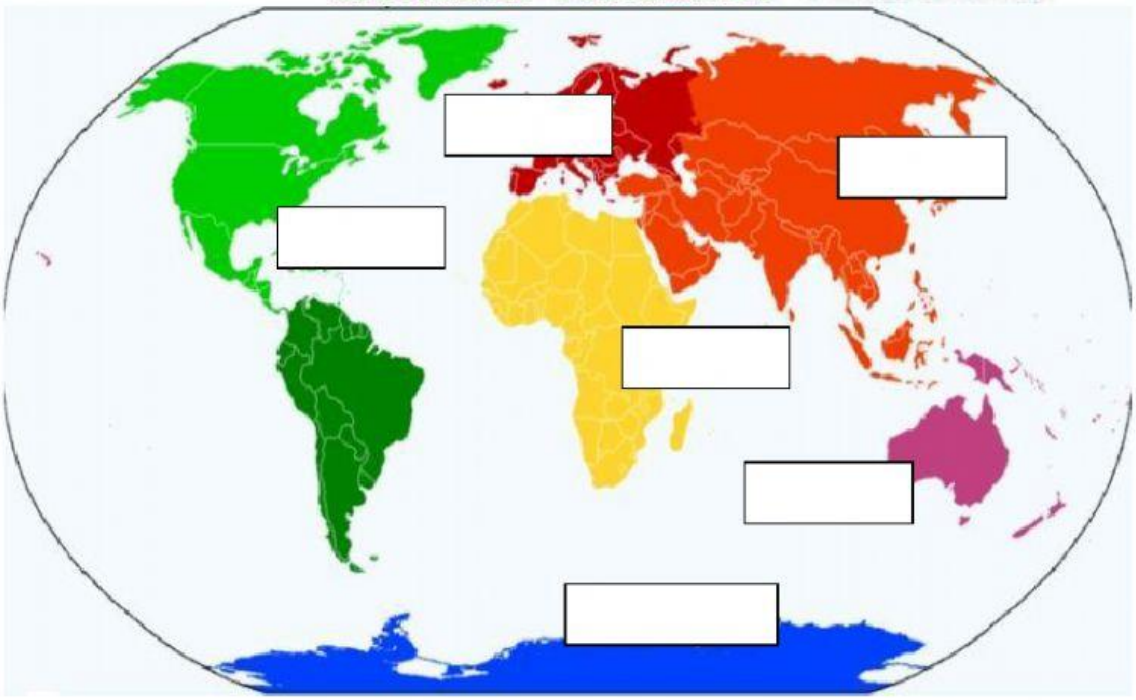

América	Europa	Oceania	Ásia	África	Antártica

LIVEWORKSHEETS

2- Observe o planisfério e em seguida arraste o nome de cada Oceano ao local correspondente:

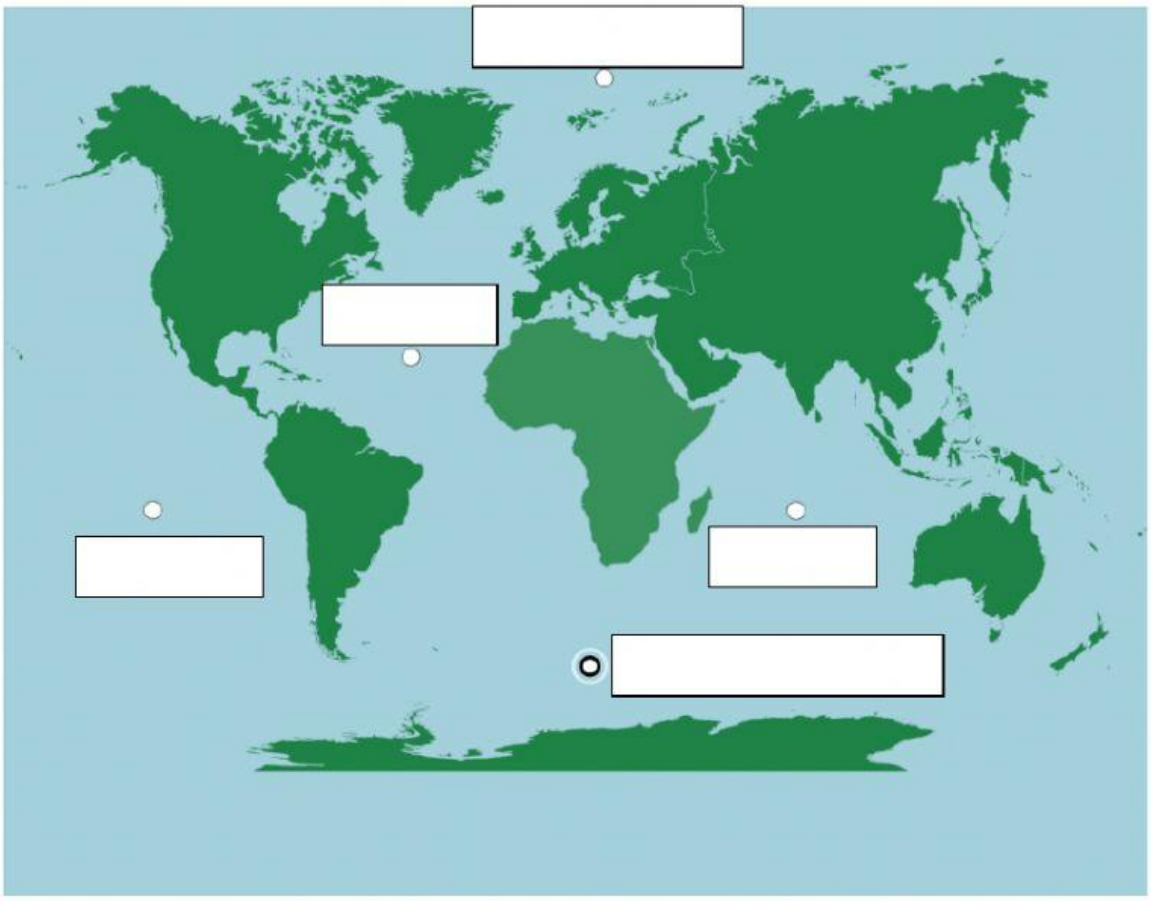

Glacial Antártico	**Atlântico**	**Índico**	**Glacial Ártico**	**Pacífico**

3- Relacione a primeira coluna com a segunda referente ao tipo de mar:

A. Mar Cáspio ( ) **Mar Aberto**

B. Mar da China ( ) **Mar interior**

C. Mar Mediterrâneo ( ) **Mar fechado**

LIVEWORKSHEETS

4- Quanto ao curso de um rio arraste os nomes correspondentes a cada parte:



Afluente	Foz	Margem	Leito	Nascente

5- Observe os Gráficos a seguir:

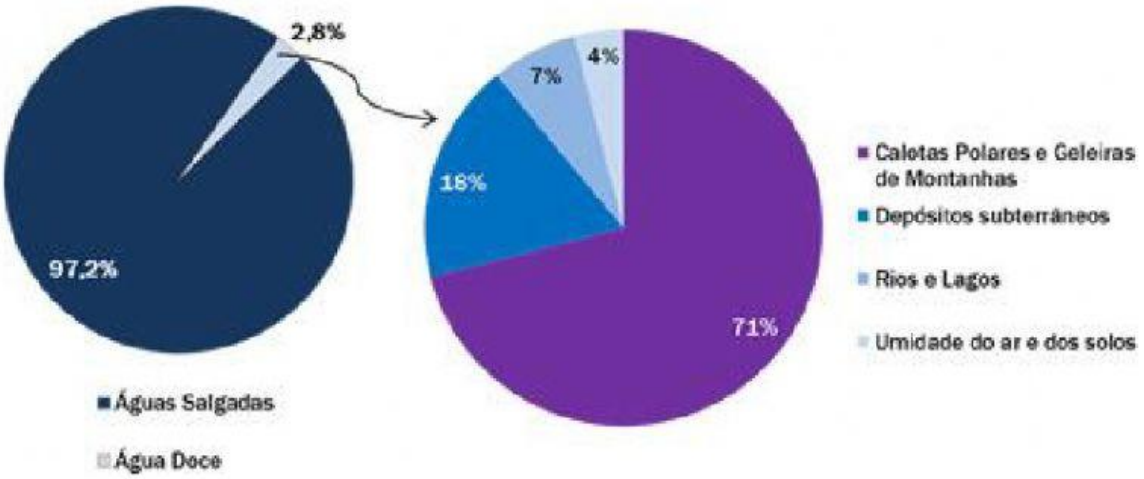

Adaptado de VESENTINI, José William. *Geografia: o mundo em transição*. São Paulo: Editora Ática, 2012.

LIVEWORKSHEETS

Com base nas informações dos gráficos e em seus conhecimentos sobre a distribuição e utilização da água no mundo, assinale V para verdadeiro e F para falso:

( ) **Apesar do quantitativo reduzido de água potável no mundo, sua distribuição é quase igualitária em todo o globo, caso contrário não haveria vida.**

( ) **O Brasil é um país privilegiado por ter a maior reserva de água do mundo, bem distribuída em seu território.**

( ) **A quantidade de água disponível no mundo não será um problema, haja vista que se trata de um recurso natural renovável.**

( ) **A água vem provocando algumas guerras e deve continuar sendo um importante elemento geopolítico no século XXI.**

( ) **A difusão e a propagação em larga escala das técnicas de dessalinização da água do mar vêm se configurando como importantes alternativas para combater a escassez desse recurso no planeta.**

LIVEWORKSHEETS