NAMA:_____ **KELAS:**_____

LEMBARAN KERJA

MATEMATIK TAHUN 6

KOORDINAT

1. *(a)* Rajah 6a menunjukkan Q pada satu satah Cartes.

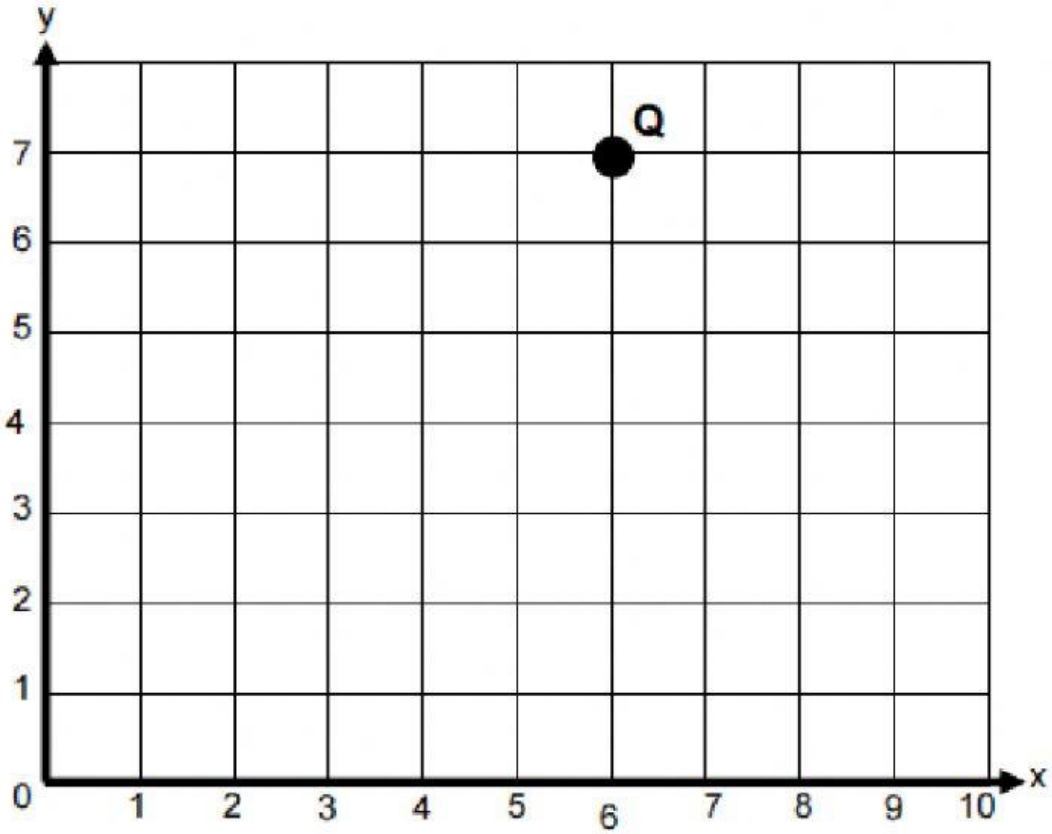

Rajah 6

Nyatakan koordinat bagi titik Q.

Q(_____ , _____)

LIVEWORKSHEETS

2. Rajah menunjukkan 4 buah rumah pada satu satah cartes.

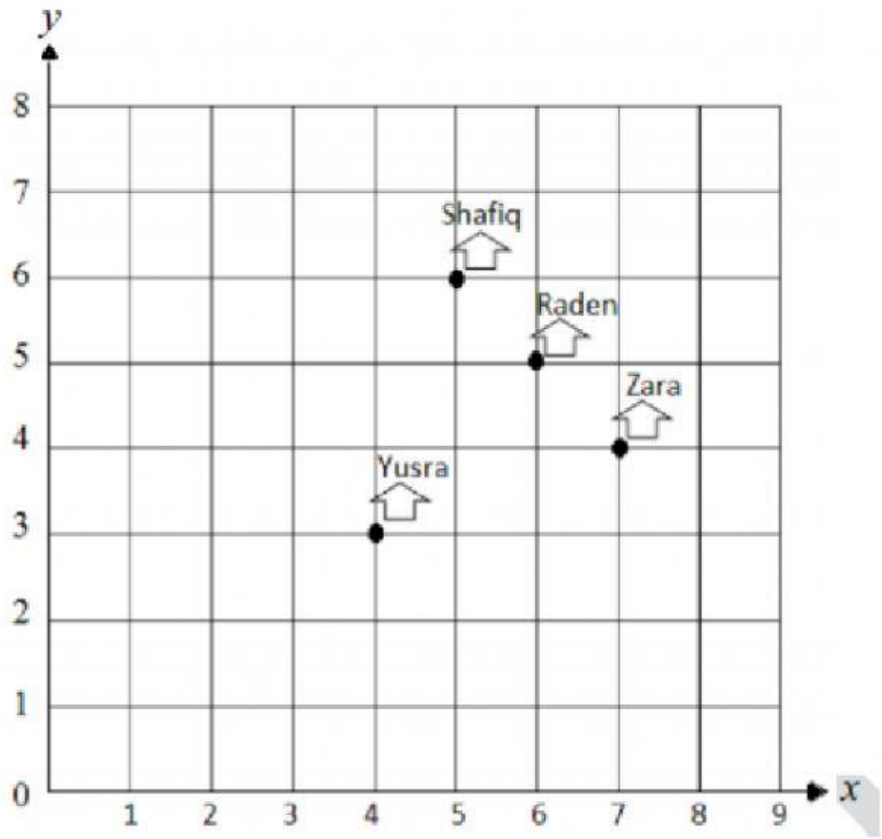

Nyatakan koordinat bagi setiap rumah tersebut.

Yusra

Zara

Raden

Shafiq

LIVEWORKSHEETS

3. **Rajah menunjukkan kedudukan titik A,B,C dan D pada suatu satah cartes.**

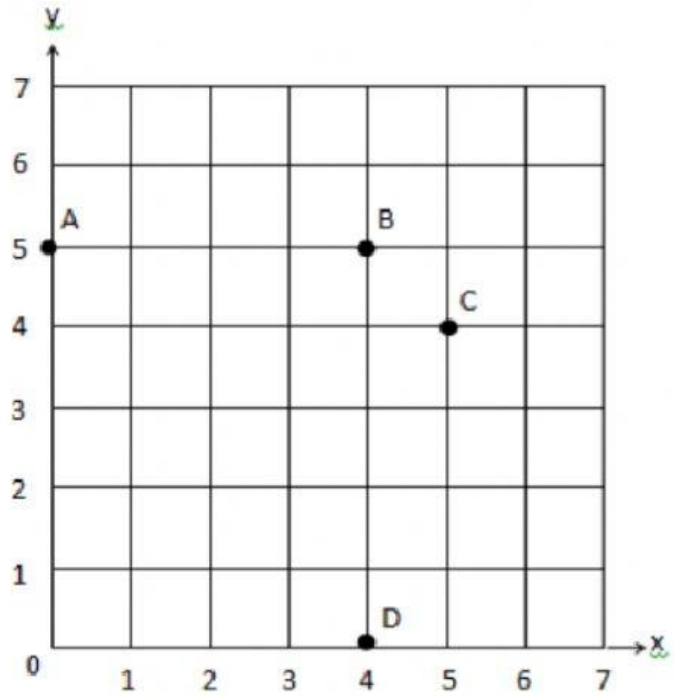

(a) Antara titik-titik bertanda A, B, C dan D, yang manakah terletak pada koordinat (4,5)?

Jawapan: ☐

(b) **Tulis jarak mengufuk dan mencancang di antara titik berikut:**

Antara 2 titik	Jarak mengufuk (unit)	Jarak mencancang (unit)
A ke C		
B ke D		
C ke D		

LIVEWORKSHEETS

4. Rajah 3 ialah satah Cartes yang menunjukkan kedudukan rumah Najw

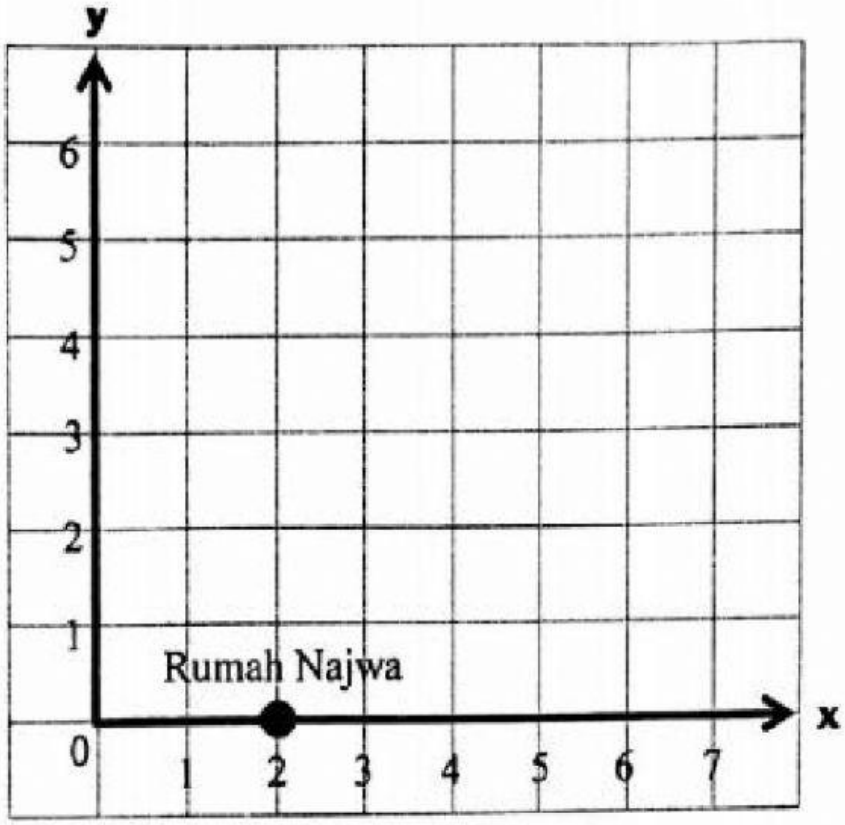

Rajah 3

(a) Tuliskan koordinat rumah Najwa.

(b) Dari rumahnya, Najwa telah pergi ke sebuah klinik yang terletak 4 unit mengufuk dan 5 unit mencancang.

Tuliskan koordinat klinik tersebut.

LIVEWORKSHEETS